## Exerciții recapitulative

• Determină numărul rațional $x$, știind că figurile geometrice de mai jos au același perimetru.

a)

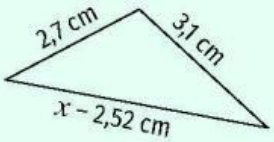


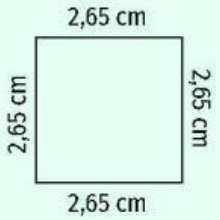


b)

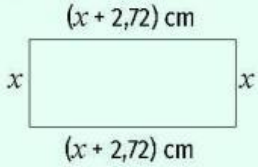


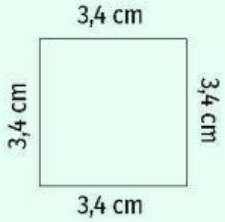


**1.** Reprezintă pe axa numerelor următoarele numere raționale:

a) $\frac{2}{3}, -\frac{3}{4}, -\frac{5}{6}, \frac{7}{8}, \frac{1}{2}, -1$;

b) $-\frac{3}{2}, -1, \frac{4}{3}, 1\frac{1}{2}, \frac{4}{3}$;

c) 0,2; -1,5; 1,3; 0,8; -0,4; -0,1;

d) -1,2; $-\frac{1}{2}$; 2; 1,2; -0,8; $-\frac{3}{2}$.

**2.** Se consideră mulțimea $A = \left\{-3; -\frac{5}{2}; 1\frac{1}{2}; 1,2; -\frac{3}{2}; 1,(3); 2; 0,5; 0; -\frac{1}{6}\right\}$.

a) Determină mulțimile: $A \cap \mathbb{Z}$, $A \cap \mathbb{N}$, $A \cap \mathbb{Q}_-$, $A \cap \mathbb{Q}_+$, $A \setminus \mathbb{N}$, $A \setminus \mathbb{Z}$, $A \cap (\mathbb{Q} \setminus \mathbb{Z})$, $A \cap (\mathbb{Z} \setminus \mathbb{N})$.

b) Reprezintă pe axa numerelor elementele mulțimii A.

c) Ordonează descrescător elementele mulțimii A.

d) Determină elementele mulțimilor B, C, D și E, unde $B = \{y \mid y \in \mathbb{Q}, y$ este opusul numărului rațional $x, x \in A\}$, $C = \{y \mid y = |x|, x \in A\}$, $D = \{y \mid y = x^2, x \in A\}$, $E = \{y \mid y = x^{-1}, x \in A, x \neq 0\}$.

**3.** a) Determină coordonatele punctelor A, B, C, D și E reprezentate pe axa numerelor din figura 1:

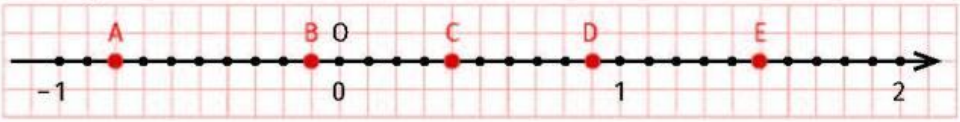


**Figura 1**

b) Reprezintă pe axa numerelor din figura 2 numerele raționale 0, 1, -1, $-\frac{2}{3}, \frac{1}{3}, \frac{5}{6}, -\frac{1}{2}$.

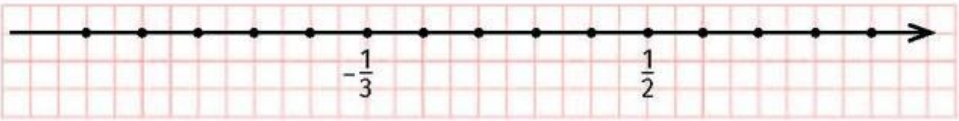


**Figura 2**

**4.** Scrie ca fracții zecimale următoarele fracții ordinare:

a) $\frac{211}{10}, \frac{57}{100}, \frac{2352}{1000}$; b) $\frac{21}{5}, \frac{17}{2}, \frac{31}{50}$; c) $\frac{1}{3}, \frac{4}{9}, \frac{5}{7}$; d) $\frac{1}{15}, \frac{3}{14}, \frac{5}{22}$.

**5.** Scrie ca fracții ordinare ireductibile următoarele fracții zecimale:

a) 2,21; 4,3; 7,253; 0,2;

b) 1,(6); 3,(15); 4,(161); 0,(4);

c) 1,2(3); 2,21(3); 1,2(90); 0,31(21).

**6.** Calculează:

a) $\frac{1}{2} + \frac{1}{3} + \frac{1}{6}$;

b) $\frac{2}{15} - \frac{5}{3} + \frac{7}{10}$;

c) 7,(01) – 8,(03) + 0,(3);

d) 3,(25) + $\frac{1}{4}$ – 3,7(1);

e) $\frac{5}{16} \cdot \left(-\frac{64}{10}\right)$;

f) $\frac{26}{15} \cdot \left(-\frac{7}{13}\right) \cdot \left(-\frac{10}{3}\right)$;

g) $2\frac{1}{3} : \left(-\frac{7}{3}\right)$;

h) $(-15) : \left(-\frac{13}{5}\right)$.

**7.** Compară numerele raționale $a$ și $b$:

a) $a = \left(-\frac{11}{35}\right) + \left(-\frac{15}{14}\right) - \frac{11}{10} - \left(-\frac{7}{5}\right) - \frac{1}{70}$, $b = \left(-2\frac{1}{24}\right) \cdot \left(-\frac{15}{14}\right) + \left(-\frac{15}{8}\right) - \frac{11}{12} : \left(-\frac{44}{9}\right)$;

b) $a = \left[2,(1) - \frac{28}{18} : 3,5\right] : [-3,(8)]$, $b = 3\frac{1}{4} - 2,75 - 4,5 - \left(-3\frac{1}{8}\right) + (-2,25)$;



LIVEWORKSHEETS