MAGNET

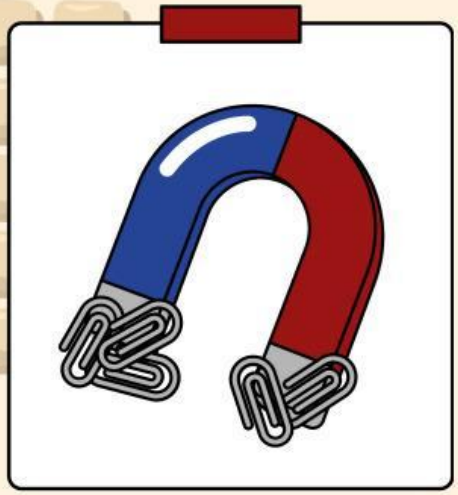

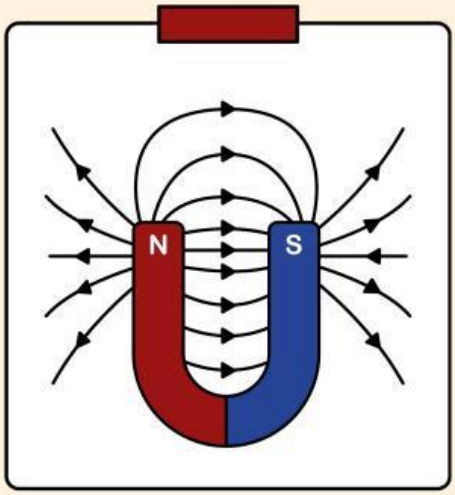

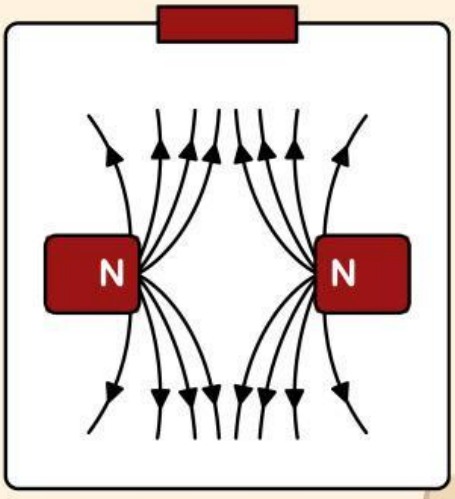

Nama: _____

Kelas: _____

LIVEWORKSHEETS

PILIHAN GANDA

Pilihlah jawaban yang paling tepat dengan memberi tanda (✓) di huruf A, B, C, atau D!

1. **Magnet memiliki dua kutub yaitu...**
   A. Utara dan Timur
   B. Selatan dan Utara
   C. Timur dan Barat
   D. Atas dan Bawah
2. **Kutub magnet yang sejenis jika didekatkan akan...**
   A. Saling tarik
   B. Saling diam
   C. Saling tolak
   D. Menyatu
3. **Gaya magnet paling kuat terdapat pada...**
   A. Tengah magnet
   B. Sisi magnet
   C. Kutub magnet
   D. Permukaan magnet
4. **Benda berikut yang dapat ditarik magnet adalah...**
   A. Plastik
   B. Besi
   C. Karet
   D. Kayu
5. **Alat berikut yang menggunakan prinsip elektromagnet adalah...**
   A. Kipas angin
   B. Buku tulis
   C. Gelas
   D. Sendok kayu

LIVEWORKSHEETS

SOAL ESSAI

Jawablah pertanyaan berikut dengan jawaban yang lengkap!

1. **Jelaskan perbedaan antara magnet alam dan magnet buatan!**

   _____

   _____

2. **Sebutkan tiga cara membuat magnet buatan!**

   _____

   _____

3. **Bagaimana cara menghilangkan sifat kemagnetan suatu benda?**

   _____

   _____

4. **Jelaskan manfaat magnet dalam kehidupan sehari-hari!**

   _____

   _____

5. **Apa hubungan antara magnet dengan arus listrik?**

   _____

   _____

LIVEWORKSHEETS