E-LKPD

MATEMATIKA

BANGUN DATAR

Disusun Oleh: Muhamad Saefuloh

LIVEWORKSHEETS

E-LKPD

MATEMATIKA: BANGUN DATAR

I. PERHATIKAN VIDEO BERIKUT INI:

II. MATERI BANGUN DATAR:

III. MATERI BANGUN DATAR:

LIVEWORKSHEETS

E-LKPD

MATEMATIKA: BANGUN DATAR

1. **Isilah pertanyaan berikut ini dengan benar!**

1. Apa nama bangun datar yang memiliki dua pasang sisi sejajar ?
2. Apa nama bangun datar yang memiliki satu sisi melengkung ?
3. Apa nama bangun datar yang memiliki empat sudut siku-siku ?
4. Sebutkan jenis-jenis bangun datar berdasarkan sudutnya ?
5. Sebutkan contoh bangun datar yang dapat dibentuk dari dua segitiga ?

2. **Luas dan Keliling bangun datar pada gambar dibawah ini adalah ....**

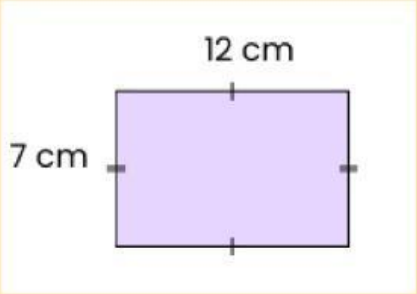

3. **Yang bukan merupakan ciri-ciri bangun datar persegi adalah**

4. **Manakah pernyataan yang benar berdasarkan hasil berikut ini ?**

LIVEWORKSHEETS

E-LKPD

MATEMATIKA: BANGUN DATAR

5. **Sebuah persegi memiliki panjang sisi 28 cm. Luas dan keliling dari persegi tersebut adalah ..**

- L= 784 cm² dan K= 112 cm
- L= 794 cm² dan K= 122 cm
- L= 804 cm² dan K= 122 cm
- L= 814 cm² dan K= 132 cm

6. **Geser angka dibawah ini pada kotak soal yang tepat dengan menghitung luas bangun datar pada gambar !**

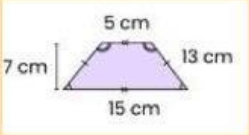

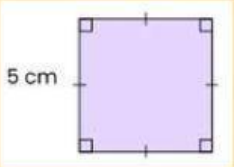

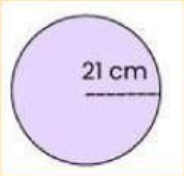

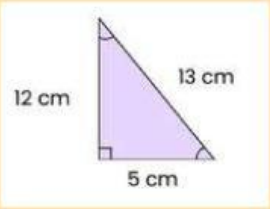

1.386

30

70

25

LIVEWORKSHEETS