# عد النواتج

١. اختاري رمز الإجابة الصحيحة

عند رمي قطعة نقود وتدوير مؤشر العجلة الدوارة في الصورة المجاورة.
فأي من الخيارات التالية يمثل فضاء العينة باستعمال الشجرة البيانية ؟

أ

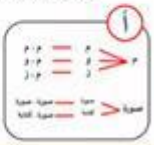

ب

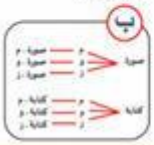

ج

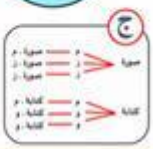

٢. عدد النواتج الممكنة عند حل اختبار مكون من ٣ أسئلة من نوع الاختيار المتعدد ذي الأربع خيارات

أ. ٦٤ | ب. ١٢ | ج. ٧

٣. اختيار أحد أشهر السنة بصورة عشوائية مع إلقاء قطعة نقد.

أ. ٩ | ب. ٢٤ | ج. ١٤

LIVEWORKSHEETS