LKPD

Sistem Reproduksi Manusia

Kelompok : _____

Nama Anggota: _____

KELAS

XI

LIVEWORKSHEETS

PERTEMUAN 3
"STRUKTUR SISTEM REPRODUKSI MANUSIA "

Tujuan Pembelajaran:

1. Peserta didik dapat mengidentifikasi struktur organ reproduksi manusia
2. Peserta didik dapat mengidentikasi fungsi organ reproduksi manusia
3. Peserta didik dapat mengklasifikasikan pembentukan gametogenesis

Petunjuk pengisian

1. Bacalah setiap tahapan inquiry secara berurutan dengan cermat, mulai dari orientasi hingga kesimpulan.
2. Mulailah mengerjakan LKPD dari tahap orientasi sampai pada tahap penarikan kesimpulan.
3. Gunakan berbagai sumber belajar, baik yang tersedia dalam media Genially maupun sumber lain yang relevan.
4. Eksplorasi fitur interaktif dan informasi pada media untuk menemukan data atau konsep penting.
5. Diskusikan hasil pengamatan dan temuan bersama kelompok, kemudian tuliskan jawaban secara kolaboratif.
6. Isilah setiap kolom jawaban dengan lengkap, jelas, dan menggunakan bahasa sendiri.
7. Utamakan proses berpikir logis dan kejujuran dalam menjawab – analisis lebih penting daripada sekadar jawaban benar.
8. Setelah semua bagian selesai, klik tombol Finish/Submit, lalu masukkan nama, kelas, dan email guru dengan benar.
9. Pastikan email yang dimasukkan sesuai, kemudian klik Send untuk mengumpulkan LKPD.
10. Jangan lupa mengunduh (download) hasil pekerjaan sebagai arsip untuk dipelajari kembali.

Orientasi 🔓

Perhatikan gambar/ilustrasi sistem endokrin manusia yang di tampilkan pada media interaktif genially. Kemudian identifikasi dan tuliskan apa yang kamu amati !

LIVEWORKSHEETS

Merumuskan Masalah

Berdasarkan fenomena yang kamu amati, rumuskan pertanyaan-pertanyaan ilmiah yang ingin kamu selidiki. Gunakan kata tanya: Apa, Bagaimana, Mengapa. (tuliskan dibawah ini minimal 3 pertanyaan !)

Merumuskan Hipotesis

APA ITU HIPOTESIS? Hipotesis adalah jawaban sementara atas rumusan masalah yang masih perlu dibuktikan kebenarannya. Hipotesis yang baik menggunakan pola: "Jika ... maka ..." atau pernyataan yang dapat diuji.

Berdasarkan rumusan masalah yang kamu tulis diatas, tuliskan hipotesis atau dugaan sementara dari pertanyaan-pertanyaan tersebut!

LIVEWORKSHEETS

Mengumpulkan data

Carilah jawaban terhadap pertanyaan pada referensi yang sudah diberikan! Untuk membantu kamu memahami materi secara runtut, tuliskan hal-hal yang ditemukan melalui kolom maupun tabel berikut ini!

Struktur Organ Reproduksi Pria

Lengkapilah Bagian-bagian Organ Reproduksi Pria!

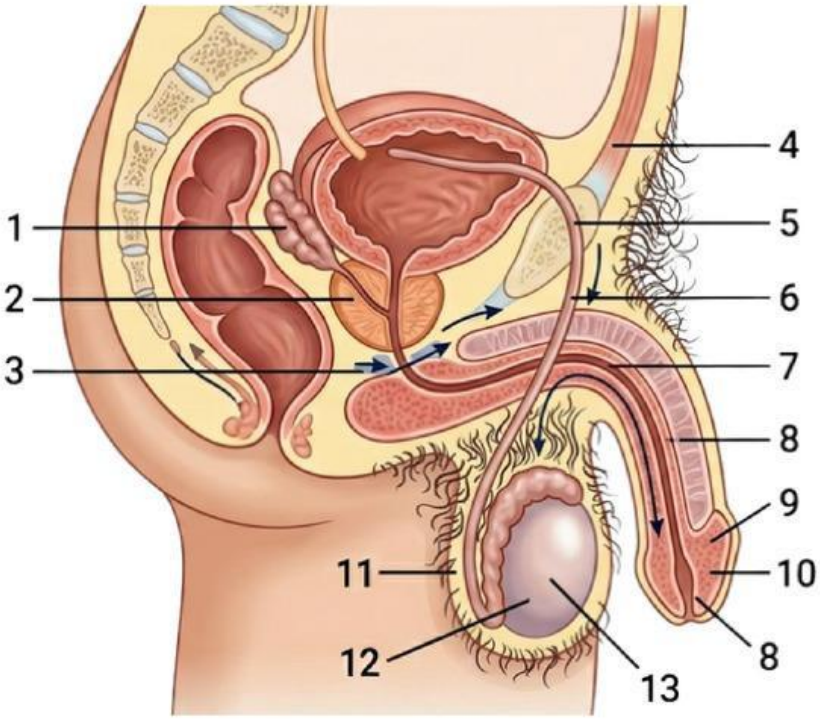

LIVEWORKSHEETS

Mengumpulkan data

Fungsi Organ Reproduksi Pria

Berdasarkan struktur organ reproduksi pria diatas, tuliskan fungsinya pada tabel berikut ini!

No	Bagian	Fungsi
1		
2		
3		
4		
5		
6		
7		
8		
9		
10		
11		

LIVEWORKSHEETS

Mengumpulkan data

Struktur Organ Reproduksi Wanita

Lengkapilah Bagian-bagian Organ Reproduksi Wanita !

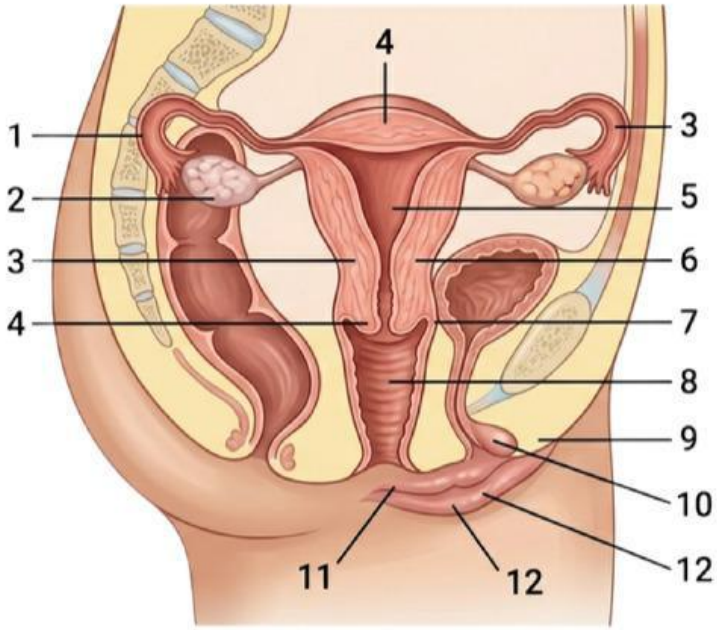

LIVEWORKSHEETS

Mengumpulkan data

Fungsi Organ Reproduksi Wanita

Berdasarkan struktur organ reproduksi wanita diatas, tuliskan fungsinya pada tabel berikut ini!

No	Bagian	Fungsi
1		
2		
3		
4		
5		
6		
7		
8		
9		
10		
11		

LIVEWORKSHEETS

Mengumpulkan data

Proses Pembentukan Spermatogenesis

Perhatikan gambar di bawah ini tentang pembentukan spermatogenesis pada pria!

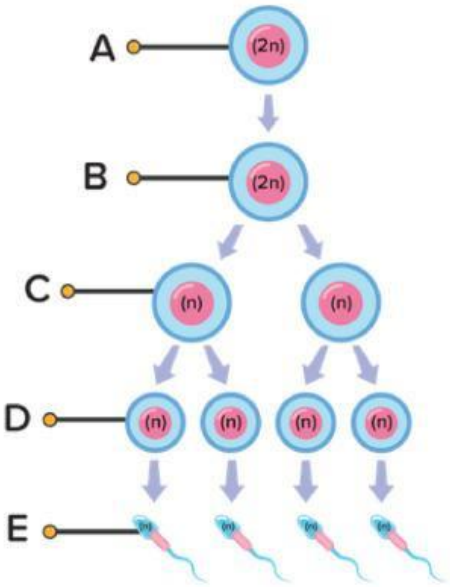

Berdasarkan gambar diatas, lengkapilah tahap dan deskripsi setiap tahap nya pada tabel dibawah ini!

	Tahap	Deskripsi
A		
B		
C		
D		
E		

LIVEWORKSHEETS

Mengumpulkan data

Proses Pembentukan Oogenesis

Perhatikan gambar di bawah ini tentang pembentukan oogenesis pada wanita!

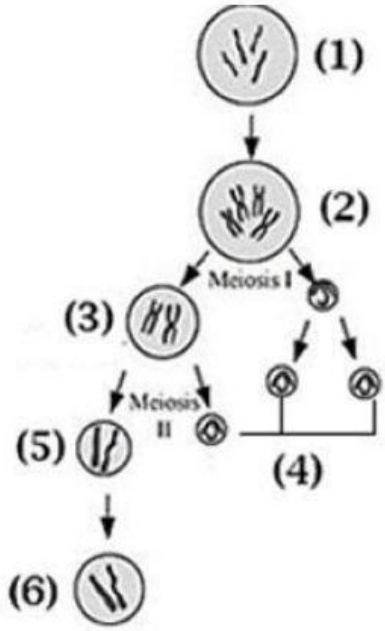

Berdasarkan gambar diatas, lengkapilah tahap dan deskripsi setiap tahap nya pada tabel dibawah ini!

	Tahap	Deskripsi
1		
2		
3		
4		
5		
6		

LIVEWORKSHEETS

Menganalisis dan intepretasi data

Diskusikan dan cocokan temuan kamu dengan rumusan hipotesis (dugaan sementara) yang sudah kamu buat sebelumnya !

LIVEWORKSHEETS

Kesimpulan

Tuliskan kesimpulan temuan kamu!

LIVEWORKSHEETS

LIVEWORKSHEETS