LKPD
MATEMATIKA
"BANGUN DATAR"

- Segi banyak beraturan dan tidak beraturan
- Bangun Datar (segitiga dan segi empat)
- komposisi dan dekomposisi bangun datar



KELAS

4

LIVEWORKSHEETS

Nama : Kelas :

Segi Banyak

Berilah tanda ✓ pada kotak di bawah gambar benda yang termasuk segi banyak dan tanda ✗ pada kotak di bawah gambar benda yang bukan segi banyak !



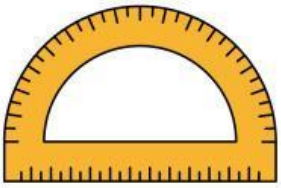



LIVEWORKSHEETS

Nama : Kelas :

Segi Banyak Beraturan dan Segi Banyak Tidak Beraturan

Gunting gambar segi banyak di bawah ini, kemudian tempel sesuai jenisnya !



Segi Banyak Beraturan

Segi Banyak Tidak Beraturan

LIVEWORKSHEETS

Nama : Kelas :

Segitiga

Jenis segitiga berdasarkan panjang sisinya

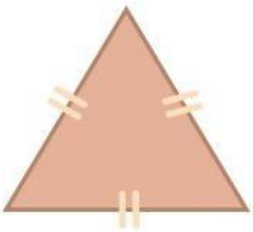

Nama Segitiga : .....
Jumlah sisi yang sama panjang : .....
jumlah sudut yang sama besar : .....
jumlah simetri lipat : .....
jumlah simetri putar : .....

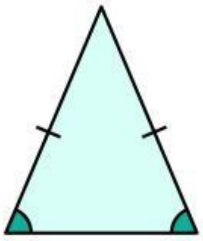

Nama Segitiga : .....
Jumlah sisi yang sama panjang : .....
jumlah sudut yang sama besar : .....
jumlah simetri lipat : .....
jumlah simetri putar : .....



Nama Segitiga : .....
Jumlah sisi yang sama panjang : .....
jumlah sudut yang sama besar : .....
jumlah simetri lipat : .....
jumlah simetri putar : .....

Jenis segitiga berdasarkan besar sudutnya

Pasangkan gambar segitiga dengan ciri-ciri yang sesuai !

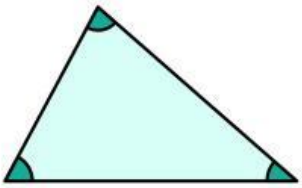

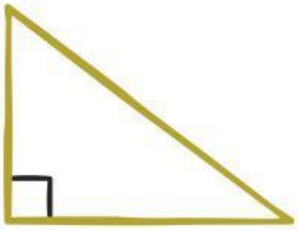

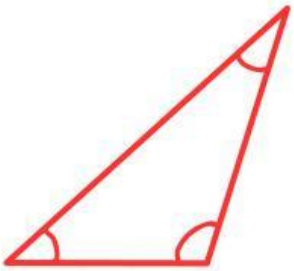

- Ketiga sudutnya merupakan sudut lancip
- Memiliki sudut 90 derajat
- salah satu sudutnya merupakan sudut tumpul
- segitiga tumpul
- memiliki sisi tegak lurus
- sudut-sudutnya kurang dari 90 derajat

LIVEWORKSHEETS