Clasifica el Triángulo

Observa el triángulo y selecciona su tipo según sus lados y sus ángulos.

Según sus lados: -- Selecciona --

Según sus ángulos: -- Selecciona --

Comprobar | Siguiente Triángulo

Medición de Ángulos

Generar nuevo ángulo | Mide el ángulo: Ej: 45 ° | Tipo: Selecciona... | Comprobar

Girar transportador:

¿Cuál es el área de la figura?

Figura: 1 / 10 | Aciertos: 0

Pista: Cuenta cuántos cuadrados forman la figura coloreada.
¡Ojo! A veces habrá **medios cuadrados (triángulos)**. Recuerda que dos medios cuadrados forman un cuadrado entero.
Puedes hacer clic encima de los trozos de la figura para ir marcándolos y no perder la cuenta.



Área total = ? cuadrados enteros. | Comprobar | Siguiente Figura

Escribe tu respuesta y pulsa "Comprobar".

Clasificación de Polígonos

Pregunta: 1 / 16 | Aciertos: 0

Pista: Cuenta los puntos oscuros (vértices) para saber cuántos lados tiene. Un polígono es **regular** si todos sus lados y todos sus ángulos son iguales.



1. Elige el número de lados:

Triángulo | Cuadrilátero | Pentágono | Hexágono | Heptágono | Octógono | Eneágono | Decágono

2. Elige el tipo:

Regular | Irregular

Comprobar Respuesta | Siguiente Polígono

Selecciona el nombre y el tipo, y luego pulsa "Comprobar Respuesta".

Calcula el Perímetro

Ejercicio: 1 / 10 | Puntuación: 0

Recuerda: El **perímetro** es la suma de las longitudes de TODOS los lados de la figura. ¡Suma todos los números que aparecen en los bordes y cuidado de no saltarte ninguno!

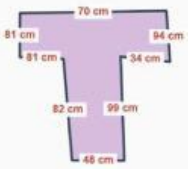

Perímetro = Total cm | Comprobar | Siguiente Figura

Escribe el total de la suma y pulsa "Comprobar".

Clasificación de Cuadriláteros

Figura: 1 / 10 | Puntuación: 0 / 10

Fíjate bien: Observa si los lados son paralelos, si son iguales y cómo son sus ángulos. ¡Cuidado, porque las figuras pueden estar giradas o tener tamaños diferentes!

Cuadrado | Rectángulo | Rombo
Romboide | Trapecio | Trapezoide

Selecciona el nombre correcto del cuadrilátero.

Siguiente Figura

LIVEWORKSHEETS