الفرع المدرسي الأول نطاق 5.1

مدرسة الحمرية الحلقة الثانية والحلقة الثالثة بنين

الصف السابع

مادة العلوم

ورقة عمل

(المسبار الفضائي)

وزارة التربية والتعليم
MINISTRY OF EDUCATION

الاسم :

اختر الإجابة الصحيحة

- ما نوع المسبار الذي يمر بالقرب من الكوكب دون أن يهبط أو يدور حوله؟

A. المُحلِّق

B. المداري

C. الهابط

D. الثابت

- أي نوع من المسابير يمثل هذا الشكل؟



A. المُحلِّق

B. المداري

C. الهابط

D. الفضائي

- أي مسبار يستخدم للبحث عن الماء على سطح الكوكب؟

A. المُحلِّق

B. المداري

C. الهابط

D. لا شيء مما ذكر

- ماذا يحدث للمسبار المداري بعد وصوله للكوكب؟

A. يهبط فورًا

B. يغادر

C. يبطئ ويدخل في مدار

D. ينفجر

LIVEWORKSHEETS

- أي مما يلي صحيح؟

A. جميع المسابير تهبط

B. جميع المسابير تدور

C. لكل مسبار وظيفة مختلفة

D. لا توجد فروق

- ما الهدف من المسبار المداري؟

A. مغادرة النظام الشمسي

B. الهبوط على الكوكب

C. الدوران حول الكوكب وجمع البيانات

D. التقاط صورة واحدة

- أي نوع من المسابير يمثل هذا الشكل؟



A. المُحلِّق

B. المداري

C. الهابط

D. الفضائي

- أي نوع من المسابير يمثل هذا الشكل؟



A. المُحلِّق

B. المداري

C. الهابط

D. الفضائي

LIVEWORKSHEETS