جـد قيمة x. وافترض أن القطع المستقيمة التي تبدو مماسيّة مماسية بالفعل. وقرّب إلى أقرب جزء من عشرة عند الضرورة.

21.

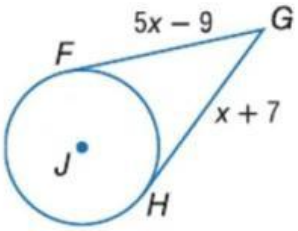

22.

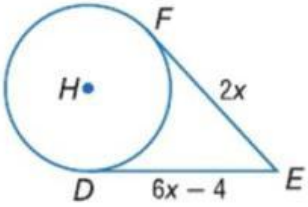

(6

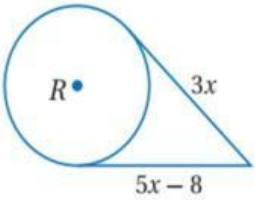

LIVEWORKSHEETS