MENENTUKAN UNSUR,SENYAWA DAN CAMPURAN

Tentukan Zat di bawah ini mana yang termaksuk unsur, senyawa, dan campuran!

Gambar zat	Contoh zat	**Jenis zat**
	Minyak dan Air	
	Air	
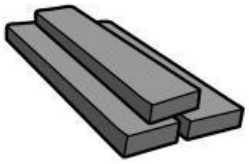	Besi	
	Susu	
	Emas	

LIVEWORKSHEETS

MENENTUKAN UNSUR,SENYAWA DAN CAMPURAN

Tentukan Zat di bawah ini mana yang termaksuk unsur, senyawa, dan campuran!

Gambar zat	Contoh zat	Jenis zat
	Garam	
	Gula	
	Es Campur	
	Cuka	
	Oksigen	

LIVEWORKSHEETS

MENENTUKAN UNSUR,SENYAWA DAN CAMPURAN

Tentukan Zat di bawah ini mana yang termaksuk unsur, senyawa, dan campuran!

Gambar zat	Contoh zat	Jenis zat
	Teh manis	
	Tinta	
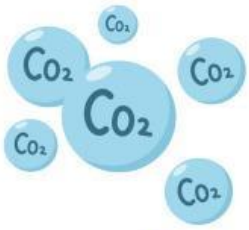	Karbon dioksida	
	Jus mangga	
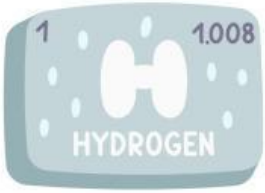	Hidrogen	

LIVEWORKSHEETS