الفرع المدرسي الأول نطاق 5.1

مدرسة الحمرية الحلقة الثانية والحلقة الثالثة بنين

الصف الثامن

مادة العلوم

ورقة عمل

(الموجات الزلزالية)

وزارة التربية والتعليم
MINISTRY OF EDUCATION

اسم الطالب :

مستعينا بما يلي أكمل جدول المقارنة التالي :

1 - سطحية	2 - ثانوية	3 - اولية
4 - الأسرع	5 - متوسطة	6 - الابطأ
7 – عمودي على اتجاه الحركة	8 - دائرية	9 – موازي على اتجاه الحركة
10 – الصلبة فقط	11 – الصلبة والسائلة	12 – الصلبة والسائلة

	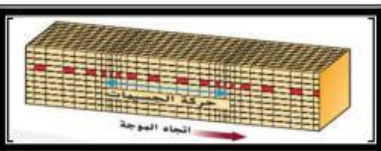	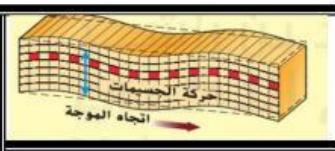	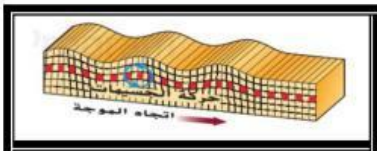
نوع الموجة			
سرعة الموجة			
كيف تهتز الموجة			
نوع الوسط الذي تمر الموجة من خلاله			

LIVEWORKSHEETS