LEMBAR KERJA PESERTA DIDIK (LKPD)

Bangun Ruang Sisi Lengkung

Disusun oleh : Bungariah Saragih S.Pd
Instansi: SMP Negeri 1 Meureubo

Nama :
kelas :

A.Perhatikan Video berikut ini :

B.Dengarkan Playmp3 berikut

Isikan komen ya...

C.Kerjakan soal dibawah ini :

1. Apakah nama bangun ruang dibawah ini :

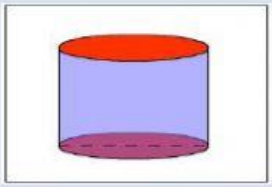

a. Tabung
b. Bola
c. Kerucut
d. Limas

LIVEWORKSHEETS

2. Tuliskan sesuai nama dengan nama bangun berikut :

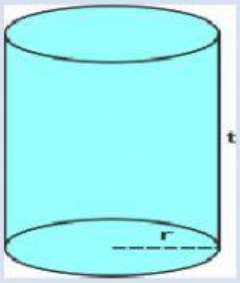

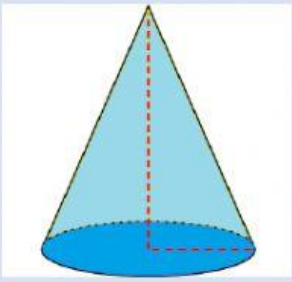

3.Pasangkan bangun ruang dengan rumus Volume atau Luas Permukaan yang sesuai

Bangun Ruang	Rumus
Bola	$\pi \times r \times (r \times s)$
Kerucut	$\pi \times r^2 \times t$
Tabung	$4 \times \pi \times r^2$

4.Diketahui jari jari tabung = 7 Cm dan tinggi tabung = 17 cm.tentukan Luas selimutnya

5.Diketahui sebuah tabung tertutup dengan jari jari 20 cm dan tingginya 40 cm.
Tentukan volumenya.

LIVEWORKSHEETS