من أي منشور أو هرم هو؟

نشاط مطابقة الأشكال المقطعة مع المنشورات والأهرامات ثلاثية الأبعاد

اسحب وأفلِت الشكل ثنائي الأبعاد الصحيح الذي يتطابق مع المنشورات/ الأهرامات التي تم تقطيعها منها!

ضع إجابتك هنا

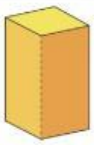

ضع إجابتك هنا

ضع إجابتك هنا

ضع إجابتك هنا

مستوحى من mathspace

LIVEWORKSHEETS

مفتاح الإجابة

من أي منشور أو هرم هو؟

نشاط مطابقة الأشكال المقطعة مع المنشورات والأهرامات ثلاثية الأبعاد

اسحب وأفلِت الشكل ثنائي الأبعاد الصحيح الذي يتطابق مع المنشورات/ الأهرامات التي تم تقطيعها منها!

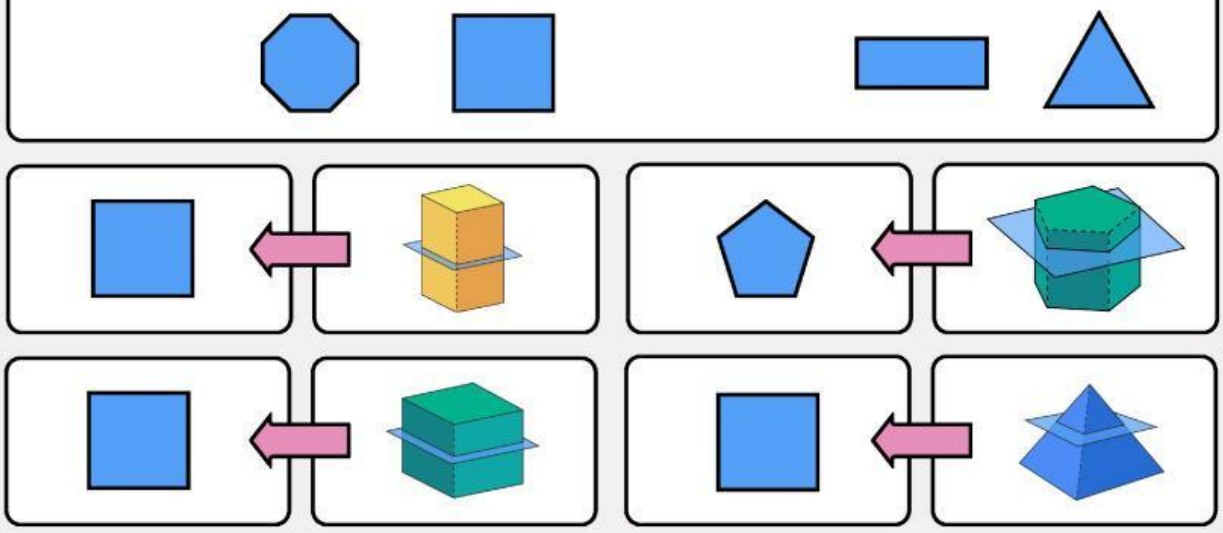

LIVEWORKSHEETS

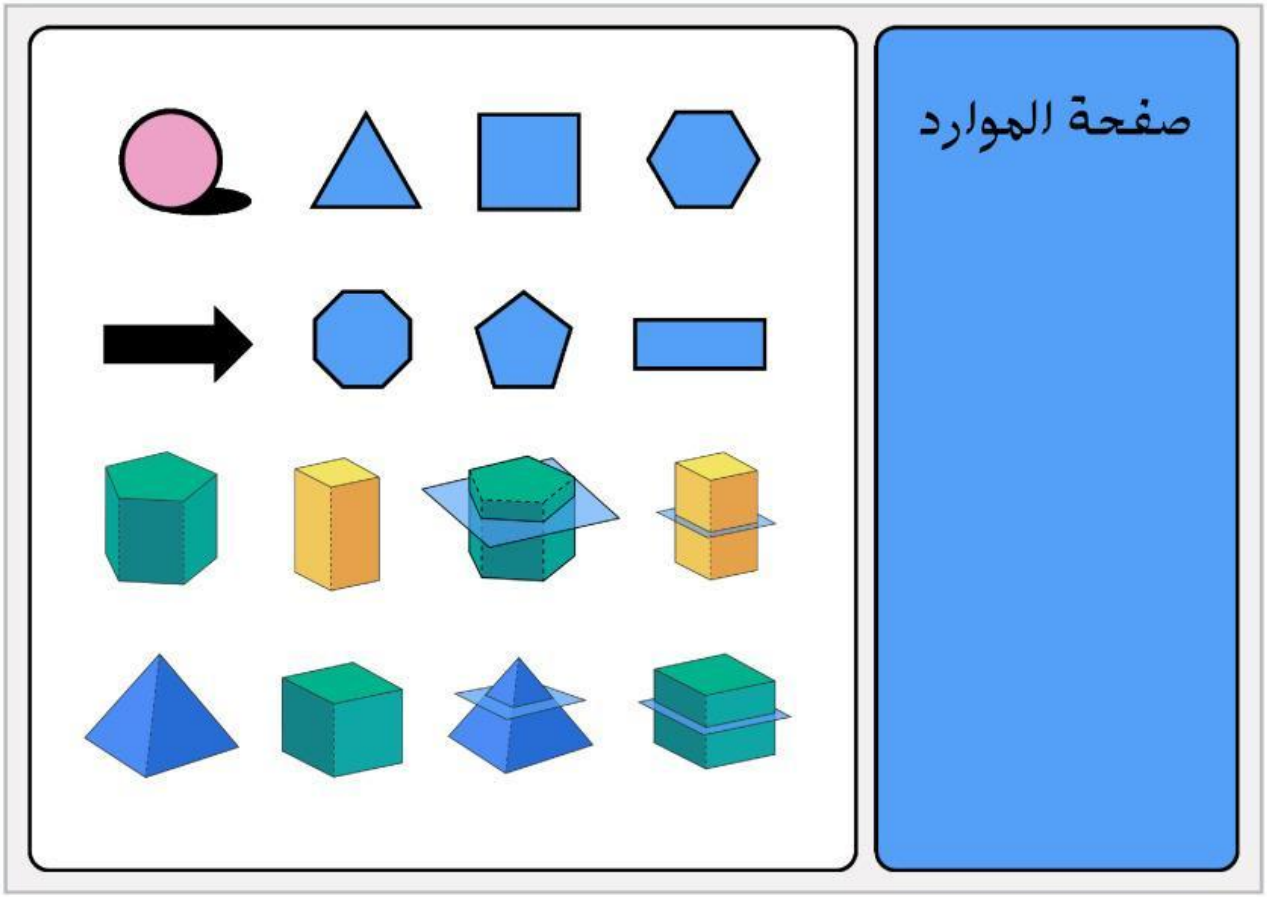

LIVEWORKSHEETS