LEVEL1NC - BÀI 3. VIẾT PHÉP TÍNH DỰA TRÊN HÌNH ẢNH

Họ và tên: _____ Ngày: _____

1. Dựa vào hình ảnh dưới đây, hãy viết phép tính phù hợp



	+		=	

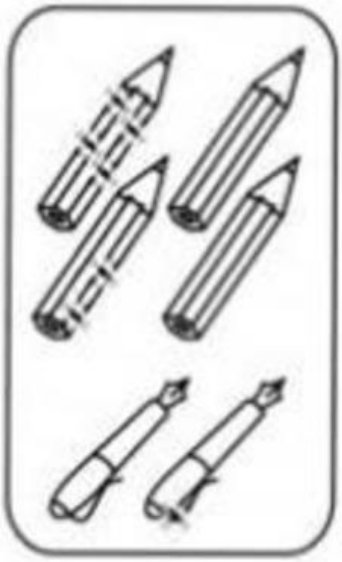

	+		=	

	+		=	



	-		=	

	-		=	

	-		=	

LIVEWORKSHEETS

2. Dựa vào hình ảnh dưới đây, hãy viết phép tính phù hợp



LIVEWORKSHEETS