Cieto riekstu uzdevumi 1.klasē

1. Vēro un meklē sakarības! Atzīmē (uzklikšķinot) to attēlu, kas iederas pēc šīs sakarības!

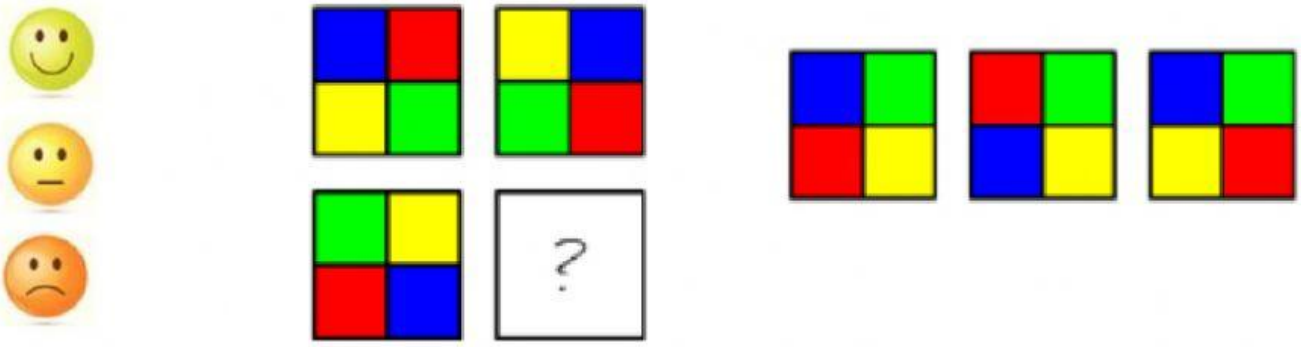

2. Vēro un meklē sakarības! ! Atzīmē (uzklikšķinot) pazudušo domino kauliņu, kas derēs pēc šīs sakarības!

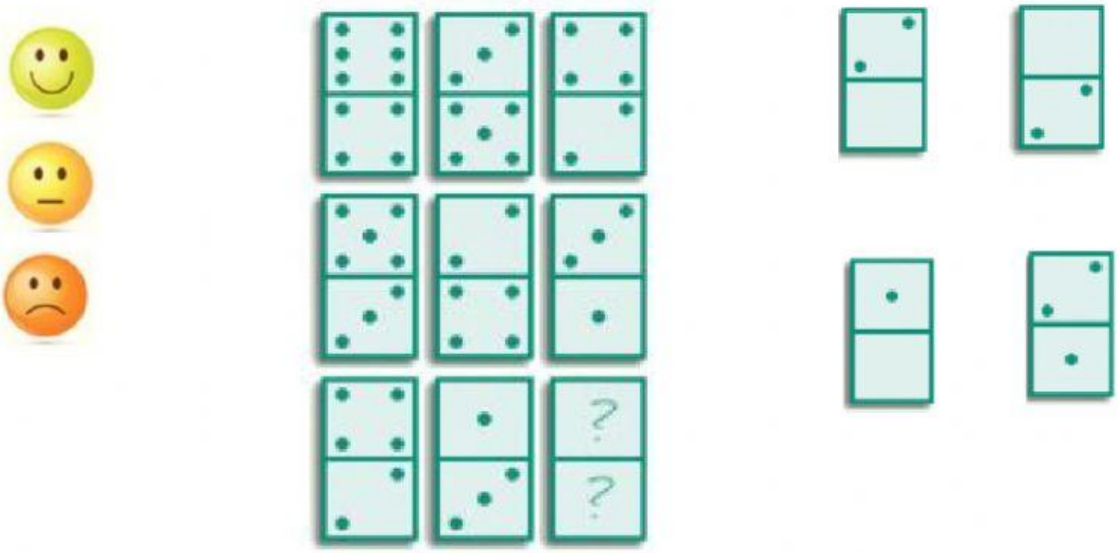

3. Vēro un aprēķini! Ieraksti pareizos skaitļus!

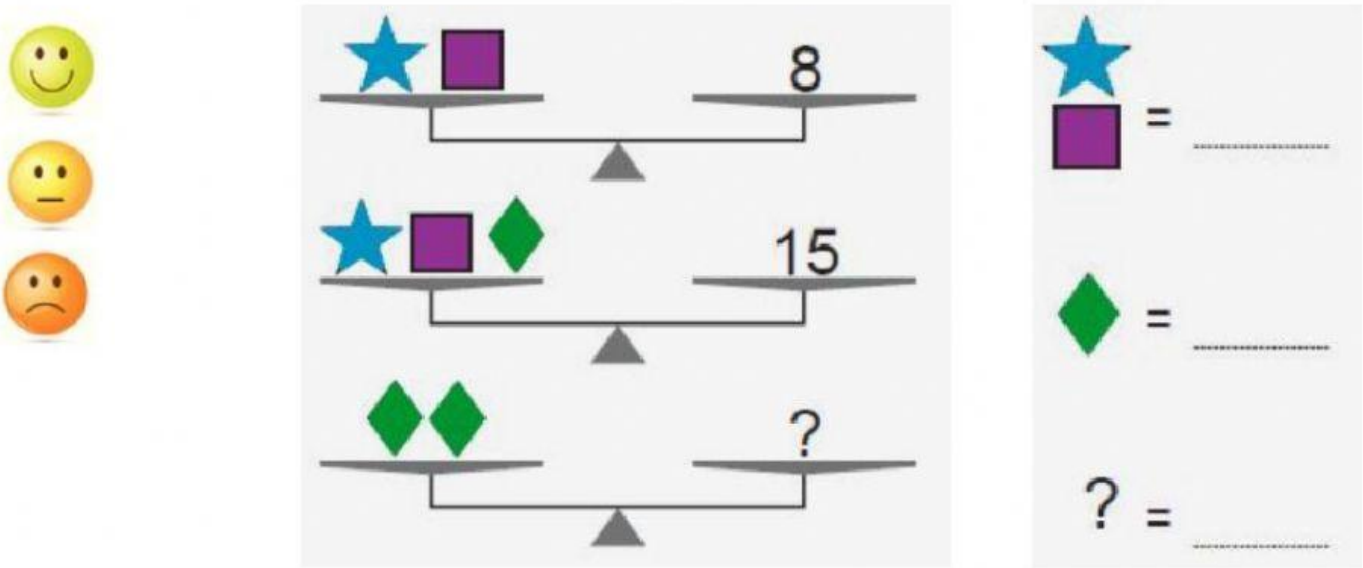

LIVEWORKSHEETS

4. Vēro un aprēķini! Ieraksti pareizos skaitļus!

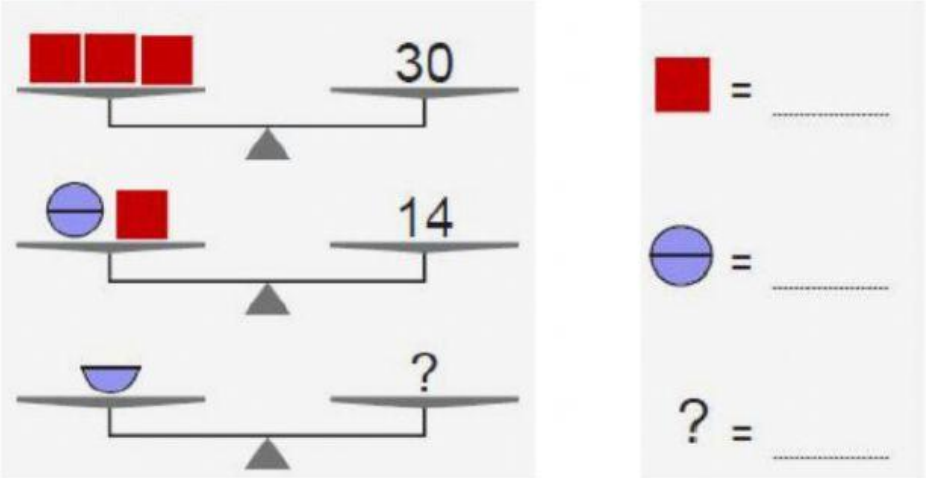

5. Vēro, kā atrisināts 1.kvadrāts! Atrisini 2.kvadrātu! Ieraksti tukšajās rūtiņās skaitļus, lai virzienā uz leju un virzienā palabi sanāktu dotie rezultāti!

4 +	2 +	9 =	15
+	+	+	
7 +	5 +	8 =	20
+	+	+	
3 +	1 +	6 =	10
=	=	=	
14	8	23	

	5		11
9			20
	6	1	14
18	14	13	

Pie katra uzdevuma atzīmē, kā tev veicās ar darba izpildi, ierakstot blakus lodziņā X!

Izpildīju bez palīdzības

Izpildīju ar palīdzību

Nesapratu

Ja vēlies, vari pierakstīt savus komentārus.

LIVEWORKSHEETS

LIVEWORKSHEETS