ชื่อ นามสกุล

เลขที่

ใบงานวิชาคณิตศาสตร์ ป.5
เรื่อง หาพื้นที่ของรูปสี่เหลี่ยมขนมเปียกปูน

ให้นักเรียนหาพื้นที่ของรูปสี่เหลี่ยมขนมเปียกปูน

1.

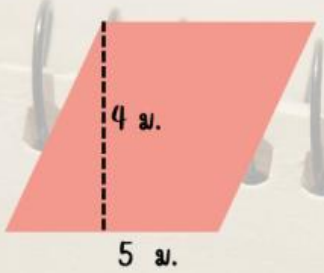

ตอบ ตารางเมตร

2.

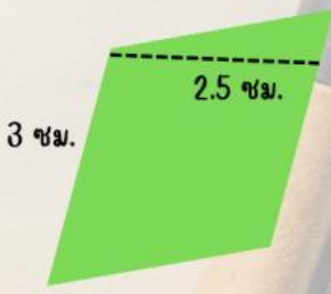

ตอบ ตารางเซนติเมตร

3.

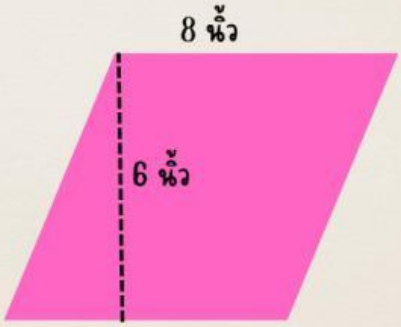

ตอบ ตารางนิ้ว

4.

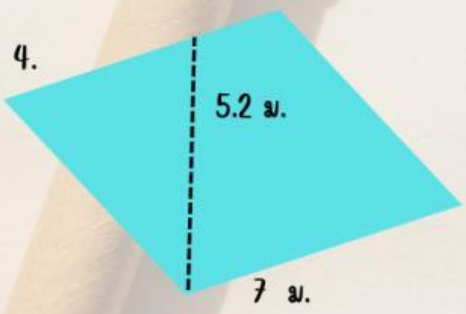

ตอบ ตารางเมตร

5.

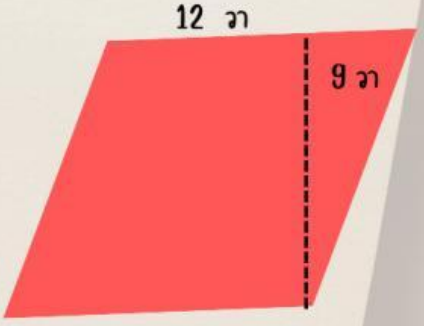

ตอบ ตารางวา

ครูกมลทิพย์

LIVEWORKSHEETS