التاريخ:---- /--- / -----

KINGDOM OF BAHRAIN
Ministry of Education
AlRawdha Praimary Girls School

مملكة البحرين
وزارة التربية والتعليم
إدارة العمليات التعليمية المنطقة (١)
مدرسة الروضة الابتدائية للبنات

نشاط تقييمي في مادة الرياضيات
درس الأَشْكَالُ الْمُسْتَوِيَةُ– للصف الثالث الابتدائي

الكفاية: وصف الأشكال ذات البعدين والثلاثة أبعاد وفق خصائصها وتحليل العلاقات بينها باستعمال مجموعة مفردات ورموز رياضية.

قادرة

١- أحوط الأشياء التي لها عدد أضلاع وعدد زوايا مماثل للأشكال التالية:

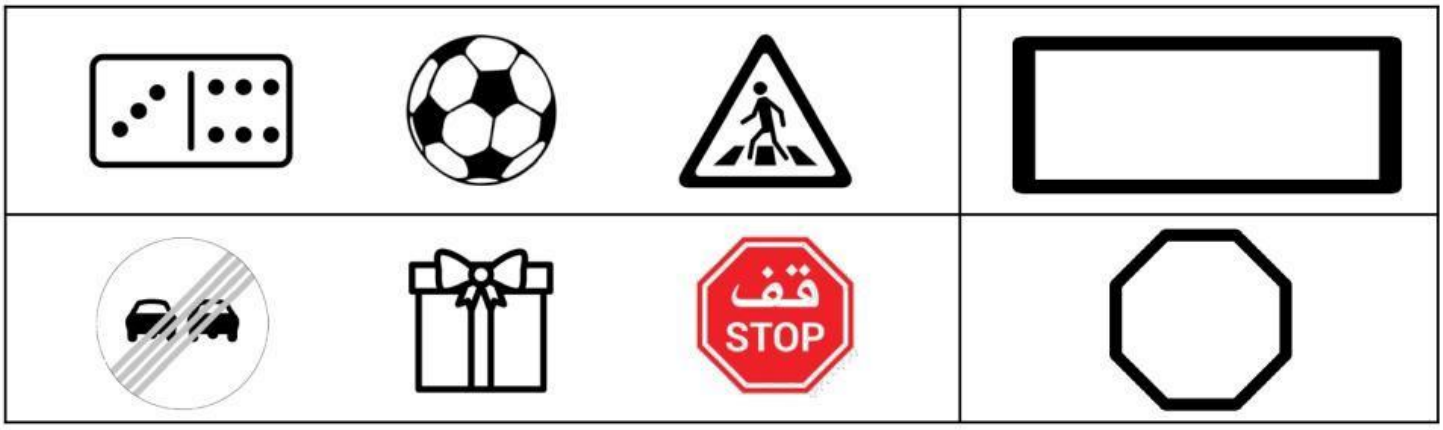

مثابرة

٢- أكتبُ عدد الأضلاع وعدد الزوايا للأشكال التالية:



------- أضلاع.

------- زوايا.

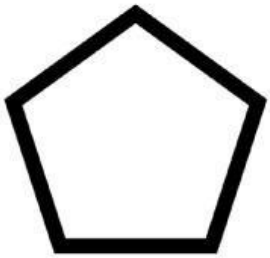

------- أضلاع.

------- زوايا.

متميزة

٣- أجيبُ عن السؤال التالي:

رسمت نورة شكلاً مستويًا له ست أضلاع، وست زوايا، فما هو الشكل الذي رسمته نورة؟

الشكل هو: ----------

مديرة المدرسة: أ. منى محسن ناجي

LIVEWORKSHEETS