10.1 การวัดน้ำหนักเป็นกิโลกรัมและขีด กิโลกรัมและกรัม

พัฒนาความรู้



ปลาหนัก 2 กิโลกรัม 6 ขีด
หรือ 2 กิโลกรัม 600 กรัม



เงาะเข่งนี้หนัก 50 กิโลกรัม
7 ขีด หรือ 50 กิโลกรัม 700 กรัม

ปีกไก่หนัก 35 กิโลกรัม 5 ขีด
หรือ 35 กิโลกรัม 500 กรัม

LIVEWORKSHEETS

ตรวจสอบความเข้าใจ

บอกน้ำหนักของสิ่งต่าง ๆ

1



2



3

4

สิ่งที่ได้เรียนรู้

การบอกน้ำหนักของสิ่งต่าง ๆ อาจบอกเป็นกิโลกรัมและขีด กิโลกรัมและกรัม

แบบฝึกหัด 10.1

LIVEWORKSHEETS