الهدف الثاني: ان تجد الطالبة ميل خط مستقيم باستعمال الرسم البياني

تدريب ١

دقيقتان

مشروع خذي بيدي

نعم نستطيع أن نتعلم

اختاري ميل المستقيم في كل شكل مما يأتي:

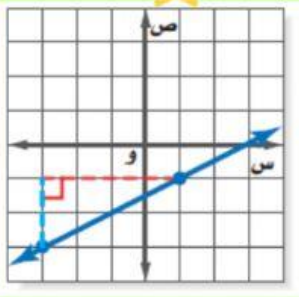	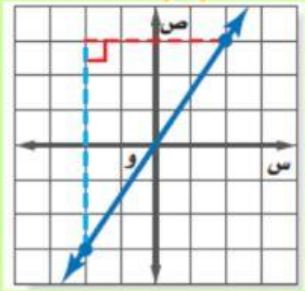	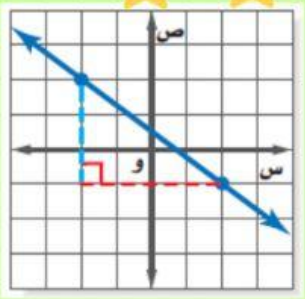	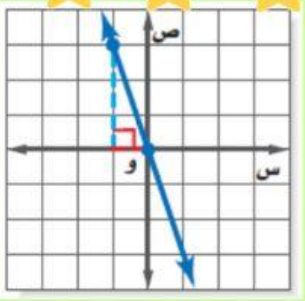
$\frac{١}{٢}$	$\frac{٢}{٣}$	$\frac{٤}{٣}$	$\frac{-٣}{١}$
$\frac{-١}{٢}$	$\frac{-٣}{٢}$	$\frac{-٣}{٤}$	$\frac{-١}{٣}$
$\frac{٢}{١}$	$\frac{٣}{٢}$	$\frac{٣}{٤}$	$\frac{١}{٣}$

LIVEWORKSHEETS