ใบงานคณิตศาสตร์: ทฤษฎีบทพีทาโกรัส

ชื่อ-นามสกุล: _____ ชั้น: ม.2/____ เลขที่: ____

คำชี้แจงกิจกรรม: ให้นักเรียนเติมคำตอบลงในกล่องข้อความที่มีลูกศรชี้ให้ถูกต้อง และแสดงวิธีคิดในข้อปฏิบัติ

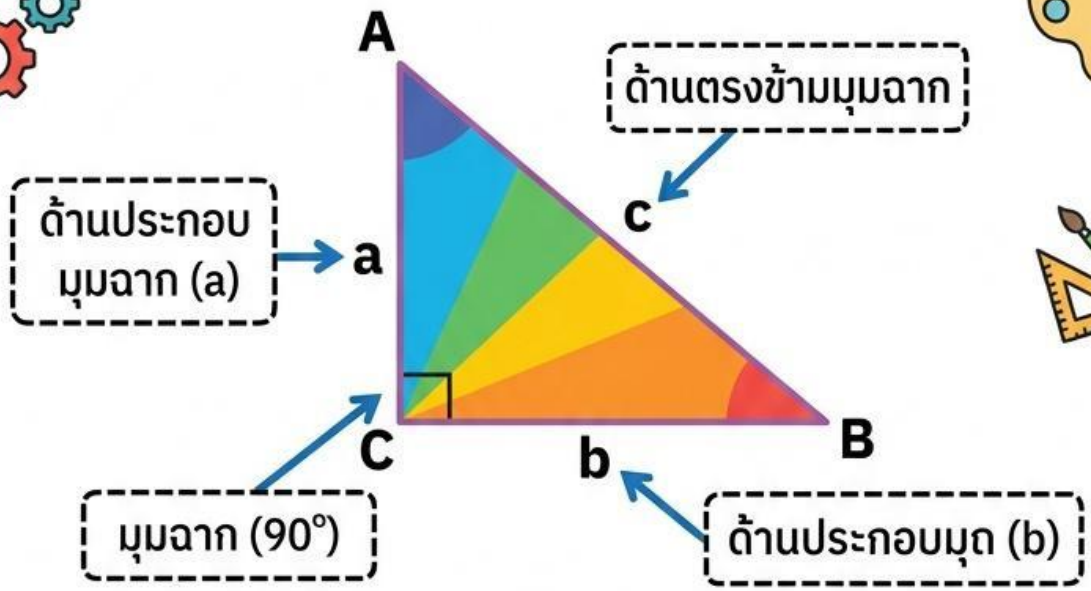

ทฤษฎีบท: $a^2 + b^2 = c^2$

$[___]^2 + [___]^2 = c^2$

ในรูปสามเหลี่ยมมุมฉาก กำลังสองของความยาวด้าน [_____] เท่ากับผลบวกของกำลังสองของความยาวด้านประกอบมุมฉาก

แบบฝึกหัดทบทวน

1. 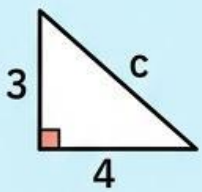

a = 5, c

_____

_____

_____

_____

คำตอบ: _____

2. 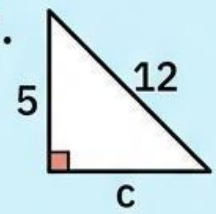

a = 12, c

_____

_____

_____

_____

คำตอบ: _____

LIVEWORKSHEETS