כל סרטוט מייצג שלם המחולק ל-100 חלקים שווים.

א. מתחו קו בין כל סרטוט לבין השבר הפשוט והאחוז המייצגים את החלק הצבוע שבסרטוט.

1

$\frac{50}{100}$ מהשלם

10% מהשלם

2

$\frac{25}{100}$ מהשלם

27% מהשלם

3

$\frac{27}{100}$ מהשלם

50% מהשלם

4



$\frac{75}{100}$ מהשלם

25% מהשלם

5

$\frac{10}{100}$ מהשלם

75% מהשלם

LIVEWORKSHEETS

ב. כתבו כשבר פשוט ובאחוזים את החלק הלא-צבוע.

1

מהשלם, $\frac{\quad}{\quad}$ מהשלם

_____% מהשלם

2



מהשלם, $\frac{\quad}{\quad}$ מהשלם

_____% מהשלם

3



מהשלם, $\frac{\quad}{\quad}$ מהשלם

_____% מהשלם

4



מהשלם, $\frac{\quad}{\quad}$ מהשלם

_____% מהשלם

5



מהשלם, $\frac{\quad}{\quad}$ מהשלם

_____% מהשלם

LIVEWORKSHEETS