نشاط: تحديد الغرض والعائق للجسور

اسم الطالبة: _____ الصف: _____

ضعي علامة صح أمام الغرض المناسب للجسر وحددي العائق الموجود أسفل الجسر

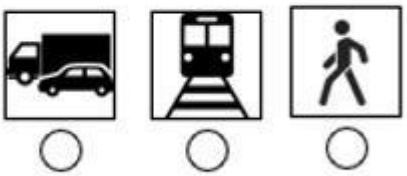

العائق: _____

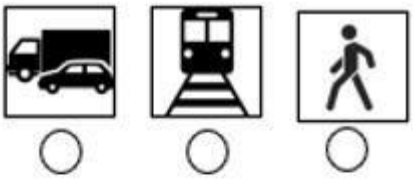

العائق: _____



العائق: _____

LIVEWORKSHEETS