Câu 1: Vật chất di truyền của virus là:

A. ARN và ADN

B. ARN và gai glycoprotein

C. ADN hoặc gai glycoprotein

D. ADN hoặc ARN

Câu 2: Quan sát các virus trong hình (a), xếp tên các virus vào đúng nhóm hình dạng của chúng.

Virus HIV | Virus Viêm gan B | Virus Ebola

Virus adeno | Virus cúm | Thể thực khuẩn

LIVEWORKSHEETS

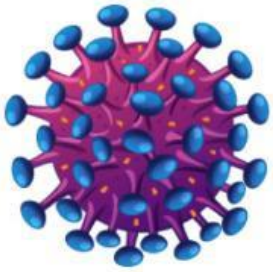



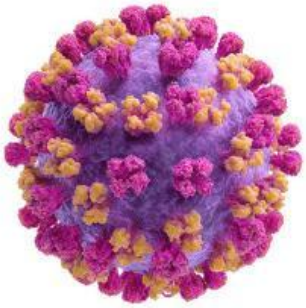

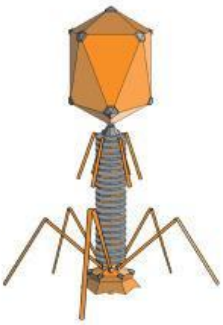

LIVEWORKSHEETS

Câu 3: Trong các phát biểu sau về virus, phát biểu nào đúng, phát biểu nào sai?

a. Virus là dạng sống rất nhỏ, có cấu tạo tế bào, có thể nhân lên trong tế bào của vật sinh sống.

b. Virus có cấu tạo phức tạp, gồm vỏ là protein và lõi là vật chất di truyền (DNA hoặc RNA).

c. Virus gây bệnh cho con người, vật nuôi, cây trồng nhưng cũng có một số virus có lợi cho con người.

d. Sử dụng kháng sinh là phương pháp hữu hiệu và cần thiết để phòng bệnh do virus.

LIVEWORKSHEETS

Câu 4: Trong các phát biểu sau về virus, phát biểu nào đúng, phát biểu nào sai?

a. Virus có thể được quan sát bằng kính lúp.

b. Virus có 3 dạng chính: dạng que, dạng cầu và dạng xoắn.

c. Virus Ebola, virus cúm có dạng xoắn.

d. Virus HIV, virus bại liệt có dạng xoắn.

LIVEWORKSHEETS