1 Osserva le immagini e trova l'intruso. Poi completa le frasi con le parole di questo elenco:

cellula • nucleo • bacilli • eucarioti • spirilli • cocchi

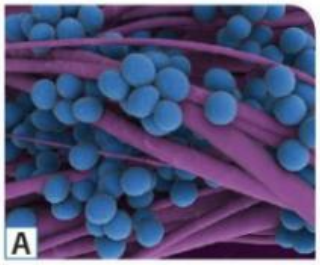
A

B

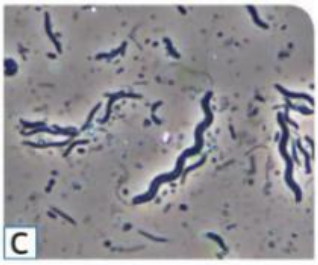
C

D

A I batteri a sfera sono chiamati ..... .

B I batteri a bastoncino sono chiamati ..... .

C I batteri a spirale sono chiamati ..... .

D I protisti sono organismi ..... . Sono più grandi dei batteri e hanno una ..... di tipo eucariote, cioè con un ..... evidente. Vivono soprattutto nell'acqua.

2 Alcuni di questi organismi possono svolgere la fotosintesi. Quali?

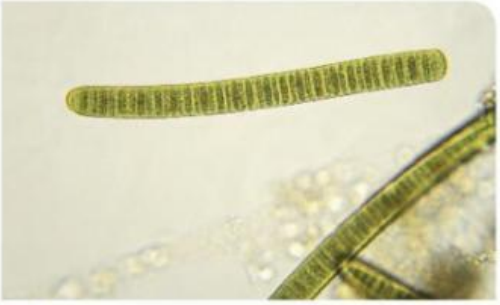
A cianobatterio

B fungo basidiomicete

C muffa

D diatomea

E lieviti

RICORDA

I funghi sono organismi eterotrofi: prelevano dall'ambiente le sostanze organiche, che non sono capaci di produrre da soli.

LIVEWORKSHEETS