Ayo Berlatih ☺ ☺ ☺

Penjumlahan Bilangan

1. Hitung dan tuliskanlah hasil penjumlahan bersusun di bawah ini pada kotak yang telah disediakan!

a.

$$\begin{array}{r} 23 \\ 15 \\ \hline \square\square \end{array} +$$

b.

$$\begin{array}{r} 32 \\ 65 \\ \hline \square\square \end{array} +$$

c.

$$\begin{array}{r} 54 \\ 35 \\ \hline \square\square \end{array} +$$

d.

$$\begin{array}{r} \square \\ 47 \\ 35 \\ \hline \square\square \end{array} +$$

e.

$$\begin{array}{r} \square \\ 28 \\ 45 \\ \hline \square\square \end{array} +$$

f.

$$\begin{array}{r} \square \\ 29 \\ 53 \\ \hline \square\square \end{array} +$$

LIVEWORKSHEETS

2. Ibu akan membeli 2 keranjang apel. Keranjang pertama berisi 25 buah apel. Keranjang kedua berisi 22 buah apel. Berapa buah jumlah apel yang dibeli Ibu?
   Jawab:

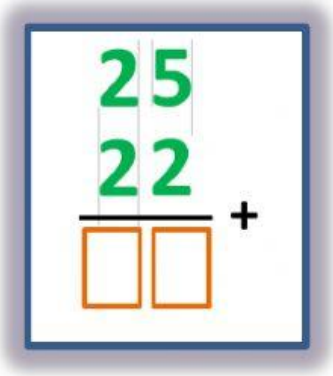

3. Almira memiliki 12 buah pensil warna.
   Marsya memiliki 5 buah pensil warna lebih banyak daripada Almira.
   Berapa banyak pensil warna yang dimiliki Marsya?
   Jawab:

4. Hitung dan jumlahkanlah hasilnya pada kotak yang tersedia!



+



=



+



=

LIVEWORKSHEETS