MATEMATIKA

JENIS-JENIS BANGUN DATAR

NORHASANAH, S. Pd
SLB NEGERI MARABAHAN

LIVEWORKSHEETS

JENIS-JENIS BANGUN DATAR

Nama :
Kelas :
No. Absen :

A. Simak video di bawah ini dengan seksama!

B. Dengarkan rekaman di bawah ini!

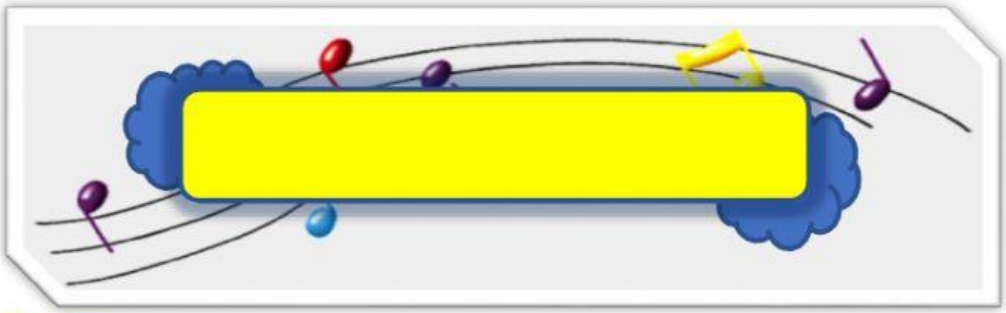

LIVEWORKSHEETS

Berdasarkan rekaman mp3 di atas, kira-kira siapakah aku?

Tuliskan tebakanmu pada kotak di bawah ini!

C. *Drop down*

Klik kotak, kemudian pilih jawaban yang benar!

Nama bangun datar di samping adalah

LIVEWORKSHEETS
LIVEWORKSHEETS

D. Pilihan Ganda

Klik jawaban yang benar untuk pertanyaan di bawah ini!

Bangun datar yang mempunyai 1 sisi, tidak mempunyai titik sudut, serta mempunyai simetri lipat tak terhingga adalah ....

- Persegi
- Segitiga
- Lingkaran
- Trapesium

E. Berikan tanda check list (✓) untuk jawaban yang benar!

Berikut ini yang termasuk jenis-jenis bangun datar adalah...

- [ ] persegi
- [ ] balok
- [ ] tabung
- [ ] segitiga

LIVEWORKSHEETS
LIVEWORKSHEETS

F. Menjodohkan dengan garis

Tariklah garis dari sebelah kiri ke kanan sesuai dengan jenis bangun datarnya!

Segitiga

Persegi Panjang

Layang-Layang

Lingkaran

G. Drag and Drop

Klik/sentuh gambar, kemudian geser dan lepaskan di tempat yang tersedia sesuai dengan nama bangunnya





SEGITIGA | BELAH KETUPAT | LINGKARAN | TRAPESIUM

LIVEWORKSHEETS