ورقة عمل الفصل السادس (الإحصاء)

س ١/ اختاري الإجابة الصحيحة

١- أوجدي المتوسط الحسابي لما يلي ٩ ، ٦ ،٤ ، ٣ ،٣			
١٠	٥	١٨	٢٨
٢- أوجدي الوسيط لما يلي ٣ ، ٣ ، ٤ ، ٦ ، ٩			
٣	٤	٦	٩
٣- أوجدي المنوال في البيانات التالية هو ٣، ٥، ٦، ٦ ، ٧			
٣	٤	٦	٩
٤- يقارن البيانات باستعمال الأعمدة			
التمثيل بالأعمدة	المدرج التكراري	التمثيل بالنقاط	التمثيل بالخطوط
٥- المفردة التي ليس لها خصائص المفردات الأربعة الأخرى			
التمثيل بالنقاط	المنوال	التمثيل بالأعمدة	شكل الانتشار
٦- من خلال التمثيل المجاور تنبي بعدد الأيام التي تحتاج اليها أسماء لقراءة ٦٠ صفحة من الكتاب 			
٣	٤	٧	٨
٧- القيمة البعيدة عن بقية القيم			
الفجوات	العناقيد	المدى	القيمة المتطرفة
٨- مشى مهند مدة ٨ دقائق يوم الخميس ، وينوي ان يمشي كل يوم ضعف المدة التي مشاها في اليوم السابق . ففي أي يوم سوف يمشي مدة تزيد على الساعة			
الاحد	الاثنين	الثلاثاء	الاربعاء
٩- من خلال الرسم التالية القيمة الأكثر تكراراً هي			
١٠	١٦	١٧	٢٠
١٠ - من خلال التمثيل التالي أوجدي التجمعات 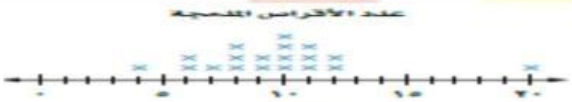			
٦و١٢	٩و٢٠	١٠و١٣	١٥و١٨
١١ - من خلال التمثيل التالي أوجدي الفجوات 			
٥و١٦	٨و١٥	١٠و١٤	١٢و٢٠

س ٢ / اختاري كلمة صح او خطا

١ - التمثيل بالخطوط يفيد في التنبؤ بأحداث مستقبلية	
صح	خطا
٢ - المدرج التكراري تنظم فيه البيانات باستعمال الفئات	
صح	خطا
٣ - المدى في البيانات التالية ٩، ٨ ، ٦، ٤ ،٢ هو ١٠	
صح	خطأ

المعلمة / إيمان الريمي

LIVEWORKSHEETS