SIAP BELAJAR

Nama / Kelas :

A. Simak Video Tentang Gerhana Matahari berikut dengan seksama

B. Simak rekaman berikut

LIVEWORKSHEETS

1. Gambar manakah yang merupakan gerhana matahari

A

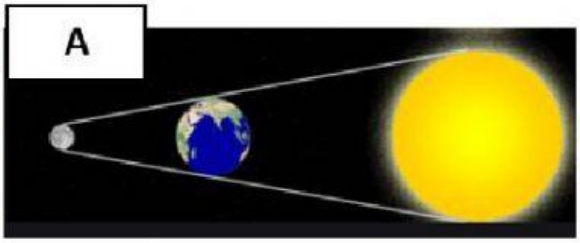

B

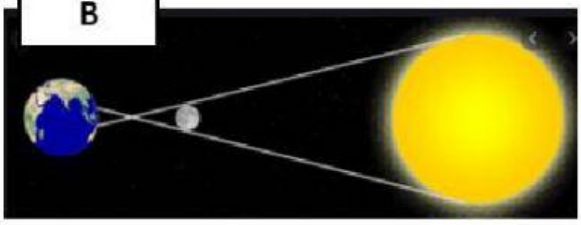

JAWABAN :

2. Fenomen apakah yang terjadi pada gambar berikut!

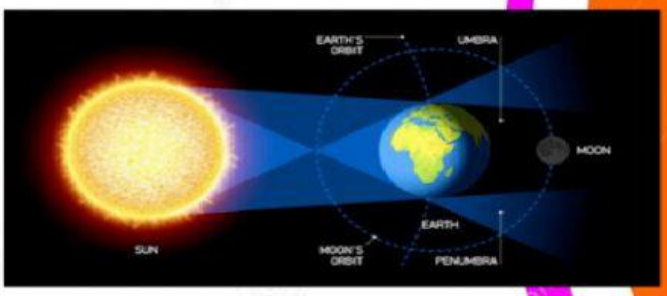

A. Gerhana Bulan

B. Gerhana Matahari

C. Bulan mati

3. Manakah pernyataan berikut ini yang Benar

Gerhana adalah fenomena alam

Mengamati matahari secara langsung dapat membahayakan mata

Gerhana bulan terjadi jika posisi bulan berada di antara matahari dan bumi

4. Tariklah garis sesuai dengan pasangan yang tepat

MATAHARI	terjadi saat sebagian atau keseluruhan penampang Bulan tertutup oleh bayangan Bumi
BULAN	terjadi ketika bulan berada tidak tepat di tengah-tengah garis antara matahari dan bumi

LIVEWORKSHEETS

5. Pasangkan gambar berikut ke urutan yang tepat
Tentang gerhana matahari

LIVEWORKSHEETS