ชื่อ.....ชั้น.....เลขที่.....

1. เครื่องหมายจราจร ป้ายประเภทเตือน ดังภาพ

รูป ก รูป ข รูป ค รูป ง

จากข้อมูล เครื่องหมายป้ายจราจร รูปใดมีแกนสมมาตร 1 แกน ทุกรูป NT 2566

1) รูป ก และ รูป ข

2) รูป ค และ รูป ง

3) รูป ก และ รูป ค

4) รูป ข และ รูป ง

2.

นิดและแมว วาดรูปที่มีแกนสมมาตร จำนวน 2 รูป ดังภาพ

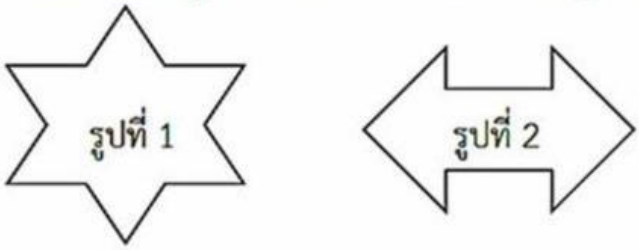

จากข้อมูล รูปที่ 1 และ รูปที่ 2 มีแกนสมมาตรรวมกันกี่แกน NT 2564

1) 4 2) 6

3) 8 4) 10

LIVEWORKSHEETS

3.

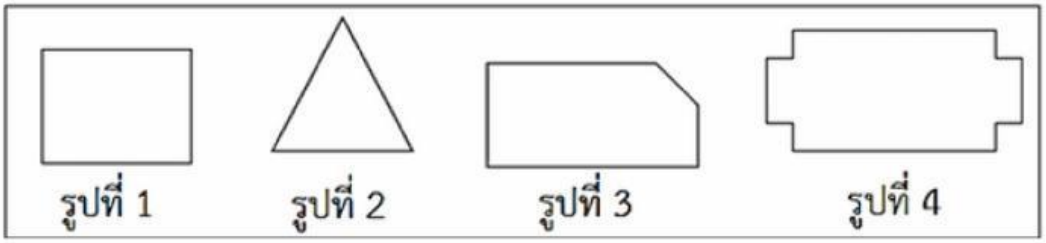

จากภาพ รูปเรขาคณิตสองมิติรูปใดเป็นรูปที่มีแกนสมมาตรมากที่สุด NT 2563

1) รูปที่ 1
2) รูปที่ 2
3) รูปที่ 3
4) รูปที่ 4

4.

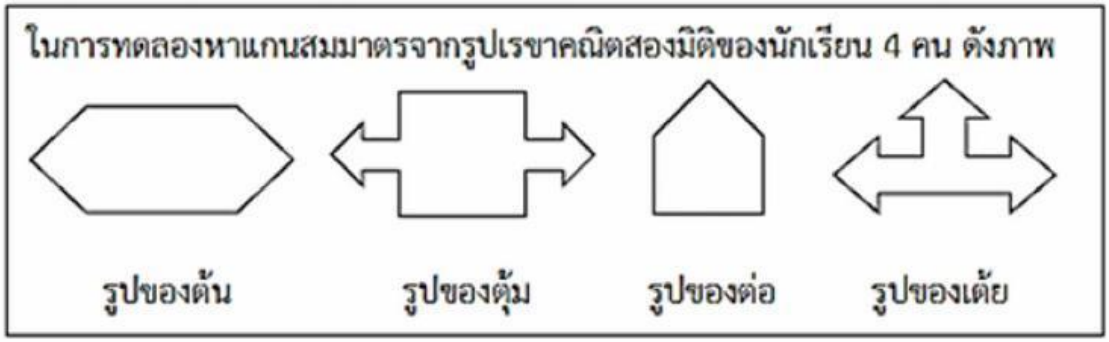

จากข้อมูล ข้อใดเป็นการสรุปข้อมูลเกี่ยวกับแกนสมมาตรได้ถูกต้อง NT 2560

1) รูปของต้นมีจำนวนแกนสมมาตรน้อยกว่ารูปของตุ้ม
2) รูปของเต้ยมีจำนวนแกนสมมาตรมากกว่ารูปของต่อ
3) รูปของต้นและรูปของตุ้มมีจำนวนแกนสมมาตรเท่ากัน
4) รูปของตุ้มและรูปของเต้ยมีจำนวนแกนสมมาตรเท่ากัน

LIVEWORKSHEETS

5.

ในชั่วโมงวิชางานประดิษฐ์ นักเรียนห้องหนึ่งทำกิจกรรมประดิษฐ์พัดเป็นรูปต่าง ๆ ดังนี้

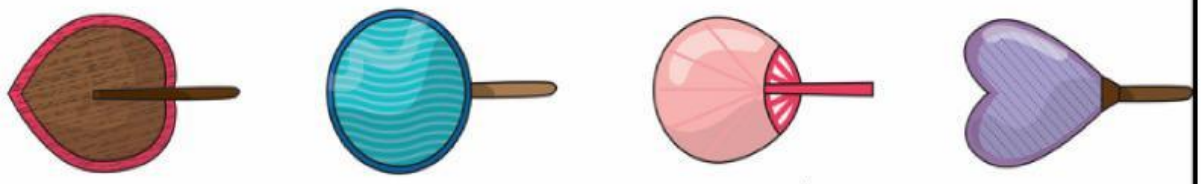

พัดของเอมอร พัดของวิชัย พัดของสาลี่ พัดของมีนา

จากข้อมูลข้างต้น ถ้าไม่พิจารณาด้ามของพัด ข้อใดถูกต้อง

1) มีพัดของนักเรียน 1 คน ที่ไม่มีแกนสมมาตร

2) พัดของวิชัยมีจำนวนแกนสมมาตรมากกว่าพัดของสาลี่

3) พัดของเอมอรมีจำนวนแกนสมมาตรเท่ากับพัดของวิชัย

4) มีพัดของนักเรียน 2 คน ที่มีจานวนแกนสมมาตรมากกว่า 1 แกน

7.

ในชั่วโมงศิลปะ คุณครูให้นักเรียนตัดกระดาษเป็นรูปแบบต่างๆ ดังรูป

รูป 1 รูป 2 รูป 3 รูป 4

จากข้อมูล รูปใดมีแกนสมมาตรมากกว่า 1 แกน NT 2562

1) รูป 1, 2

2) รูป 1, 3

3) รูป 2, 4

4) รูป 3, 4

LIVEWORKSHEETS

8. ในชั่วโมงศิลปะ ครูให้นักเรียนออกแบบลวดลายบนรูปสี่เหลี่ยมจัตุรัส ดังรูป

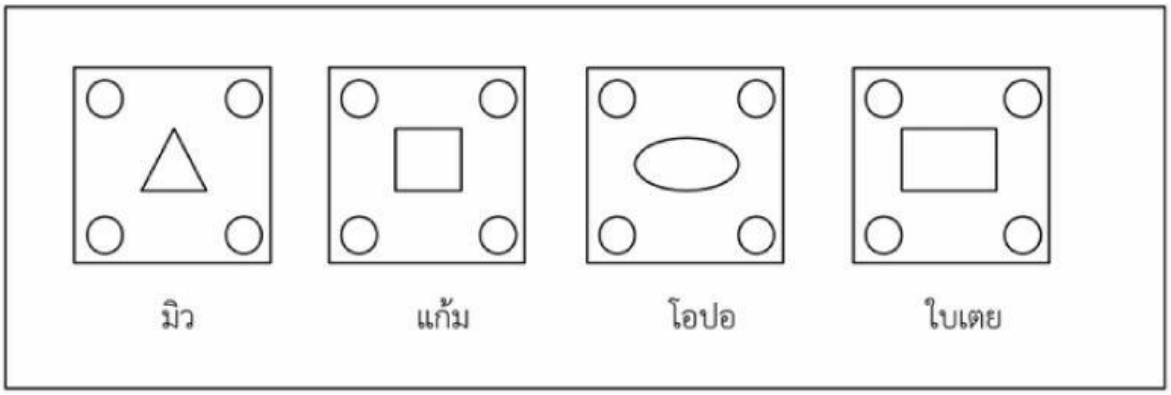

จากข้อมูล ลวดลายของใครมีแกนสมมาตรมากที่สุด NT 2567

1) มิว
2) แก้ม
3) โอปอ
4) ใบเตย

คุณครูวาดรูปสี่เหลี่ยมบนกระดาน 4 รูปภาพ ดังนี้

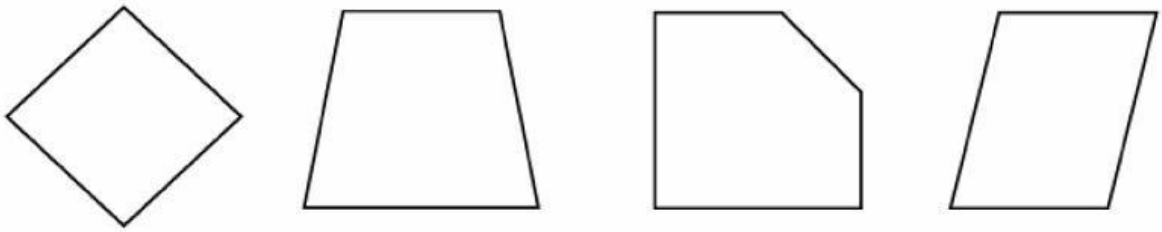

23. จากข้อมูลที่กำหนดให้ สี่เหลี่ยมในข้อใดมีแกนสมมาตร**น้อยที่สุด** (ตัวชี้วัดที่ ค. 2.2 ป.3/11)

1) รูปที่ 1
2) รูปที่ 2
3) รูปที่ 3
4) รูปที่ 4

LIVEWORKSHEETS