ใบงานที่ 1 เรื่อง ฟังก์ชันกำลังสอง

คำชี้แจง : ให้นักเรียนตอบคำถามแต่ละข้อต่อไปนี้ให้ถูกต้อง

1. จงจับคู่สมการกับกราฟที่กำหนดให้ต่อไปนี้

1.1 $y = (x-4)^2 - 3$ **คู่กับกราฟ** ( )

1.2 $y = -(x-4)^2 + 3$ **คู่กับกราฟ** ( )

1.3 $y = (x+4)^2 - 3$ **คู่กับกราฟ** ( )

1.4 $y = -(x+4)^2 + 3$ **คู่กับกราฟ** ( )

1.5 $y = 2(x-2)^2$ **คู่กับกราฟ** ( )

1.6 $y = (x+3)^2 - 4$ **คู่กับกราฟ** ( )

1.7 $y = -\frac{1}{2}(x+1)^2 - 3$ **คู่กับกราฟ** ( )

1.8 $y = -2(x+3)^2 + 2$ **คู่กับกราฟ** ( )

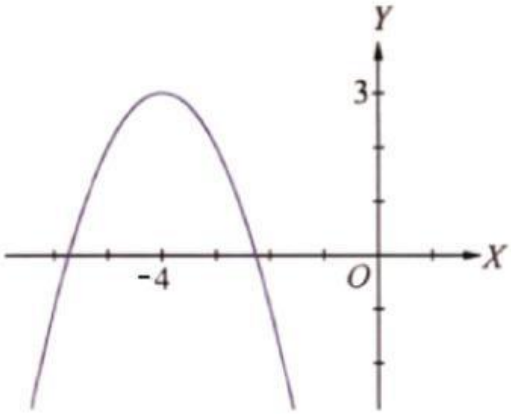

(ก)

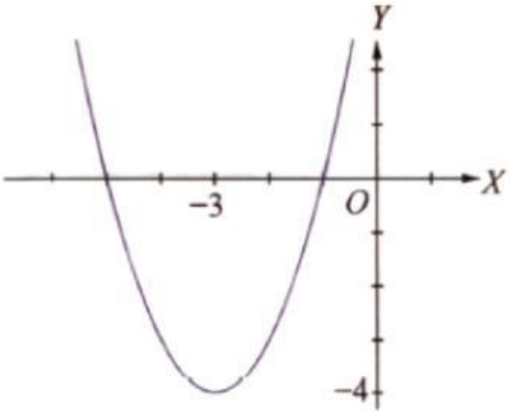

(ข)

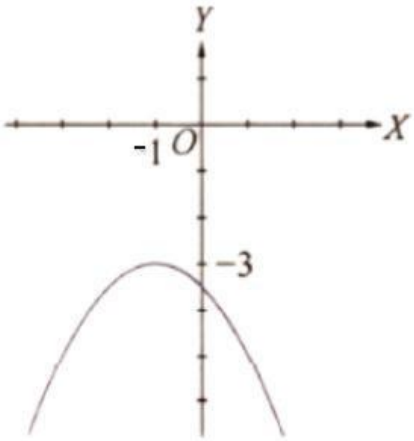

(ค)

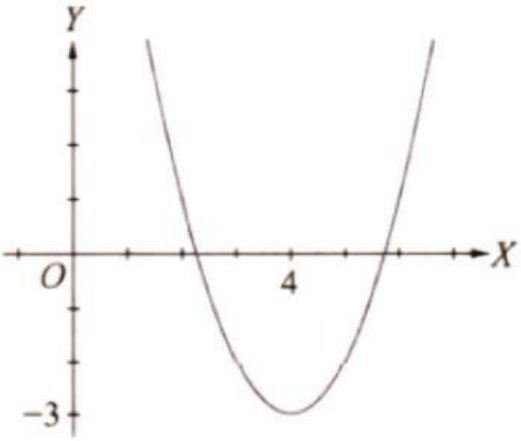

(ง)

ชื่อ.....นามสกุล..... ชั้น..... เลขที่.....

LIVEWORKSHEETS

ใบงานที่ 1 เรื่อง ฟังก์ชันกำลังสอง

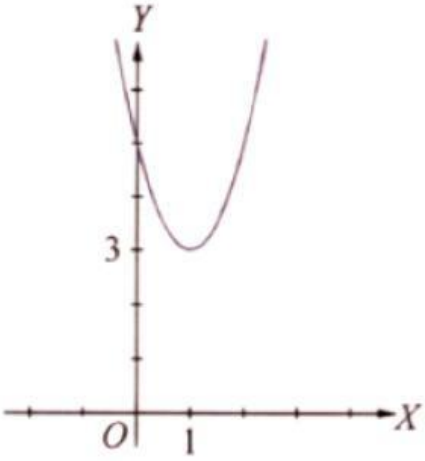

(จ)

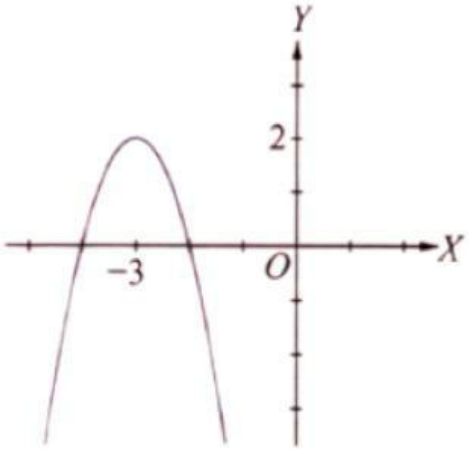

(ฉ)

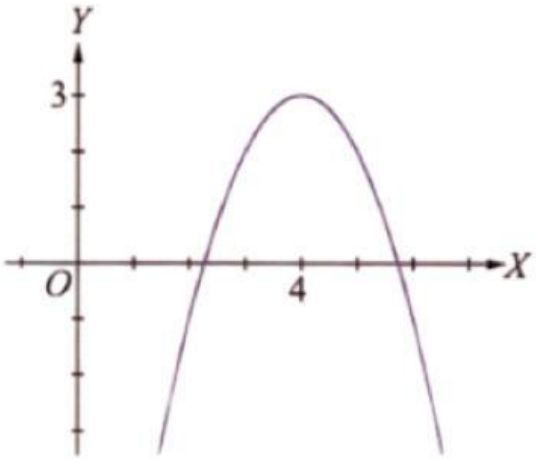

(ช)

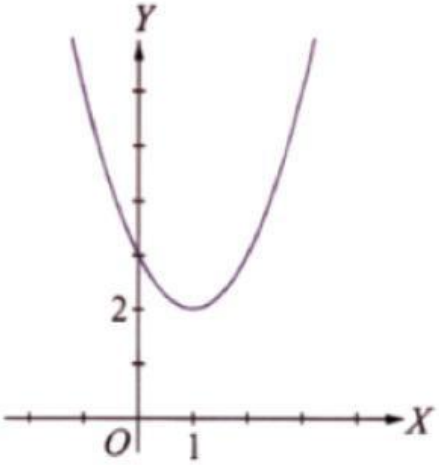

(ซ)

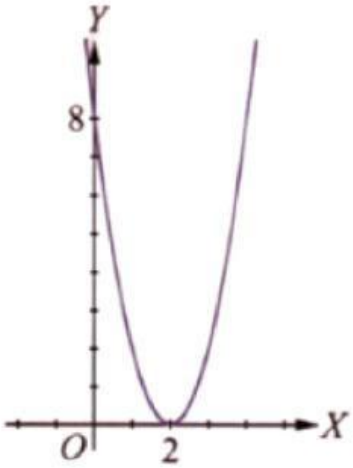

(ฌ)

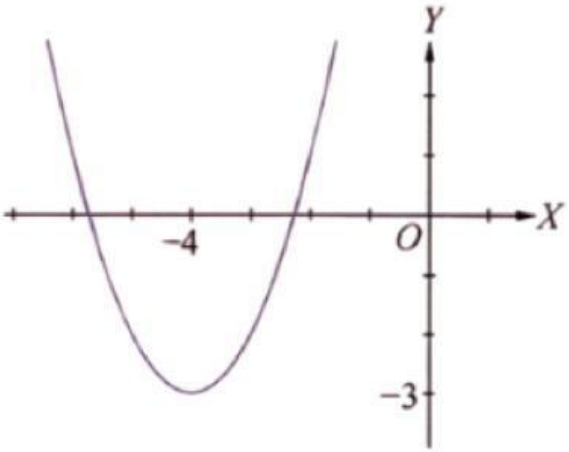

(ญ)

LIVEWORKSHEETS