Діагностувальна робота 5
з теми «Усне додавання і віднімання круглих трицифрових чисел з переходом через розряди»
Тестова робота
Варіант 2

1. Обери, на якому рисунку зображено прямокутний трикутник

а) 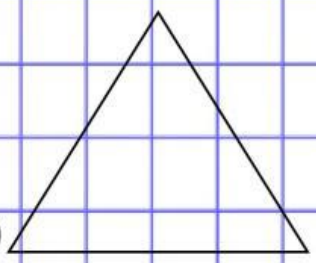

б) 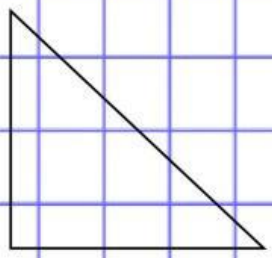

в) 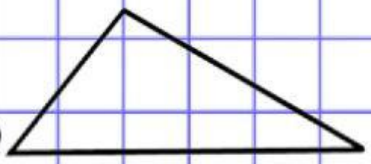

2. Познач формулу, за якою можна обчислити периметр квадрата

а) $P = a \cdot a \cdot a \cdot a$ б) $P = a + a + a$ в) $P = a \cdot 4$

3. Обери вираз, який є розв'язком задачі

Бабуся посадила n кущів троянд, а гортензій – на m кущів менше. Скільки кущів гортензій посадила бабуся?

а) $n + m$ б) $n \cdot m$ в) $n - m$

4. Познач порядок дій у виразах

$15 : (86 - 83) + 49$ $75 - 12 : 6 + 34$

LIVEWORKSHEETS

5. Виконай обчислення

83 грн 40 к. – 21 грн 30 к. = грн к.



6. Склади вираз зі змінною до задачі. Знайди значення виразу, якщо с = 120

У одному фермерському господарстві 510 корів, а в іншому – на *с* менше. Скільки корів у двох фермерських господарствах разом?

Якщо с = 120, то ( ) =

( ) = ( )

Відповідь: у двох фермерських господарствах разом.

Оціни свою роботу. Постав цифру у відповідній клітинці.

1

2

3





Дію множення позначай зірочкою *

Дію ділення позначай двокрапкою :

LIVEWORKSHEETS