Заняття №19 «Число і цифра 6. Циліндр»

Вправа «Стежка»

З яких фігур викладена стежка?
Яку закономірність ви помітили?

Вправа «Теремок»

Розкажи, хто прийшов до теремка першим, другим і так далі (впиши поряд відповідну цифру)
Скільки звірів прийшло в теремок? (стільки ж намалюй кружечків)
Скільки віконець у теремку? (під кружечками намалюй стільки ж квадратиків)

LIVEWORKSHEETS

Обведи цифру кольоровими олівцями. Розфарбуй тільки м’ячики з цифрою «6». Знайди та зафарбуй цифру «6»

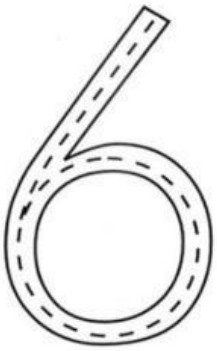

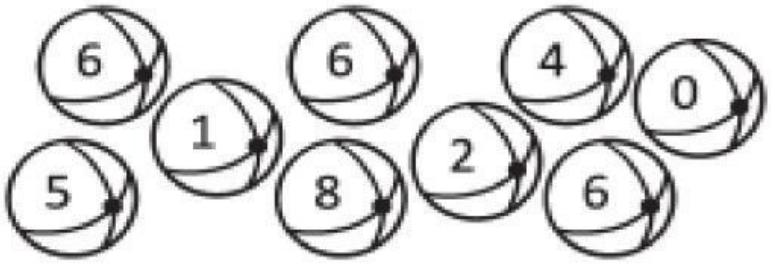

Потренуйся писати цифру по крапочках

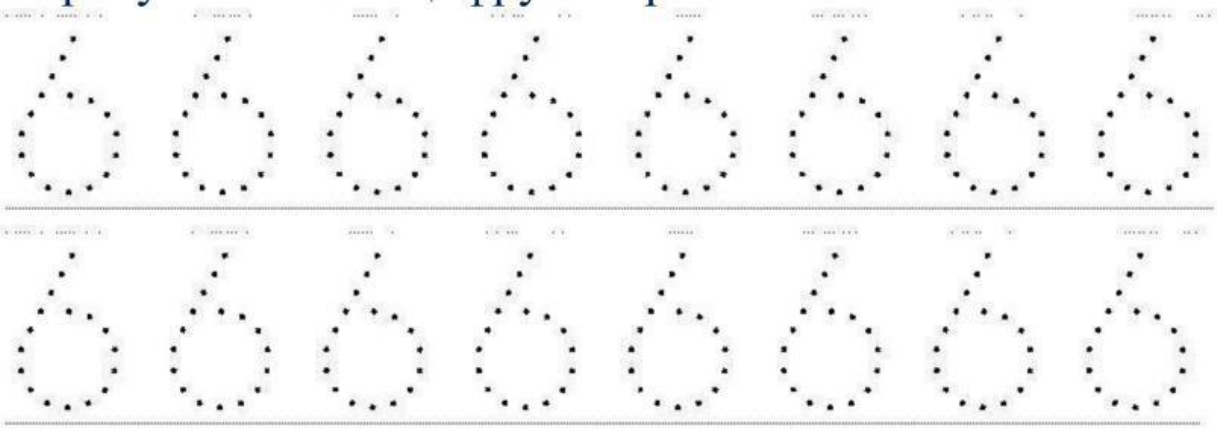

Знайомство з циліндром

Порівняй циліндр та кулю

Чим схожі куля та циліндр?
Чим вони відрізняються?

Розфарбуй цукерки, щоб вони були однакові

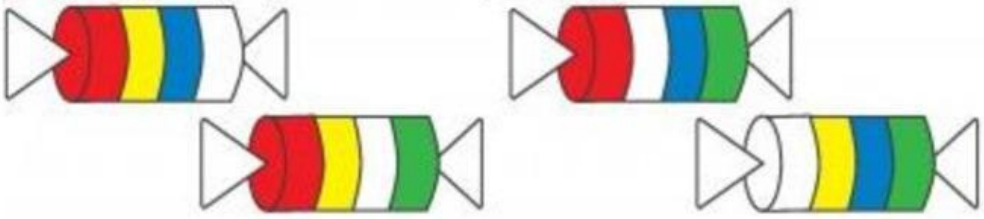

LIVEWORKSHEETS