แบบฝึกทักษะที่ 2

เรื่อง ความยาวรอบรูปของวงกลม

คำชี้แจง จงหาความยาวรอบรูปของวงกลมให้ถูกต้อง

1 หาความยาวของเส้นรอบวงของวงกลม (กำหนด $\pi = 3.14$)

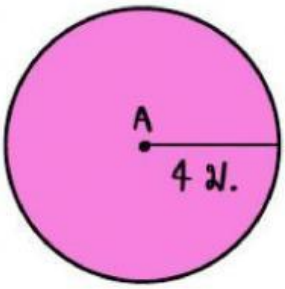

เมตร

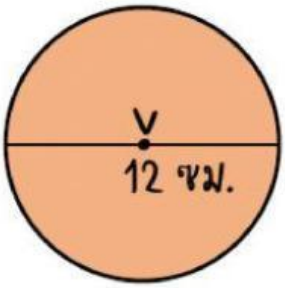

เซนติเมตร

2 หาความยาวของเส้นรอบวงของวงกลม (กำหนด $\pi = \frac{22}{7}$)

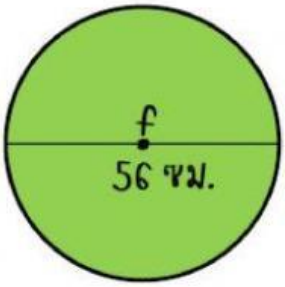

เซนติเมตร

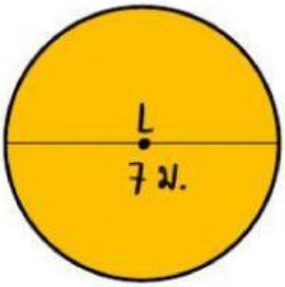

เมตร

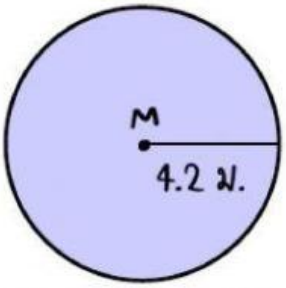

เมตร

ชื่อ-นามสกุล.....ชั้น.....เลขที่.....

LIVEWORKSHEETS
LIVEWORKSHEETS