Nama :

Kelas :

Tanggal :

1. Cocokkan Nama dan benda dibawah ini.

KUBUS

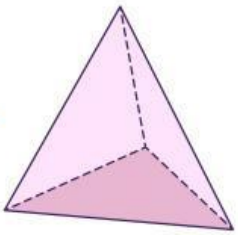

BALOK

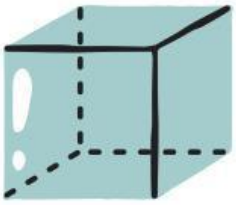

PRISMA

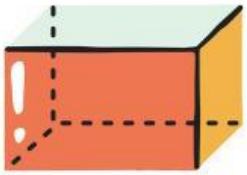

LIMAS

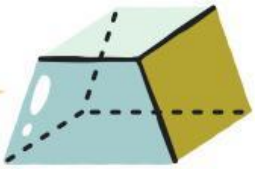

LIVEWORKSHEETS

2. Hitunglah jaring-jaring pada setiap bangunan

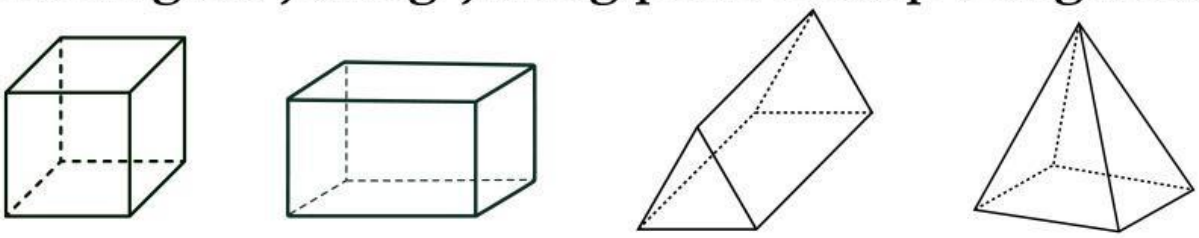

3. Pasangkam rumas pada gambar dibawah ini.

V = p x L L = 2(p x l)+(p x t)+(l x t)	V= s^3 L=$6s^2$
V= ⅓ x L alas x t Lp = L alas + J luas sisi tegak	V= L alas x t Lp = (2 x L alas)+(K alas x t)

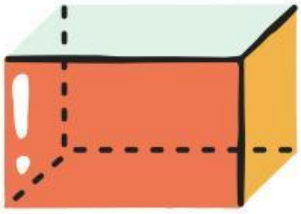

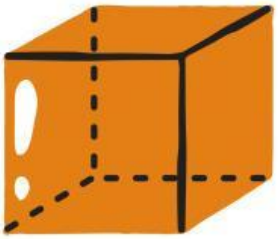

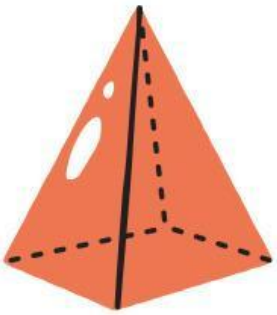

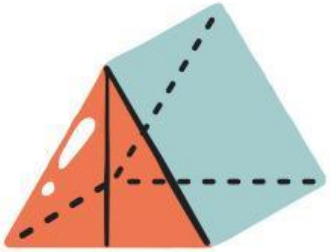

LIVEWORKSHEETS

4. Di sudut taman, terdapat sebuah monumen Ka'bah berbentuk kubus dengan panjang sisi 5 m. Berapakah luas permukaan dari monumen Ka'bah tersebut?

kertas pencarian

5. Dari monumen Ka'bah tersebut memiliki ruang didalamnya bisa digunakan untuk beristirahat yang berukuran 5 m dari setiap sisinya. Maka, hitunglah volume di dalam bangunan tersebut?

kertas pencarian

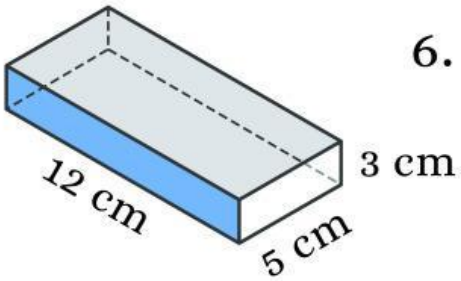

6. Hitunglah luas permukaan dari gambar disamping ?

kertas pencarian

LIVEWORKSHEETS

7. perhatikan gambar disamping! Diketahui memiliki lebar 1 m panjang 2 m dan tinggi 1,5 m. Hitunglah luas permukaan dari atap perahu tersebut.

a. 4,5 cm b. 6,5 cm c. 13 cm d. 15 cm

kertas pencarian

8. Hitunglah volume dari gambar diatas dengan ukuran pada nomor 7?

kertas pencarian

9. Sebuah atap berbentuk limas persegi memiliki panjang sisi alas 1 m dan tinggi limas 1,5 m. Berapakah luas permukaan total limas tersebut?

a. $1m^2$ b. $2m^2$ c. $3m^2$ d. $4m^2$

kertas pencarian

LIVEWORKSHEETS

10. Tentukan volume Limas dengan alas persegi sebagai berikut?

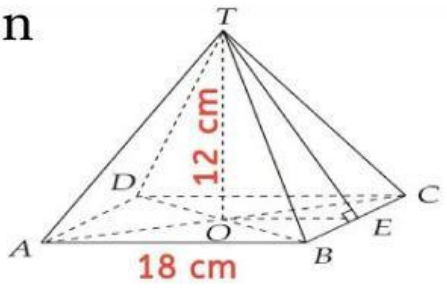

a. 216 cm²

b. 144 cm²

c. 864 cm²

d. 336 cm²

kertas pencarian

LIVEWORKSHEETS