Kurikulum Merdeka | MERDEKA BELAJAR | Merdeka Mengajar

LEMBAR KERJA PESERTA DIDIK

LKPD 3

MATEMATIKA SUDUT

DISUSUN:MUTIA VINA RAHMAWATI

NIM: 34302400021

LIVEWORKSHEETS

KATA PENGANTAR

PUJI SYUKUR KE HADIRAT TUHAN YANG MAHA ESA KARENA ATAS RAHMAT DAN KARUNIA-NYA, LEMBAR KERJA PESERTA DIDIK (LKPD) MATEMATIKA DENGAN MATERI BANGUN DATAR – SUDUT INI DAPAT DISUSUN DAN DIGUNAKAN DENGAN BAIK.

LKPD INI DISUSUN SEBAGAI SALAH SATU BAHAN AJAR UNTUK MEMBANTU PESERTA DIDIK KELAS V SEKOLAH DASAR DALAM MEMAHAMI KONSEP SUDUT PADA BANGUN DATAR. MELALUI KEGIATAN MENGAMATI, MENGUKUR, MENGGAMBAR, DAN MENGELOMPOKKAN SUDUT, DIHARAPKAN PESERTA DIDIK DAPAT BELAJAR SECARA AKTIF, MANDIRI, DAN BERMAKNA.

PENYUSUNAN LKPD INI DISESUAIKAN DENGAN KARAKTERISTIK PESERTA DIDIK SEKOLAH DASAR SERTA BERTUJUAN UNTUK MELATIH KEMAMPUAN BERPIKIR LOGIS, TELITI, DAN SISTEMATIS. MATERI DISAJIKAN SECARA SEDERHANA DAN DILENGKAPI DENGAN LATIHAN-LATIHAN YANG BERKAITAN DENGAN KEHIDUPAN SEHARI-HARI AGAR MUDAH DIPAHAMI.

PENULIS MENYADARI BAHWA LKPD INI MASIH MEMILIKI KETERBATASAN. OLEH KARENA ITU, KRITIK DAN SARAN YANG MEMBANGUN SANGAT DIHARAPKAN DEMI PENYEMPURNAAN LKPD INI DI MASA YANG AKAN DATANG. SEMOGA LKPD INI DAPAT MEMBERIKAN MANFAAT BAGI PESERTA DIDIK DAN GURU DALAM PROSES PEMBELAJARAN MATEMATIKA.

SEMARANG 18 DESEMBER 2025

MUTIA VINA R

LIVEWORKSHEETS

TUJUAN PEMBELAJARAN

Setelah mengerjakan LKPD ini, peserta didik diharapkan mampu:

- Mengidentifikasi jenis-jenis sudut pada bangun datar.
- Menentukan sudut pada berbagai bangun datar sederhana.

PETUNJUK PEMBELAJARAN

1.Bacalah setiap soal dengan teliti.

2.Kerjakan secara mandiri dan rapi.

3.Gunakan busur derajat dan penggaris jika diperlukan.

4.Periksa kembali jawaban sebelum dikumpulkan.

LIVEWORKSHEETS

GABUNGKAN NAMA DENGAN JENIS SUDUT

Tarik garis dari gambar sudut ke nama bagian yang benar

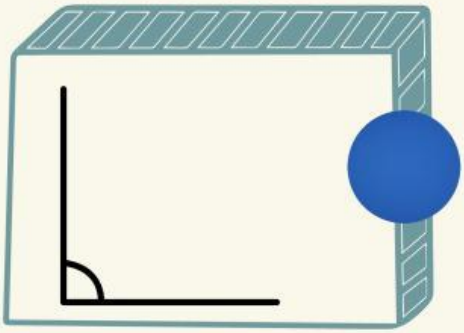

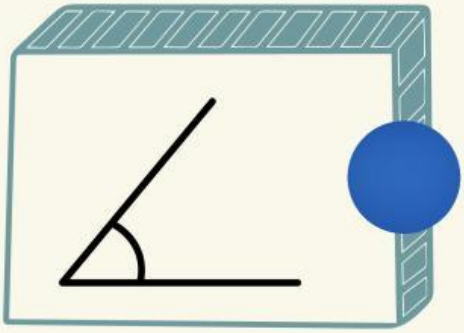

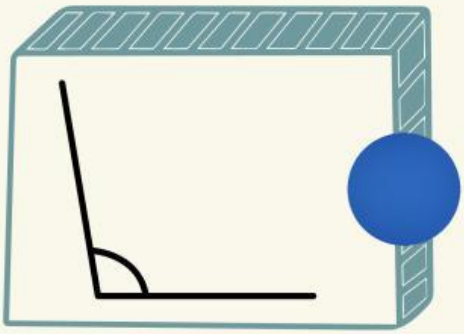

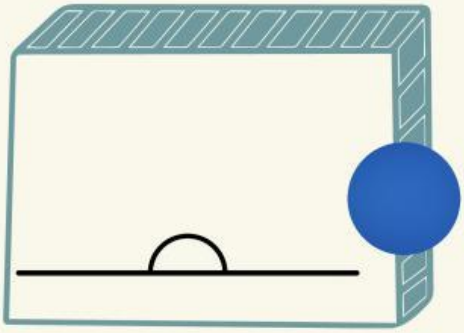

sudut lancip

sudut siku-siku

sudut lurus

sudut tumpul

LIVEWORKSHEETS

MENGAMATI SUDUT

Amatilah sudut yang ada pada gambar diatas!
Berikan tanda centang (✓) pada kolom benar atau salah sesuai pernyataan berikut!.

Pernyataan	benar	salah
Jenis sudut yang terbentuk pada laptop dan buku adalah sama		
Sudut pada angka yang ditujuk pada jam adalah sudut lancip		
Sudut yang terbentuk pada laptop adalah sudut lurus		
Sudut yang terbentuk pada buku adalah sudut siku-siku.		
Jam dinding mempunyai sudut yang paling besar		

LIVEWORKSHEETS

Kurikulum Merdeka | MERDEKA BELAJAR | Merdeka Mengajar

LEMBAR KERJA PESERTA DIDIK

LKPD 4

MATEMATIKA SUDUT

DISUSUN:MUTIA VINA RAHMAWATI

NIM: 34302400021

LIVEWORKSHEETS

KATA PENGANTAR

PUJI SYUKUR KE HADIRAT TUHAN YANG MAHA ESA KARENA ATAS RAHMAT DAN KARUNIA-NYA, LEMBAR KERJA PESERTA DIDIK (LKPD) MATEMATIKA DENGAN MATERI BANGUN DATAR – SUDUT INI DAPAT DISUSUN DAN DIGUNAKAN DENGAN BAIK.

LKPD INI DISUSUN SEBAGAI SALAH SATU BAHAN AJAR UNTUK MEMBANTU PESERTA DIDIK KELAS V SEKOLAH DASAR DALAM MEMAHAMI KONSEP SUDUT PADA BANGUN DATAR. MELALUI KEGIATAN MENGAMATI, MENGUKUR, MENGGAMBAR, DAN MENGELOMPOKKAN SUDUT, DIHARAPKAN PESERTA DIDIK DAPAT BELAJAR SECARA AKTIF, MANDIRI, DAN BERMAKNA.

PENYUSUNAN LKPD INI DISESUAIKAN DENGAN KARAKTERISTIK PESERTA DIDIK SEKOLAH DASAR SERTA BERTUJUAN UNTUK MELATIH KEMAMPUAN BERPIKIR LOGIS, TELITI, DAN SISTEMATIS. MATERI DISAJIKAN SECARA SEDERHANA DAN DILENGKAPI DENGAN LATIHAN-LATIHAN YANG BERKAITAN DENGAN KEHIDUPAN SEHARI-HARI AGAR MUDAH DIPAHAMI.

PENULIS MENYADARI BAHWA LKPD INI MASIH MEMILIKI KETERBATASAN. OLEH KARENA ITU, KRITIK DAN SARAN YANG MEMBANGUN SANGAT DIHARAPKAN DEMI PENYEMPURNAAN LKPD INI DI MASA YANG AKAN DATANG. SEMOGA LKPD INI DAPAT MEMBERIKAN MANFAAT BAGI PESERTA DIDIK DAN GURU DALAM PROSES PEMBELAJARAN MATEMATIKA.

SEMARANG 18 DESEMBER 2025

MUTIA VINA R

LIVEWORKSHEETS

TUJUAN PEMBELAJARAN

Setelah mengerjakan LKPD ini, peserta didik diharapkan mampu:

- Memahami sudut dengan benar

PETUNJUK PEMBELAJARAN

1.Bacalah setiap soal dengan teliti.

2.Kerjakan secara mandiri dan rapi.

3.Gunakan busur derajat dan penggaris jika diperlukan.

4.Periksa kembali jawaban sebelum dikumpulkan.

LIVEWORKSHEETS

MEMAHAMI SUDUT

beri tanda (✓) pada kolom benar atau salah sesuai pernyataan berikut

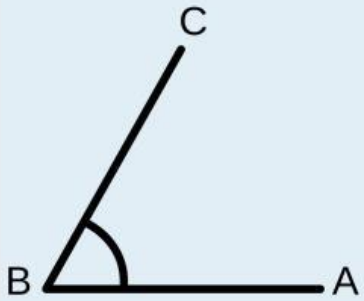

Pertanyaan	benar	salah
Nama sudut yang terbentuk adalah <ABC.		
B merupakan titik sudut		
AB dan BC merupakan kaki sudut		
jenis sudut pada gambar adalah sudut tumpul		

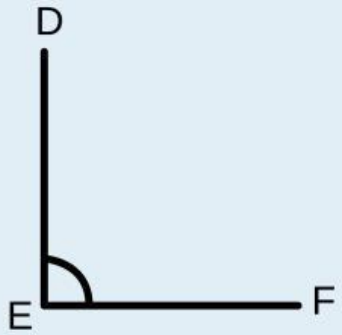

Pertanyaan	benar	salah
Nama sudut yang terbentuk adalah <DEF		
DE merupakan daerah sudut		
D merupakan titik sudut		
jenis sudut pada gambar adalah sudut siku-siku		

LIVEWORKSHEETS

MEMAHAMI SUDUT

beri tanda (✓) pada kolom benar atau salah sesuai pernyataan berikut

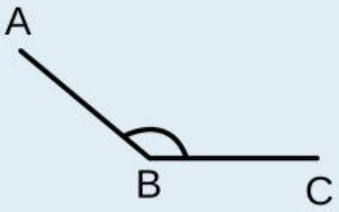

Pertanyaan	benar	salah
Nama sudut pada gambar adalah sudut lancip		
Memiliki besar sudut 90°		
Nama sudut yang terbentuk adalah <ABC		
AB dan BC merupakan kaki sudut		

Pertanyaan	benar	salah
Nama sudut pada gambar adalah sudut lurus		
Merupakan sudut yang paling besar		
Memiliki besar sudut 180°		
Nilai sudut ini lebih kecil dari sudut siku-siku.		

LIVEWORKSHEETS