LEMBAR KERJA PESERTA DIDIK

LKPD

BEFORE CLASS

MENGENAL GARIS TEGAK LURUS, SEJAJAR, BERPOTONGN

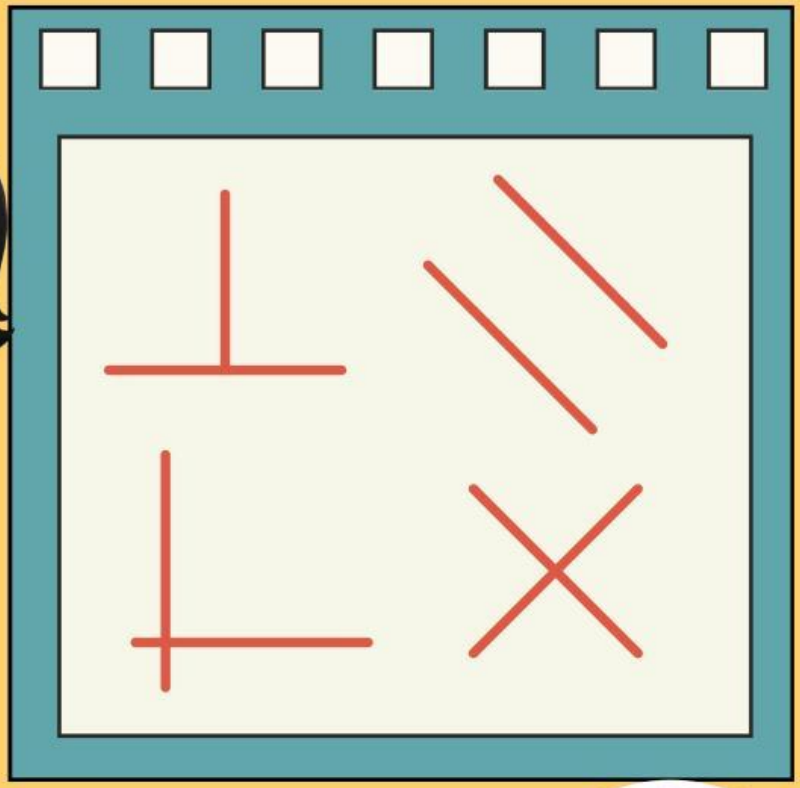

Nama: _____

Kelas: _____

3

LIVEWORKSHEETS

Petunjuk Penggunaan Pembelajaran

Cermati permasalahan yang telah tersedia di LKPD prapembelajaran

Cobalah untuk menyelesaikan permasalahan tersebut berdasarkan pemahamanmu

Simaklah video pembelajaran untuk: Matematika

Buatlah rangkuman dari video pembelajaran tersebut

Cermatilah video "Bangun Datar di Sekitar Kita: Mengenal Sudut, Garis Tegak Lurus, Garis Sejajar"

LIVEWORKSHEETS

KEGIATAN 1: ANSWER

AYO CARI TAHU?

Kerjakan soal pemecahan masalah berikut ini!

Di kelas 3 SD Nusantara, guruguru mengajak siswa belajar tentang jenis-jenis garis melalui motif kain tradisional Indonesia. Setiap motif kain dibuat oleh masyarakat daerah tertentu dan memiliki pola garis yang berbeda sesuai dengan kebiasaan dan keindahan budaya setempat.

Beberapa teman membawa benda-benda berikut ini:

1. **Bima membawa kain Tenun Ikat motif Kotak dari Nusa Tenggara Timur (NTT). Kain Tenun Ikat berasal dari Nusa Tenggara Timur dan digunakan dalam upacara adat. Motif kotak pada kain tenun terbentuk dari garis mendatar dan garis tegak yang saling tegak lurus sehingga membentuk sudut siku-siku.**

2. **Citra membawa kain Sarung Bugis motif Garis Silang dari Sulawesi Selatan. Sarung Bugis berasal dari Sulawesi Selatan dan sering digunakan untuk beribadah dan kegiatan sehari-hari. Motif pada sarung tersebut memiliki garis-garis yang saling sejajar.**

LIVEWORKSHEETS

Tugas Siswa

1. Benda apa saja yang dibawa oleh Bima dan Citra?
2. Jenis garis apakah yang tampak pada motif sarung Bugis tersebut?
3. Garis apakah yang terbentuk dari pertemuan garis mendatar dan garis tegak?
4. Jika kamu diminta membawa satu benda dari rumah untuk menunjukkan garis sejajar, benda apa yang akan kamu pilih? Mengapa?

LIVEWORKSHEETS

KEGIATAN 2: Kegiata Pembelajaran

AYO BELAJAR

Saksikanlah video berikut ini untuk mengenal Garis Tegak Lurus, Garis Sejajar!

Matematika

https://youtu.be/H5u5rXwu_tE?feature=shared

LIVEWORKSHEETS

QUIZ

AYO MENCOBA

MENCOCOKAN
GARIS BANGUN DATAR

Hubungkanlah garis bangun datar
sesuai namanya dibawah ini !

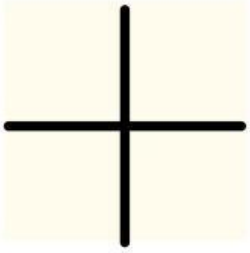

- GARIS TEGAK LURUS

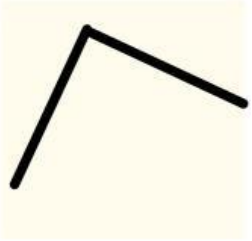

- GARIS BERPOTONGAN

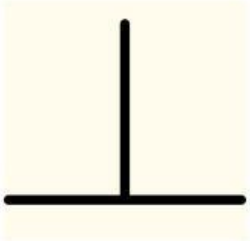

- GARIS SEJAJAR



- GARIS TEGAK LURUS

LIVEWORKSHEETS

AYO MENCOBA

GARIS-GARIS TEGAK LURUS DAN GARIS-GARIS SEJAJAR

Petunjuk:

Kerjakan soal di bawah secara mandiri dengan memilih jawaban a, b, c, atau d.

1

Perhatikan persegi panjang berikut. Sisi atas dan sisi bawah pada persegi panjang merupakan contoh

- ○ Garis berpotongan
- ○ Garis melengkung
- ○ Garis sejajar
- ○ Garis tegak lurus

2

Pada bangun persegi, sisi kiri dan sisi kanan merupakan

- ○ Garis sejajar
- ○ Garis miring
- ○ Garis berpotongan
- ○ Garis melengkung

3

Manakah bangun datar yang memiliki dua pasang garis sejajar?

- ○ Segitiga
- ○ Persegi
- ○ Lingkaran
- ○ Jajar genjang

4

Pada bangun trapesium sama kaki, garis atas dan garis bawah tidak bertemu meskipun diperpanjang. Garis tersebut adalah

- ○ Garis sejajar
- ○ Garis tegak lurus
- ○ Garis berpotongan
- ○ Garis melengkung

LIVEWORKSHEETS

Tugas Siswa

Setelah menyimak video di atas, buatlah rangkuman atau resume dengan gaya bahasamu sendiri!

LIVEWORKSHEETS