LKPD
SISTEM PERNAPASAN

Oleh: Minhah Nabilah, S. Pd.

Anggkota Kelompok:

Kelas : ----------

Materi: Sistem Pernapasan

Tujuan Pembelajaran

1. Mengidentifikasi organ-organ sistem pernapasan manusia beserta fungsinya dengan benar
2. Menjelaskan urutan proses pernapasan manusia secara runtut
3. Mengidentifikasi istilah-istilah penting yang berkaitan dengan sistem pernapasan manusia

FUNGSI ORGAN-ORGAN SISTEM PERNAPASAN

Petunjuk Kegiatan

1. Bacalah setiap pertanyaan dengan teliti
2. Pasangkan nama organ penapasan dengan fungsi yang sesuai
3. Periksa kembali jawaban sebelum dkumpulkan!

HIDUNG	Saluran udara dari trakea menuju paru-paru
TENGGOROKAN	Tempat pertukaran gas oksigen dan karbondioksida
BRONKUS	Percabangan bronkus yang menyalurkan udara ke paru-paru
BRONKIOLUS	Saluran udara yang menghubungkan rongga hidung dengan trakea
ALVEOLUS	Menyaring, menghangatkan, dan melembabkan udara yang masuk

LIVEWORKSHEETS

ALUR PROSES BERNAPAS (*INHALE*)

Petunjuk Kegiatan

1. amati gambar organ sistem pernapasan berikut
2. Seret organ ke lingkaran
3. Pastikan organ berada pada urutan yang benar

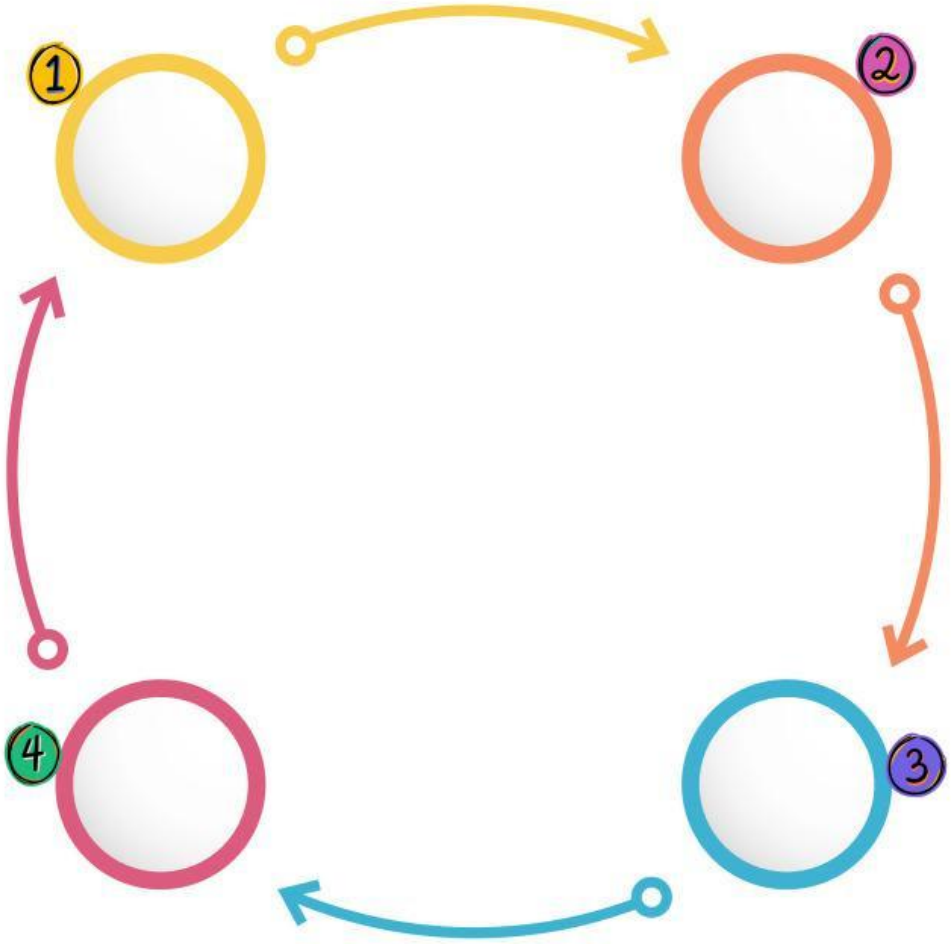

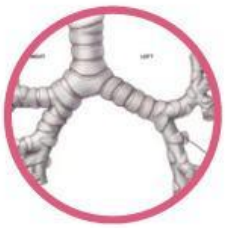

LIVEWORKSHEETS

PROSES SISTEM PENCERNAAN

Petunjuk Kegiatan

Temukan kata-kata yang berhubungan dengan sistem pernapasan pada kotak huruf berikut!

A	E	B	S	E	C	R	Q	I	N
U	E	S	E	P	Y	E	I	G	H
W	E	W	I	I	B	S	S	B	W
Y	A	C	Y	G	B	P	A	N	L
J	X	T	T	L	M	I	R	D	D
S	G	J	Z	O	B	R	I	X	T
W	M	Q	M	T	R	A	P	U	D
X	T	N	Y	I	T	S	S	Y	F
M	O	G	G	S	H	I	N	Y	L
N	E	G	I	S	K	O	I	A	E

EPIGLOTIS

RESPIRASI

INSPIRASI

OKSIGEN

LIVEWORKSHEETS

Refleksi Kelompok

1. Apa kesulitan yang kalian hadapi saat memahami sistem pernapasan manusia?

2. Kesalahan apa yang sempat terjadi saat mengerjakan LKPD? apa yang kelompok kalian pelajari dari kesalahan tersebut?

3. Sebutkan dua kebiasaan sehari-hari yang dapat menjaga kesehatan sistem pernapasan!



TERIMA KASIH!

LIVEWORKSHEETS