Lembar Kerja Peserta Didik

LKPD

Tema Matematika Dasar

SIFAT BANGUN DATAR

KELAS 3

*Disusun oleh:
fatimatuz zahro (34302400143)
Prodi Pendidikan Guru Sekolah
*Dasar

LIVEWORKSHEETS

SOAL CERITA UNSUR DAN SIFAT BANGUN DATAR!

Petunjuk: Isilah jawaban yang benar!

Nama Siswa: _____ Kelas: _____

Contoh

Ani memiliki sapu tangan berbentuk persegi.
Sapu tangan tersebut memiliki 4 sisi sama panjang.

Pertanyaan:

1. Berapa jumlah sisi pada bangun tersebut?
   - 4
   - 2
2. Apakah semua sisinya sama panjang?
   - Tidak
   - Iya

Zara mempunyai penggaris berbentuk segitiga.

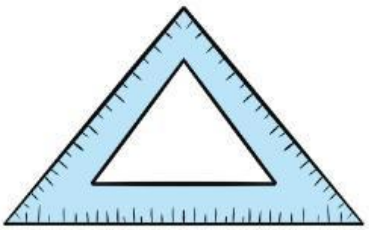

Pertanyaan:

1. Berapa jumlah sisi pada bangun segitiga? ....
2. Berapa jumlah sudutnya? ....

Jam dinding dikelas berbentuk lingkaran

Pertanyaan:

1. Apakah lingkaran memiliki sudut? ....
2. Berapa jumlah sisinya? ....

Buku tulis Budi berbentuk persegi panjang. Buku tersebut memiliki 4 sudut siku-siku.



Pertanyaan:

1. Berapa jumlah sudut pada bangun persegi panjang tersebut?....
2. Apakah semua sisinya sama panjang? ....

LIVEWORKSHEETS

UNSUR DAN SIFAT BANGUN DATAR!

Petunjuk: Mencentang jawaban yang benar di bawah ini!

Nama Siswa: _____ Kelas: _____

1. **Bangun datar yang memiliki sisi dua sama panjang adalah...**

[.....]

[.....]

[.....]

2. **Bangun datar yang memiliki 4 sudut dan 4 sisi berhadapan sama panjang adalah ...**



[.....]

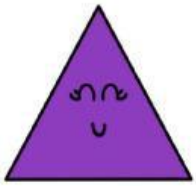

[.....]

[.....]

3. **Bentuk bangun datar yang tepat untuk roda sepeda adalah ...**

[.....]

[.....]

[.....]

4. **Bangun datar yang jumlah sisin dan sudutya sama banyak adalah....**

[.....]

[.....]

[.....]

LIVEWORKSHEETS