Sujunk veiksmus su tinkamais paveikslėliais.

Pavyzdys

2 + 4 + 5 = 11

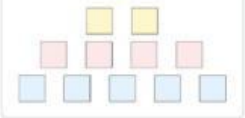

6 + 4 + 8 = 18

5 + 8 + 3 = 16

7 + 4 + 8 = 19

Sujunk veiksmus su tinkamomis skaičių tiesėmis.

4 + 7 + 5

8 + 2 + 3

6 + 7 + 4

Atlik sudėties veiksmus.

a) 2 + 6 + 8 = ☐

b) 4 + 5 + 3 = ☐

c) 8 + 3 + 4 = ☐

d) 3 + 5 + 9 = ☐

e) 7 + 3 + 4 = ☐

f) 5 + 3 + 7 = ☐

LIVEWORKSHEETS

Parašyk ir atlik pavaizduotus sudėties veiksmus.

a) 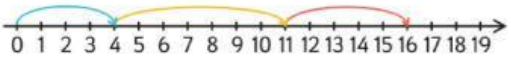

☐ + ☐ + ☐ = ☐

b)

☐ + ☐ + ☐ = ☐

c) 

☐ + ☐ + ☐ = ☐

LIVEWORKSHEETS