ติวข้อสอบ O-net วิทยาการคำนวณ ป.6

พิจารณาการเดินทางไปโรงเรียนของโบว์ แล้วคำถามข้อ 1 - 2

1. โบว์ต้องเดินตามเส้นทางในข้อใดจึงจะถึงโรงเรียนเร็วที่สุด โดยหลีกเลี่ยงสิ่งกีดขวางต่าง ๆ

ก.

ข.

ค.

ง.

2. พิจารณาการเดินทางของโบว์ ดังต่อไปนี้แล้วตอบคำถาม ข้อใดถูกต้อง

ก. จุดหมายปลายทางของโบว์คือบ้าน

ข. โบว์เดินผ่านตลาดและโรงเรียน

ค. โบว์เดินทางผ่านป่าไม้และโรงเรียน

ง. โบว์เดินทางโดยไม่พบสิ่งกีดขวางต่าง ๆ เลย

3. ขั้นตอนแรกที่ควรทำเมื่อพบว่ามีน้ำรั่วซึมออกจากก๊อกน้ำ คือข้อใด

ก. ปิดวาล์วน้ำ ข. ใช้เทปพันรอบก๊อกน้ำ

ค. ทำความสะอาดบริเวณรอยรั่ว ง. เปลี่ยนก๊อกน้ำใหม่

พิจารณาข้อความต่อไปนี้ แล้วตอบคำถามข้อ 4-5

ตารางเดินรถประจำทาง

รถประจำทางสายที่ 1 ออกรถทุก ๆ 25 นาที

รถประจำทางสายที่ 2 ออกรถทุก ๆ 45 นาที

รถประจำทางสายที่ 3 ออกรถทุก ๆ 50 นาที

รถประจำทางสายที่ 4 ออกรถทุก ๆ 1 ชั่วโมง

โดยประจำทางทั้ง 4 สาย เริ่มออกจากท่ารถเวลา 6.00 น.

4. ด.ญ. เอย ทำกิจวัตรต่าง ๆ และพร้อมออกจากบ้านไปที่ป้ายรถประจำทางที่อยู่หน้าบ้านเวลา 7.30 น. เพื่อนั่งรถประจำทางสายใดก็ได้ ไปโรงเรียน โดยรถประจำทางใช้เวลา 25 นาทีจากท่ารถมาถึงป้ายรถประจำทางหน้าบ้านเอย ถ้าเอยต้องการไปโรงเรียนให้เร็วที่สุด เอยควรจะขึ้นรถประจำทางสายอะไร

ก. รถประจำทางสายที่ 1 ข. รถประจำทางสายที่ 2

ค. รถประจำทางสายที่ 3 ง. รถประจำทางสายที่ 4

5. ถ้าเอยต้องการขึ้นรถประจำทางคันแรกที่มาถึงบ้านของเอย เอยต้องออกมา รอที่ป้ายรถประจำทางเวลากี่โมง

ก. 6.25 น. ข 6.30 น. ค. 6.45 น. ง. 7.00 น.

6. อัลกอริทึมคืออะไร

ก. ลักษณะข้อมูลแบบพอยน์เตอร์

ข. กระบวนการทำงานของคอมพิวเตอร์

ค. กระบวนการแก้ปัญหาที่มีลำดับขั้นตอนชัดเจน

ง. การสร้างฐานข้อมูลเพื่อการใช้งานเฉพาะด้านใดด้านหนึ่ง

7. ข้อใดเป็นการแก้ปัญหาเชิงตรรกะและเหตุผล

ก. ตองซื้อตุ๊กตาบาร์บี้ทุกครั้งที่อยากได้

ข. นุ่นรับประทานขนมปังทาเนยเป็นอาหารเช้าทุกวัน

ค. ยุทธเดินไปโรงเรียนที่อยู่ห่างจากบ้าน 20 กิโลเมตร เพื่อประหยัดค่าใช้จ่าย

ง. คุณแม่จะซักผ้าช่วงเช้า เพื่อมีเวลาให้ผ้าโดนแดดได้นานที่สุด

พิจารณารูปภาพต่อไปนี้แล้วตอบคำถาม

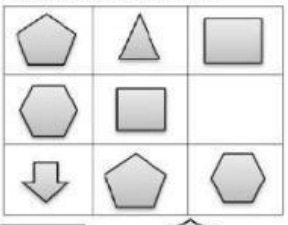

ก. ข. ค. ง.

8. ข้อใดคือข้อดีของการเขียนผังงานเพื่ออธิบายการทำงานของโปรแกรม

ก. แสดงจุดบกพร่องของการทำงานได้

ข. แสดงลำดับขั้นตอนการทำงานชัดเจน

ค. ประหยัดค่าใช้จ่าย

ง. เข้าใจง่าย

9. การเขียนผังงานแบบลำดับมีลักษณะอย่างไร

ก. เพื่อแสดงเงื่อนไขในการตัดสินใจ

ข. แสดงลำดับขั้นตอนก่อน-หลังต่อเนื่องกัน

ค. มีจุดเริ่มต้นและจุดสิ้นสุดที่เดียวกัน

ง. มีกระบวนการที่หลากหลาย

10. เพราะเหตุใดจึงต้องมีการออกแบบโปรแกรมก่อนการเขียนโปรแกรมจริง

ก. ช่วยทำให้การเขียนโปรแกรมง่ายขึ้น

ข. ช่วยในการตรวจสอบความถูกต้องของโปรแกรม

ค. ช่วยทำให้โปรแกรมทันสมัย

ง. ช่วยให้ประหยัดค่าใช้จ่ายในการเขียนโปรแกรม

LIVEWORKSHEETS

พิจารณาผังงานประกาศผลสอบต่อไปนี้ แล้วตอบคำถามข้อ 11-12

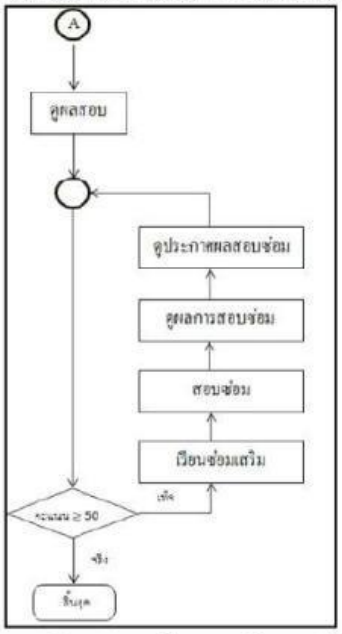

11. ตำแหน่ง A ควรใช้สัญลักษณ์ในข้อใด

ก.

ข. 

ค.

ง. 

12. ผังงานจากข้อ 11 เป็นการเขียนผังงานแบบใด

ก. การเขียนผังงานแบบวงจรปิด

ข. การเขียนผังงานแบบทางเลือก

ค. การเขียนผังงานแบบลำดับ

ง. การเขียนผังงานแบบทำซ้ำ

13. พิจารณาชุดคำสั่งต่อไปนี้

ก.

ข. 

ค. 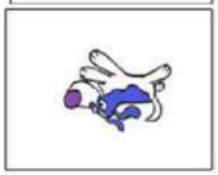

ง.

14. พิจารณาผังงานต่อไปนี้แล้วตอบคำถาม

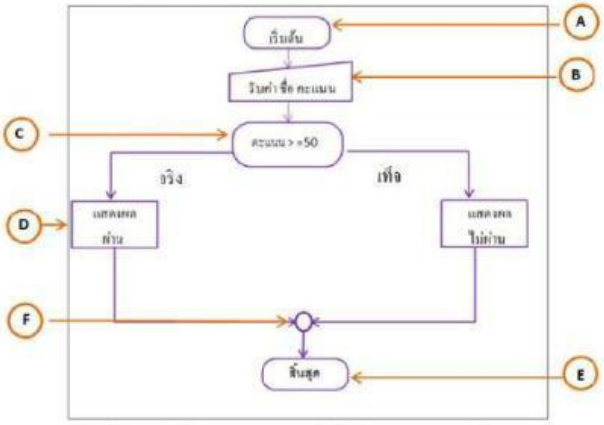

ผังงานข้างต้นพบข้อผิดพลาดหรือไม่ เพราะเหตุใด

ก. พบข้อผิดพลาด เพราะตำแหน่ง F ต้องใช้สัญลักษณ์ทิศทาง

ข. พบข้อผิดพลาด เพราะ ตำแหน่ง C ใช้สัญลักษณ์ไม่ถูกต้อง

ค. พบข้อผิดพลาด เพราะ ตำแหน่ง D แสดงเงื่อนไขไม่ถูกต้อง

ง. ไม่พบข้อผิดพลาด เพราะ ผังงานแสดงขั้นตอนได้ถูกต้อง

15. จากภาพ ▭ เป็นสัญลักษณ์ผังงานแสดงกระบวนการใด

ก. แสดงการประมวลผล

ข. เทปแม่เหล็กเก็บข้อมูล

ค. แสดงจุดเริ่มต้น และจบการทำงาน

ง. แสดงการนำเข้าข้อมูลด้วยการรับค่าทางแป้นพิมพ์

16. ชุดคำสั่งต่อไปนี้ ตรงกับข้อใด

ก. เดิน 100 ก้าว แล้วหมุนตามเข็มนาฬิกา 90 องศา ทำทั้งหมดซ้ำ 10 รอบ

ข. เดิน 100 ก้าว ทำซ้ำ 10 รอบ จากนั้น หมุนตามเข็มนาฬิกา 90 องศา ทำซ้ำ 10 รอบ

ค. เดิน 100 ก้าว แล้วหมุนตามเข็มนาฬิกา 90 องศา โดยหมุนซ้ำ 10 รอบ

ง. เดิน 100 ก้าว ทำซ้ำ 10 รอบ จากนั้น หมุนตามเข็มนาฬิกา 90 องศา

17. หากนักเรียนไปท่องเที่ยวที่ต่างประเทศแล้วต้องการเก็บข้อมูลมาเล่าให้เพื่อน ๆ ฟัง ควรเก็บข้อมูลประเภทใด

ก. ข้อมูลอักขระ ข. ข้อมูลตัวเลข

ค. ข้อมูลภาพ ง. ข้อมูลเสียง

18. เลขทะเบียนรถ **กกต 1112** เป็นข้อมูลประเภทใด

ก. ข้อมูลอักขระ ข. ข้อมูลตัวเลข

ค. ข้อมูลภาพ ง. ข้อมูลเสียง

LIVEWORKSHEETS

19. ข้อมูลในข้อใด**ไม่**ควรเผยแพร่ให้บุคคลอื่นทราบ

ก. บ้านเลขที่ ข เลขประจำตัวนักเรียน

ค. เลขประจำตัวประชาชน ง. น้ำหนักและส่วนสูง

20. เมื่อต้องการเก็บข้อมูลเรื่อง ความพึงพอใจต่อกีฬาชุมชน ควรใช้เครื่องมือใดในการเก็บข้อมูล

ก. แบบสอบถาม ข. แบบสังเกต

ค. สังเกตการทดลอง ง. สัมภาษณ์

21. ข้อใดจัดเป็นข้อมูลที่มีความน่าเชื่อถือที่สุด

ก. เพียรเชื่อเรื่องวิญญาณจากคำบอกเล่าจากบรรพบุรุษ

ข. เล็กลดน้ำหนักโดยการอดอาหารตามความคิดเห็นในเว็บไซต์สาธารณะ

ค. นุ่นเชื่อว่าตะไคร้สามารถรักษาโรคเบาหวานได้จากข้อมูลที่ส่งต่อในไลน์กลุ่ม

ง. หมูค้นคว้าบทความเรื่อง การอนุรักษ์พันธุ์สัตว์ป่าจากเว็บไซต์ของกรมอุทยานแห่งชาติ

22. การรวบรวมข้อมูลโดยวิธีใดที่จะมีความคลาดเคลื่อนมากที่สุด

ก. การสืบค้นจากอินเทอร์เน็ต

ข. การสัมภาษณ์

ค. การสังเกตพฤติกรรม

ง. การเข้าร่วมเหตุการณ์ด้วยตนเอง

23. **ชิน**นำข้อมูลที่สืบค้นมาจากอินเทอร์เน็ตมาเรียบเรียงข้อมูลด้วยวิธีการที่เหมาะสมให้มีความถูกต้องของข้อมูล ข้อมูลที่ชินได้เรียบเรียงนั้นจัดเป็นข้อมูลประเภทใด

ก. ข้อมูลสารสนเทศ ข. ข้อมูลสืบค้น

ค. ข้อมูลปฐมภูมิ ง. ข้อมูลทุติยภูมิ

24. ข่าวจากวิทยุจัดเป็นข้อมูลประเภทใด

ก. ปฐมภูมิ ข. ทุติยภูมิ

ค. ตติยภูมิ ง. ถูกทุกข้อ

25. ข้อใดกล่าวถึงข้อมูลทุติยภูมิได้ถูกต้อง

ก. ตรงต่อความต้องการมากที่สุด

ข. เป็นข้อมูลที่ผู้อื่นรวบรวมแล้วบันทึกไว้

ค. เป็นการแบ่งข้อมูลตามระบบคอมพิวเตอร์

ง. สามารถรวบรวมได้โดยการบันทึกจากแหล่งข้อมูลนั้นโดยตรง

26. "ในคาบวิชาวิทยาศาสตร์ นักเรียนกำลังทำการทดลอง เรื่อง การเปลี่ยนแปลงทางเคมี" จากข้อความนักเรียนกำลังอยู่ในขั้นตอนการรวบรวมข้อมูลขั้นใด

ก. กำหนดวัตถุประสงค์

ข. ค้นหาและรวบรวมข้อมูล

ค. วางแผนและพิจารณาเลือกแหล่งข้อมูล

ง. สรุปผลข้อมูล

27. ข้อมูลในข้อใดที่มีความน่าเชื่อถือมากที่สุดและเป็นข้อมูลจากแหล่งที่มาของข้อมูลโดยตรง

ก. คุณแม่เล่าเรื่องที่คุณพ่อมาจีบตอนคุณแม่เป็นสาวให้ลูกฟัง

ข. เนยลดน้ำหนักโดยการอดอาหารตามความคิดเห็นในเว็บไซต์สาธารณะ

ค. จิมมี่เชื่อว่าตะไคร้สามารถรักษาโรคเบาหวานได้จากข้อมูลที่ส่งต่อในไลน์กลุ่ม

ง. บีค้นคว้าบทความเรื่องประวัติของการศึกษาจากการสอบถามญาติผู้ใหญ่

28. ไอซ์ต้องการทราบว่าเพื่อน ๆ ในห้องเรียนเดินทางมาโรงเรียนโดยวิธีใด ไอซ์จึงใช้วิธีการสอบถามเพื่อนในห้องทีละคน ข้อมูลการเดินทางมาโรงเรียนของเพื่อน ๆ ในห้องเรียนเป็นแหล่งข้อมูลประเภทใด

ก. ปฐมภูมิ ข. ทุติยภูมิ ค. ตติยภูมิ ง. ถูกทุกข้อ

29. ถ้าหากสืบค้นข้อมูลเกี่ยวกับเส้นทางการเดินทางไปน้ำตกไทรโยคน้อย เป็นแผนที่นำทางจะต้องใช้คีย์เวิร์ดอะไร และค้นหาในหมวดหมู่ใด

ก. ใช้คีย์เวิร์ด ไทรโยค หมวดหมู่ แผนที่

ข. ใช้คีย์เวิร์ด ไทรโยคน้อย หมวดหมู่ วีดีโอ

ค. ใช้คีย์เวิร์ด ไทรโยคน้อย หมวดหมู่ แผนที่

ง. ใช้คีย์เวิร์ด ไทรโยค หมวดหมู่ ค้นรูป

30. ถ้าหากสืบค้นข้อมูลเกี่ยวกับแรงและแรงดันที่เป็นภาพเคลื่อนไหว จะต้องใช้คีย์เวิร์ดอะไร และค้นหาในหมวดหมู่ใด

ก. ใช้คีย์เวิร์ด แรงและแรงดัน

ข. ใช้คีย์เวิร์ด แรงและแรงดัน หมวดหมู่ วีดีโอ

ค. ใช้คีย์เวิร์ด แรงดัน หมวดหมู่ ค้นรูป

ง. ใช้คีย์เวิร์ด แรงและแรงดัน หมวดหมู่ ข่าวสาร

31. หากต้องการสนทนาเพื่อแลกเปลี่ยนความคิดกับเพื่อนๆ ในห้องเรียนอย่างรวดเร็ว ควรใช้บริการใด

ก. Blog Gang ข. Outlook ค. Line ง. Gmail

32. บูมแชร์รูปภาพที่มีนถูกตัดต่อในเชิงอนาจารในกลุ่มไลน์ส่วนตัวที่เพื่อน ๆ ส่งมาให้การกระทำของบูมเหมาะสมหรือไม่ เพราะเหตุใด

ก.ไม่เหมาะสม เพราะควรส่งให้ผู้ปกครองดูก่อน

ข. เหมาะสม เพราะเป็นการแชร์รูปภาพเพียงในกลุ่มไลน์ส่วนตัว

ค. ไม่เหมาะสม เพราะทำให้ผู้อื่นเสื่อมเสียชื่อเสียง

ง. เหมาะสม เพราะบูมไม่ได้ตัดต่อภาพด้วยตนเอง

33. ข้อใดจัดเป็นอาชญากรรมทางอินเทอร์เน็ต

ก. การขายเสื้อผ้ามือสองทางอินเทอร์เน็ต

ข. การอ้างอิงข้อมูลที่ค้นคว้าจากอินเทอร์เน็ตในการทำรายงาน

ค. การแสดงความคิดเห็นตามรูปภาพของเพื่อนที่โพสต์ลงสื่อออนไลน์

ง. การดาวน์โหลดภาพยนตร์แล้วนำไปทำสำเนาเพื่อจำหน่าย

LIVEWORKSHEETS

34. ข้อใดเป็นการก่ออาชญากรรมโดยความรู้เท่าไม่ถึงการณ์

ก. นุ่นวางแผนกับกบเพื่อแฮกเฟซบุ๊กของเดือน

ข. แก้วถ่ายรูปหน่อยขณะรับประทานอาหารแล้วส่งต่อผ่านทางอินเทอร์เน็ตโดยไม่ได้ขออนุญาต

ค. หนูนำข้อมูลโครงการของบริษัทมาขายให้บริษัทคู่แข่ง

ง. แมวเจาะระบบธนาคาร

35. ข้อใดช่วยป้องกันการเกิดอาชญากรรมทางอินเทอร์เน็ตได้

ก. บอกรหัสผ่านของตนเองกับเพื่อนสนิทเท่านั้น

ข. เปิดเผยข้อมูลส่วนตัวลงเว็บไซต์

ค. ติดตั้งโปรแกรมสแกนไวรัส

ง. ดาวน์โหลดข้อมูลจากเว็บไซต์ทั่วไป

36. ใครมีความเสี่ยงต่อภัยคุกคามทางอินเทอร์เน็ต

ก. มานีไม่เปิดเผยข้อมูลส่วนตัวให้ผู้อื่นได้รับรู้

ข. โจ๊กไม่คุยกับคนแปลกหน้า

ค. กานดานัดพบเพื่อนใหม่ที่รู้จักผ่านอินเทอร์เน็ตที่ห้างสรรพสินค้า

ง. วิชัยเปลี่ยนรหัสผ่านโทรศัพท์ทุก ๆ 2 – 3 เดือน

37. ใครมีมารยาทในการติดต่อสื่อสารผ่านอินเทอร์เน็ต

ก. น่านฟ้าแก้ไขคำที่พิมพ์ผิดก่อนส่งรายงานผ่านโปรแกรมอินเทอร์เน็ตให้คุณครู

ข. นุชรีบส่งข่าวลือที่ได้รับทางเฟซบุ๊กให้เพื่อน ๆ อย่างรวดเร็ว

ค. นานาเขียนบล็อกเล่าความลับของเพื่อนโดยใช้ภาษาสุภาพ

ง. นีรส่งรูปภาพลามกอนาจารลงในกลุ่มไลน์ส่วนตัว

38. เอฟต้องการส่งรายงานวิชาวิทยาศาสตร์ให้คุณครู ควรส่งผ่านช่องทางใดจึงจะเหมาะสมที่สุด

ก. อีเมล ข. สไกป์ ค. บล็อก ง. ไลน์

39. การใช้งานอินเทอร์เน็ตของบุคคลใดเกิดประโยชน์ที่สุด

ก. ชายเล็กนำรูปภาพของตนเองโพสต์ลงอินเทอร์เน็ต

ข. ฟ้าใสติดตามข่าวที่ถูกแชร์หลายครั้งทางสื่อออนไลน์

ค. ม่านฟ้าลอกการบ้านเพื่อนผ่านไลน์กลุ่ม

ง. ป๊อกทำแก้วรีไซเคิลตามบล็อกของครูณภา

40. ฮอลใส่ลายน้ำเป็นชื่อของตนเองลงในภาพวาดที่ดาวน์โหลดมา การกระทำของฮอลเหมาะสมหรือไม่ เพราะเหตุใด

ก. ไม่เหมาะสม เพราะเป็นการคัดลอกงานผู้อื่นมาเป็นของตนเอง

ข. เหมาะสม เพราะเป็นภาพวาดที่ให้ดาวน์โหลดฟรี

ค. ไม่เหมาะสม เพราะควรตั้งชื่อไฟล์เป็นชื่อของตนเองก่อน

ง. เหมาะสม เพราะใส่ลายน้ำเพื่อไม่ให้ผู้อื่นคัดลอกงานของตนเองได้

41. สัญลักษณ์ผังงานที่ตำแหน่งตัวอักษรใดใช้สัญลักษณ์ผังงานไม่ถูกต้อง เพราะเหตุใด

ก. ตำแหน่ง A เพราะ เป็นสัญลักษณ์ของการสิ้นสุดการทำงานไม่ใช่การเริ่มต้น

ข. ตำแหน่ง B เพราะ เป็นสัญลักษณ์ประมวลผลข้อมูลไม่ใช่การรับข้อมูล

ค. ตำแหน่ง C เพราะ เป็นการแสดงผลลัพธ์ไม่ใช่การรับข้อมูล

ง. ตำแหน่ง D เพราะ เป็นการประมวลผลข้อมูลไม่ใช่การแสดงผลทางหน้าจอ

42. ข้อใดเขียนผังงานการข้ามถนนด้วยสัญญาณไฟจราจรคนข้ามถนนได้ถูกต้อง

ก.

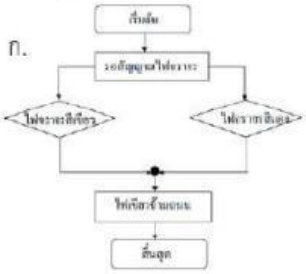

ข.

ค.

ง.

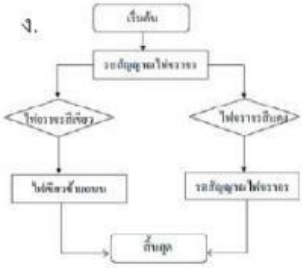

43. น้อยสูงกว่าหวาน แต่นุ่นสูงกว่าน้อย และหวานสูงกว่าเหมียว ข้อใดเรียงลำดับความสูงจากมากไปน้อยได้ถูกต้อง

ก. นุ่น เหมียว น้อย หวาน ข. หวาน น้อย นุ่น เหมียว

ค. นุ่น น้อย หวาน เหมียว ง. นุ่น หวาน น้อย เหมียว

44. ร้านขายไอศกรีมแห่งหนึ่งมีโพรโมชันพิเศษ นักเรียนสามารถนำไม้ไอศกรีมเปล่า 2 ไม้ มาแลกไอศกรีมรสใด ก็ได้ฟรีอีก 1 ไม้ทันที ถ้านักเรียนมีเงินจำนวนจำกัดสามารถซื้อไอศกรีมได้เพียง 6 ไม้เท่านั้น นักเรียนจะได้ ไอศกรีมทั้งหมดกี่ไม้ (รวมไม้ฟรีที่ได้รับจากการนำไม้เปล่าไปแลกด้วย)

ก. 7 ไม้ ข. 8 ไม้ ค. 10 ไม้ ง. 11 ไม้

45. ในการแข่งขันวิ่งแข่งของนักเรียน 4 คน ได้แก่ ฟ้า ดิว นุช และอ้อย มีข้อมูลของผลการแข่ง ดังนี้

1. ดิววิ่งเข้าเส้นชัยโดยใช้เวลาน้อยกว่าอ้อย
2. นุชสามารถวิ่งแซงคนที่วิ่งอยู่ในลำดับที่ 2 ได้ก่อนเข้าเส้นชัย
3. ฟ้าใช้เวลาในการวิ่งเข้าเส้นชัยมากที่สุด

ข้อใดเรียงลำดับที่ของการเข้าเส้นชัยได้ถูกต้อง

ก. นุช , ดิว ,อ้อย ฟ้าดิว

ข. ฟ้า , นุช อ้อย ,ดิว

ค. ดิว , อ้อย , นุช ,ฟ้า

ง. ดิว, นุช , อ้อย , ฟ้า

LIVEWORKSHEETS

46. บอยมีน้ำหนักมากกว่าอั้ม ส่วนใหม่มีน้ำหนักมากกว่าบอย และพีทมีน้ำหนักมากกว่าใหม่ ข้อใดเรียงลำดับจากมากไปน้อยได้ถูกต้อง

ก. บอย พีท อั้ม ใหม่ ข. อั้ม บอย ใหม่ พีท

ค. ใหม่ พีท อั้ม บอย ง. พีท ใหม่ บอย อั้ม

47. ข้อใดกล่าวถึงอินเทอร์เน็ตได้ถูกต้องที่สุด

ก. เครือข่ายคอมพิวเตอร์ที่สามารถนำไปใช้ได้ทุกที่ทุกเวลา

ข. เครือข่ายคอมพิวเตอร์ภายในองค์กรระบบการสื่อสารที่ไม่จำกัดเวลา

ค. เครือข่ายคอมพิวเตอร์ที่เชื่อมต่อกันโดยผ่านระบบสื่อสารคมนาคม

ง. เครื่องคอมพิวเตอร์ที่เชื่อมต่อกันตั้งแต่สองเครื่องขึ้นไป

48. หากต้องการค้นหาข้อมูลเกี่ยวกับปราสาทเขาพระวิหาร โดยผู้ค้นหาต้องการไฟล์งานที่สามารถดาวน์ โหลดได้และไม่สามารถแก้ไขได้ ควรใช้คำค้นหาตามข้อใด

ก. ปราสาทเขาพระวิหาร.DOC ข. ปราสาทเขาพระวิหาร.PDF

ค. ปราสาทเขาพระวิหาร.XML ง. ปราสาทเขาพระวิหาร.xltm

49. ข้อใดเป็นการใช้ตัวดำเนินการในการค้นหาข้อมูลจากอินเทอร์เน็ต โดยต้องการค้นหาคำสำคัญเพิ่มขึ้น

ก. ผักชีลาว AND ยารักษาโรค ข. ดอกไม้ OR ไหว้ครู

ค. "แตงโมสรรพคุณ " ง. รถยนต์ +ไม่ใช่น้ำมัน

50. เพราะเหตุใดจึงควรพิจารณาข้อมูลจากแหล่งที่มาของข้อมูล

ก. เพื่อความน่าเชื่อถือของข้อมูล

ข. เพื่อความทันสมัยของข้อมูล

ค. เพื่อความละเอียดของข้อมูล

ง. เพื่อความหลากหลายของข้อมูล

51. การกระทำของใครที่ทำให้ได้ข้อมูลที่มีความน่าเชื่อถือมากที่สุด

ก. ปุณค้นหาข้อมูลมาทำรายงาน โดยเลือกข้อมูลที่จัดทำขึ้นเมื่อ 10 ปีที่แล้ว

ข. นที่ไปสัมภาษณ์คุณป้าข้างบ้านเพื่อมาทำรายงานเรื่องการจัดการขยะในครัวเรือนในชุมชน

ค. เจนทำรายงานเรื่องการเกิดสุริยุปราคาจึงไปหาข้อมูลในบล็อกต่าง ๆ ที่มีคนทำไว้

ง. ปุ้ยนำข้อมูลจากเพจรักประวัติศาสตร์ไทยมาทำรายงานส่งคุณครูเพราะเห็นว่ามียอดผู้ติดตามเยอะ

52. พิจารณารูปภาพต่อไปนี้

หากต้องการค้นหารูปภาพดังกล่าวในอินเทอร์เน็ต ควรใช้คำค้นหาในข้อใดจึงตรงประเด็นมากที่สุด

ก. เต่า ข. เต่าทะเล

ค. สัตว์ที่มีอายุยืน ง. สัตว์ครึ่งบกครึ่งน้ำ

53. ถ้าตองใช้คำค้นหาว่า "มรดกโลกจังหวัดอยุธยา.jpg" ในโปรแกรมค้นหา จะได้ข้อมูลแบบใด

ก. ข้อมูลการนำเสนอ ข. ข้อมูลเป็นรูปภาพ

ค. ข้อมูลเป็นเนื้อหาความเรียง ง. ข้อมูลตารางงาน

54. หากต้องการค้นหาข้อมูลเกี่ยวกับสามเหลี่ยมทองคำ โดยต้องการไฟล์ข้อมูลในรูปแบบการนำเสนอ
ควรใช้คำค้นหาตามข้อใด

ก. สามเหลี่ยมทองคำ.DOC ข. สามเหลี่ยมทองคำ.PDF

ค. สามเหลี่ยมทองคำ.XML ง. สามเหลี่ยมทองคำ.PPT

55. หากนักเรียนต้องการค้นหาข้อมูลในโปรแกรมค้นหา โดยต้องการให้หน้าจอคอมพิวเตอร์แสดงข้อมูลใด ข้อมูลหนึ่งที่พิมพ์คำค้นหาลงไป นักเรียนควรเลือกใช้คำค้นหาในข้อใดจึงจะถูกต้องที่สุด

ก. ดำน้ำดูปะการัง AND ดำน้ำอนุรักษ์ปะการัง

ข. ดำน้ำดูปะการัง OR ดำน้ำอนุรักษ์ปะการัง

ค. "ดำน้ำดูปะการังดำน้ำอนุรักษ์ปะการัง"

ง. ดำน้ำอนุรักษ์ปะการัง +ดำน้ำดูปะการัง

พิจารณารูปภาพต่อไปนี้ แล้วตอบคำถามข้อ 56 – 57

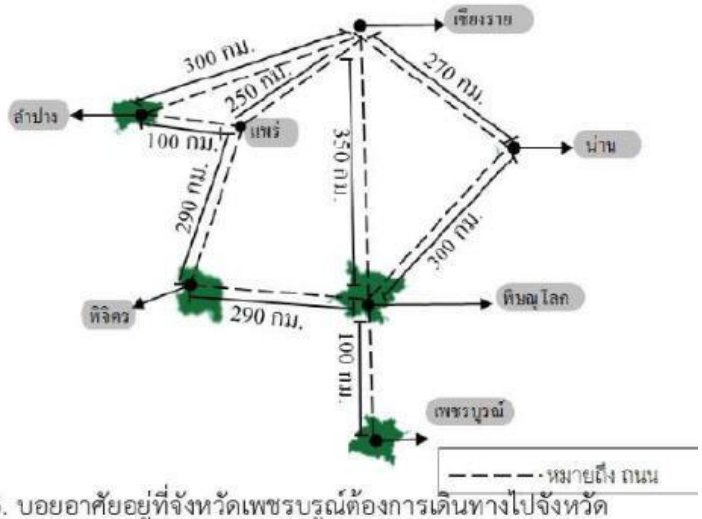

56. บอยอาศัยอยู่ที่จังหวัดเพชรบรูณ์ต้องการเดินทางไปจังหวัดเชียงราย บอยควรเลือกเส้นทางใดจึงจะใช้เวลาน้อยที่สุด กำหนดให้การเดินทางทุกเส้นทางใช้รถที่มีความเร็วคงที่เท่ากันทุกเส้นทาง

ก. เดินทางผ่านจังหวัดพิษณุโลก จากนั้นเดินทางต่อจนถึงจังหวัดเชียงราย

ข. เดินทางผ่านจังหวัดพิษณุโลก จากนั้นไปทางจังหวัดพิจิตร ผ่านจังหวัดลำปางและเดินทางต่อจนถึงจังหวัดเชียงราย

ค. เดินทางผ่านจังหวัดพิษณุโลก จากนั้นไปทางจังหวัดน่านและเดินทางต่อไปจนถึงจังหวัดเชียงราย

LIVEWORKSHEETS

ง. เดินทางผ่านจังหวัดพิษณุโลก จากนั้นไปทางจังหวัดพิจิตร เดินทางผ่านจังหวัดแพร่และเดินทางต่อไปจนถึงจังหวัดเชียงราย

57. ข้อใดกล่าวถูกต้อง

ก. จังหวัดน่านอยู่ห่างจากจังหวัดเชียงรายมากกว่าจังหวัดพิษณุโลก

ข. ระยะทางจากจังหวัดลำปางถึงจังหวัดเชียงรายมีระยะทางเท่ากับจังหวัดพิษณุโลกถึงจังหวัดน่าน

ค. จากจังหวัดพิจิตรอยู่ห่างจากจังหวัดลำปางอยู่ 200 กิโลเมตร

ง. ถ้าเดินทางจากจังหวัดพิจิตรไปจังหวัดน่านผ่านจังหวัดพิษณุโลกจะได้ระยะทางทั้งหมด 390 กิโลเมตร

58. ต้องการเขียนโปรแกรมให้โรงงานผลิตน้ำตาลทรายมีการชั่งน้ำหนักน้ำตาลทรายก่อนจำหน่าย หากสินค้ามีน้ำหนักมากกว่าหรือเท่ากับ 650 กรัม แสดงว่า “ผ่านเกณฑ์” หากสินค้ามีน้ำหนักน้อยกว่า 650 กรัม แสดงว่า “ไม่ผ่านเกณฑ์” ข้อใดเป็นสคริปต์ของโปรแกรม

ก.

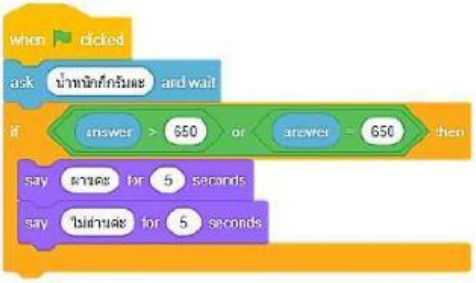

ข.

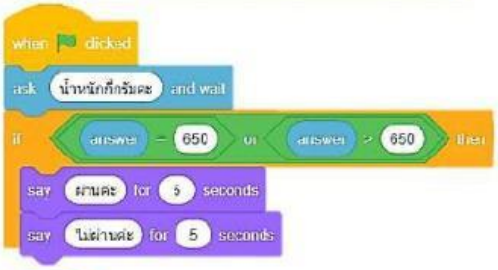

ค.

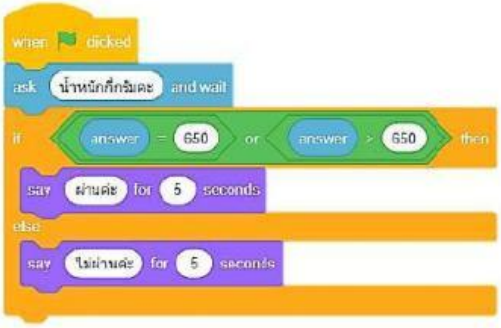

ง.

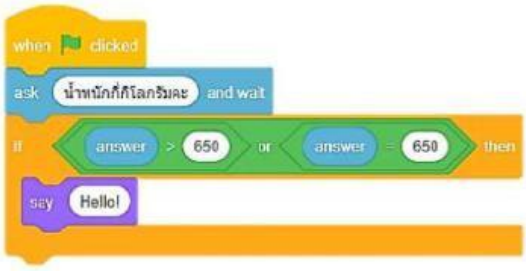

59. สมชายอยากตกแต่งบ้าน โดยต้องการให้มีไม้ยืนต้นช่วยบังแสงแดดป้องกันความร้อนจากดวงอาทิตย์เข้าบ้าน สมชายควรปลูกต้นไม้ตามตำแหน่งในข้อใด

ก.

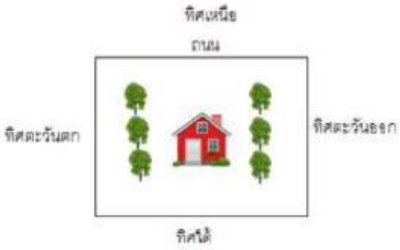

ข.

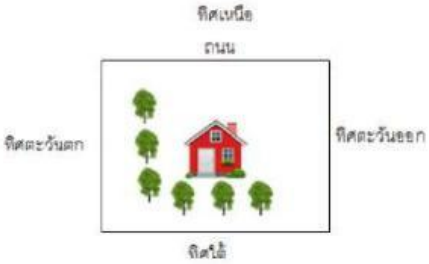

ค.

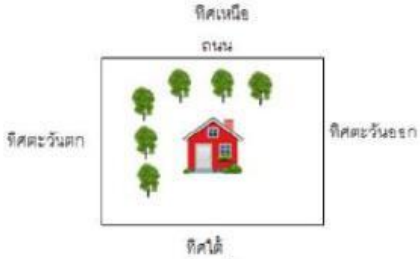

ง.

60. จากข้อ 59 นอกจากการปลูกต้นไม้ สมชายสามารถใช้วิชาใดในการป้องกันความร้อนเข้าบ้าน

ก. ใช้กระจกใสทำหลังคา ข. สร้างระแนงบังแดด

ค. ทาสีกำแพงด้วยสีเข้ม ง. ปูพื้นด้วยแผ่นไม้

LIVEWORKSHEETS