LKPD

KELAS 5

BAB 6 : SUDUT

Nama :

Klass: .....

LIVEWORKSHEETS

NAMA :

KELAS :

NILAI :

SOAL INTERAKTIF – CIRI-CIRI BANGUN DATAR, KOMPOSISI & DEKOMPOSISI

1



Bangun datar yang memiliki 4 sisi sama panjang dan 4 sudut siku-siku adalah .....

- Persegi
- Jajar genjang
- Persegi panjang

2

Bangun datar yang memiliki 2 pasang sisi sejajar dan panjang sisi bersebelahan tidak sama adalah .....

- Persegi
- jajar genjang
- Persegi panjang

3

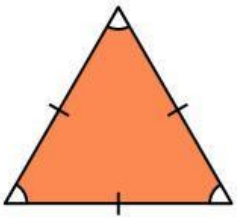

Sebuah segitiga memiliki semua sisi sama panjang. Segitiga ini disebut segitiga .....

- Sama kaki
- Sama sisi
- Siku-siku

4

Bangun datar yang memiliki 0 sisi lurus dan hanya 1 sisi lengkung adalah .....

- Lingkaran
- Sama sisi
- Siku-siku

5

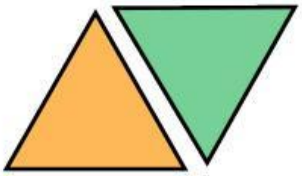

Perhatikan: Dua buah segitiga sama besar disatukan pada salah satu sisi miringnya. Bentuk baru yang dihasilkan adalah .....

- Persegi
- Jajar genjang
- Persegi panjang

LIVEWORKSHEETS

MENGHITUNG JUMLAH SUDUT BANGUN DATAR

Hitunglah jumlah sudut yang ada dalam bangun datar di bawah ini.



= 3

= _____



= _____

= _____

= _____



= _____

= _____



= _____

LIVEWORKSHEETS

HITUNG SUDUT DI JAM

Lihatlah jarum jam pada gambar, tentukan besar sudut yang dibentuk jarum jam, dan tentukan jenis sudutnya (tajam, siku-siku, atau tumpul)!

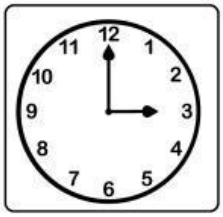

Sudut = 90°

Jenis Sudut = siku-siku

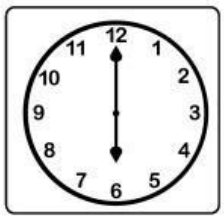

Sudut = _____

Jenis Sudut = _____

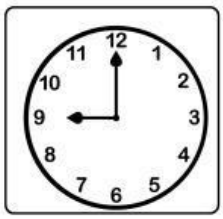

Sudut = _____

Jenis Sudut = _____



Sudut = _____

Jenis Sudut = _____

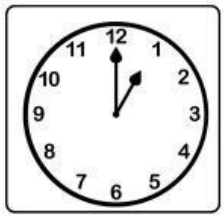

Sudut = _____

Jenis Sudut = _____

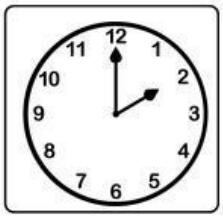

Sudut = _____

Jenis Sudut = _____

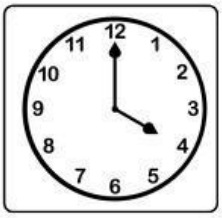

Sudut = _____

Jenis Sudut = _____

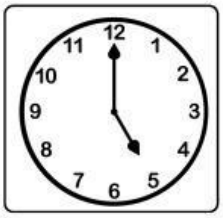

Sudut = _____

Jenis Sudut = _____

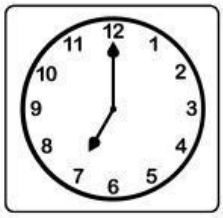

Sudut = _____

Jenis Sudut = _____

LIVEWORKSHEETS



MEMAHAMI SUDUT

Berilah tanda centang (✓) pada kolom benar atau salah sesuai pernyataan berikut!

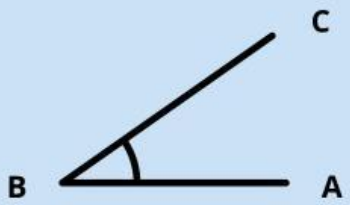

Pernyataan	Benar	Salah
Nama sudut yang terbentuk adalah ∠ABC.		
B merupakan titik sudut.		
AB dan CB merupakan kaki sudut.		
Jenis sudut pada gambar adalah sudut tumpul.		

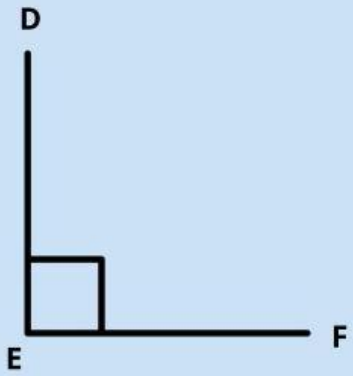

Pernyataan	Benar	Salah
Nama sudut yang terbentuk adalah ∠DEF.		
DE merupakan daerah sudut.		
D merupakan titik sudut.		
Jenis sudut pada gambar adalah sudut siku-siku.		

LIVEWORKSHEETS



MEMAHAMI SUDUT

Berilah tanda centang (✓) pada kolom benar atau salah sesuai pernyataan berikut!

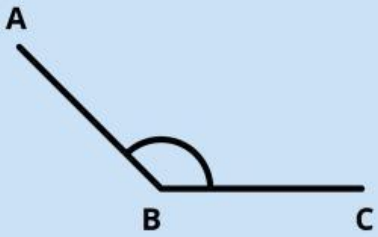

Pernyataan	Benar	Salah
Nama sudut pada gambar adalah sudut lancip.		
Memiliki besar sudut 90°.		
Nama sudut yang terbentuk adalah ∠ABC.		
AB dan BC merupakan kaki sudut.		

Pernyataan	Benar	Salah
Nama sudut pada gambar adalah sudut lurus.		
Memiliki besar sudut 180°		
Merupakan sudut yang paling besar.		
Nilai sudut ini lebih kecil dari sudut siku-siku.		

LIVEWORKSHEETS

MENGAMATI SUDUT



Amatilah sudut yang ada pada gambar diatas!

Berilah tanda centang (✓) pada kolom benar atau salah sesuai pernyataan berikut!

Pernyataan	Benar	Salah
Jenis sudut yang terbentuk pada laptop dan buku adalah sama.		
Sudut pada angka yang ditunjuk pada jam adalah sudut lancip.		
Sudut yang terbentuk pada laptop adalah sudut lurus.		
Sudut yang terbentuk pada buku adalah sudut siku-siku.		
Jam dinding mempunyai sudut yang paling besar.		

LIVEWORKSHEETS

Hubungkan Nama dengan Jenis Sudut

Tarik garis dari gambar sudut ke nama bagian yang benar.

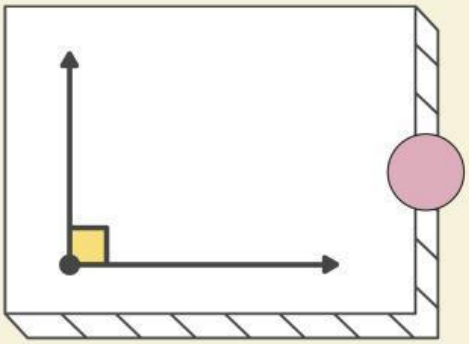

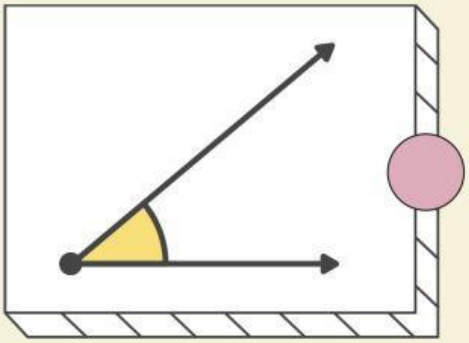

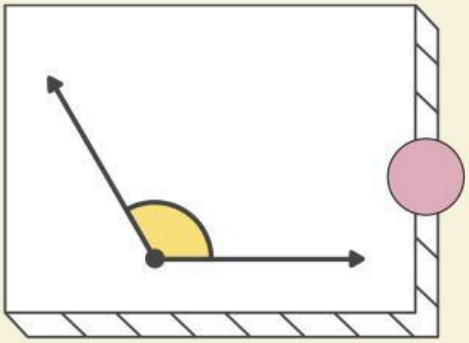

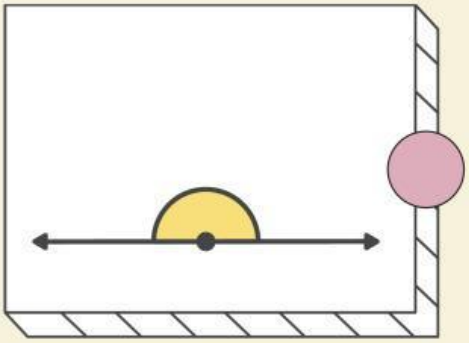

Sudut Lancip

Sudut Lurus

Sudut Tumpul

Sudut Siku-siku

LIVEWORKSHEETS

MENGENAL NAMA-NAMA SUDUT MATEMATIKA

Cermati gambar sudut dibawah ini, kemudian tuliskan nama sudut dengan benar!

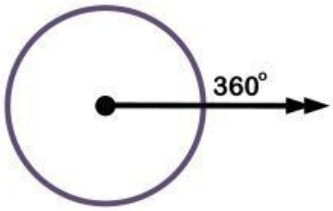

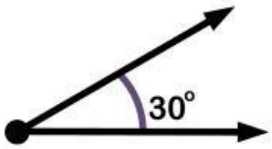

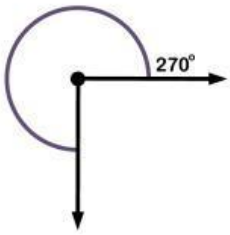

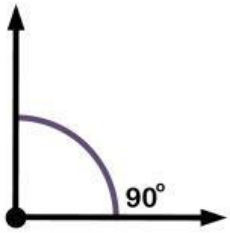

- Sudut Lancip
- Sudut Siku-siku
- Sudut Berpelurus
- Sudut Tumpul
- Sudut Penuh
- Sudut Refleks

LIVEWORKSHEETS

MENCARI KATA

Temukan 4 kosakata Warna dari dari tabel huruf berikut!

H	B	N	H	Y	L	H	C	B	D
U	U	M	I	P	U	U	M	U	U
A	D	C	J	A	N	I	T	A	A
S	I	K	U	S	I	K	U	K	P
D	E	Q	D	D	U	K	M	D	U
B	D	H	T	B	P	G	P	B	T
L	A	N	C	I	P	E	U	N	I
M	E	R	W	R	H	L	N	J	H
Y	L	U	R	U	S	I	T	U	M
F	O	R	E	N	F	W	J	T	H

LIVEWORKSHEETS

Terima Kasih Anak-anak, Kalian Hebat

LIVEWORKSHEETS