Họ và tên HS : .....

Lớp : Ba/.....

BÀI ÔN TẬP TOÁN CUỐI KÌ I
MÔN TOÁN - LỚP BA

Đề A

Bài 1 :

a/ Hãy khoanh vào chữ cái đặt trước kết quả đúng : (0,5điểm)

Số liền trước của số 760 là:

A. 769 B. 759 C. 761 D. 770

b/ Đúng ghi Đ, sai ghi S vào ô trống: (0,5 điểm)

Số ki-lô-gam gạo trong mỗi túi là: *65kg, 120kg, 78kg, 119kg*. Xếp số cân nặng của các bao gạo theo thứ tự từ bé đến lớn là:

A. 78kg, 65kg, 119kg, 120kg ☐

B. 65kg, 78kg, 119kg, 120kg ☐

c/ Chọn hình thích hợp để điền vào dấu "?". (0,5 điểm)

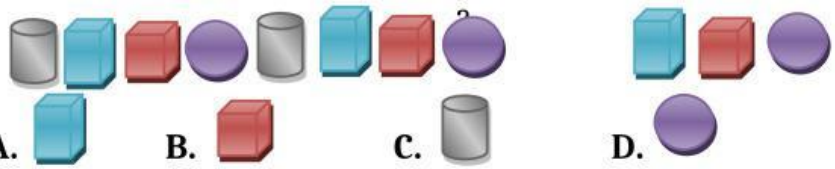

A. **B.** **C.** **D.**

Bài 2: Điền >, <, = vào ô trống (1 điểm)

1000mm ☐ 8 m

1*l* ☐ 700 *ml*

2kg ☐ 0g+ 1000g

689 mm ☐ 456 mm

Bài 3: Viết tên các bán kính, đường kính có trong hình tròn tâm O. (0,75 điểm)

Bán kính: .....

Đường kính: .....

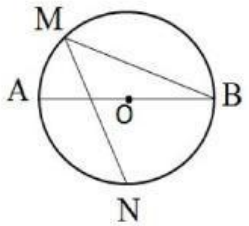

Bài 4: Nhiệt kế nào chỉ nhiệt độ không khí phù hợp với mỗi bức tranh?

(0,75 điểm)

LIVEWORKSHEETS

Bài 5: Đặt tính rồi tính (2 điểm)

a/367 + 182 b/698 – 549 c/ 217 x 4 d/ 492 : 4

....

....

....

....

Bài 6:

a/Tính giá trị biểu thức (1 điểm)

(429 – 247) x 4 518 + 205 x 3

= ..... = ...

= ..... = ...

b/ Tìm thành phần chưa biết trong phép tính (1 điểm)

☐ : 6 = 104 96 : ☐ = 3

.....

Bài 7: Một tổ công nhân buổi sáng sửa được 108m đường. buổi chiều sửa được số mét đường gấp 3 lần so với buổi sáng. Hỏi cả hai buổi tổ công nhân đó sửa được mấy mét đường? (2 điểm)

Bài giải:

.....

.....

.....

.....

Bài 8:

Cái bánh pizza được chia thành … miếng bằng nhau. Mẹ cho An ăn 1 miếng. Vậy An đã ăn $\frac{1}{\dots}$ miếng bánh pizza.

Họ và tên HS : .....

BÀI ÔN TẬP TOÁN CUỐI KÌ I

MÔN TOÁN - LỚP BA

LIVEWORKSHEETS

Bài 1 :

a/ Hãy khoanh vào chữ cái đặt trước kết quả đúng : (0,5điểm)

Số liền sau của số 459 là:

A. 460 B. 458 C. 469 D. 470

b/ Đúng ghi Đ, sai ghi S vào ô trống: (0,5 điểm)

Số ki-lô-gam gạo trong mỗi túi là: *78kg, 130kg, 26kg, 187kg*. Xếp số cân nặng của các bao gạo theo thứ tự từ bé đến lớn là:

A. 26kg, 78kg, 130kg, 187kg ☐

B. 78kg, 130kg, 187kg, 26kg ☐

c/ Chọn hình thích hợp để điền vào dấu "?". (0,5 điểm)

A. **B.** **C.** **D.**

Bài 2: Điền >, <, = vào ô trống (1 điểm)

1000 mm ☐ 7 m

1*l* ☐ 800 *ml*

3kg ☐ 2000g + 1000g

987 mm ☐ 877 mm

Bài 3: Viết tên các bán kính, đường kính có trong hình tròn tâm I. (0,75 điểm)

Bán kính: ……Đường kính……

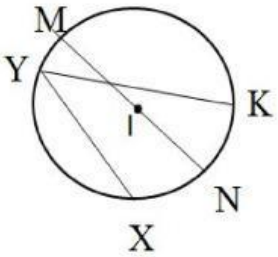

Bài 4: Chọn số cân nặng thích hợp với mỗi vật (0,75 điểm)

LIVEWORKSHEETS

100 kg

1 kg

100 g

Bài 5: Đặt tính rồi tính (2 điểm)

a/432 + 293 b/698 – 439 c/ 326 x 3 d/ 678 : 6

....

....

....

....

....

Bài 6:

a/Tính giá trị biểu thức (1 điểm)

(762 – 471) x 3 703 + 118 x 4

= ..... = ...

= ..... = ...

b/ Tìm thành phần chưa biết trong phép tính (1 điểm)

☐ - 527 = 105 219 + ☐ = 705

.....

Bài 7: Một cửa hàng buổi sáng bán được 104kg gạo, buổi chiều bán được số kg giảm 4 lần so với buổi sáng. Hỏi cả hai buổi bán được bao nhiêu ki-lô-gam gạo? (2 điểm)

Bài giải:

.....

.....

.....

.....

.....

B. PHẦN TỰ LUẬN

1. Đặt tính rồi tính:

616 + 144 735 - 219 150 x 6 873 : 3

....

....

....

....

2.

LIVEWORKSHEETS

a) Tính giá trị của biểu thức:

348 + 42 : 6 = ...

.....

b) Tìm số bị chia:

☐ : 7 = 15

.....

3. Điền vào chỗ chấm:

Hình tròn tâm……..

Bán kính……, ……

Đường kính……..

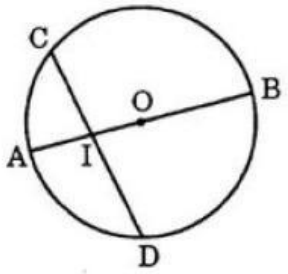

4.

	Giải:
Thùng thứ nhất đựng 18*l* dầu, thùng thứ hai đựng gấp 3 lần số lít dầu của thùng thứ nhất. Hỏi cả hai thùng đựng bao nhiêu lít dầu?	....

5. Đúng ghi Đ, sai ghi S vào ô trống.

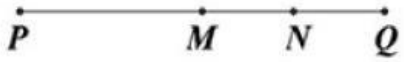

a) M là trung điểm của đoạn thẳng PQ ☐

b) N là trung điểm của đoạn thẳng PQ ☐

6. Đã khoanh vào $\frac{1}{8}$ số chấm tròn ở hình nào?

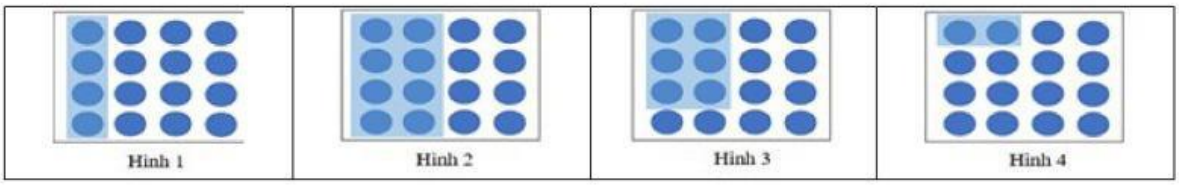

A. Hình 1 B. Hình 2 C. Hình 3 D. Hình 4

Tiếng việt

GẤU CON TÌM BẠN

Trên một hòn đảo hoang giữa biển, có một chú gấu con. Sống một mình, gấu con rất buồn. Suốt ngày, nó nghĩ cách làm thế nào để tìm được bè bạn.

Gió thổi nhè nhẹ, gấu con nhìn lên ngọn cây. Nghe cành cây reo vui, nó hỏi:

- Cây ơi, tôi muốn làm bạn với cây?

Cây chẳng nói năng gì.

Gấu con ngước mắt nhìn lên đám mây như một cây nấm khổng lồ đang bồng bềnh trôi trên trời cao, nó gọi lớn:

- Mây ơi, làm thế nào để có nhiều bạn?

Đám mây cũng chẳng đáp lời, lẳng lặng bay đi.

Gấu con nghĩ mãi. Rồi nó nghĩ phải làm cho hòn đảo trơ trụi này trở thành xanh tươi. Thế là nó gieo hạt, trồng cây.

LIVEWORKSHEETS

Trời mưa, những mầm cây tươi xanh nảy ra. Vài tháng sau, cây lớn nhanh thành hàng cây, rồi vài năm sau thành rừng cây. Một đàn chim bay qua thấy hòn đảo đẹp như một giấc mơ thì hạ cánh và ở lại đảo.

Rồi nhiều đàn chim khác, nhiều loài động vật khác cũng đến hòn đảo sinh sống. Gấu vui lắm vì giờ thì nó có rất nhiều bạn. Nó đã hiểu: muốn có nhiều bạn, hãy làm cho nơi mình sống mỗi ngày một đẹp hơn, đáng sống hơn.

Theo Những câu chuyện vàng

Đọc đoạn văn trên và làm theo yêu cầu của mỗi câu sau đây:

Câu 1. Gấu con cảm thấy thế nào khi sống trên đảo một mình?

a. Nó rất buồn, thèm có bè bạn. b. Nó vui vì được làm bạn với cây.

c. Nó vui vì được kết bạn với mây. d. Nó vui vì cả vùng đảo đó thuộc về nó.

Câu 2. Gấu con đã nói chuyện với những ai?

a. Đám mây, cây b. Cây nấm c. Cây d. Cỏ

Câu 3. Gấu con nghĩ ra cách gì để có nhiều bạn?

a. Mời các loài vật đến đảo sinh sống. b. Mời đàn chim bay qua hạ cánh, ở lại.

c. Gieo hạt, trồng cây, làm cho đảo hoang trở nên xanh tươi.

d. Bỏ đến một đảo khác để sinh sống, kết bạn.

Câu 4: Gấu con cảm thấy như thế nào khi có nhiều bạn đến hòn đảo ?

a. Gấu con rất phiền vì có nhiều bạn b. Gấu vui lắm vì giờ thì nó có rất nhiều bạn

c. Gấu còn cảm thấy mệt mỏi khi phải tiếp nhiều người

d. Gấu con vui buồn lẫn lộn

Câu 5: Gấu con đã hiểu ra muốn có nhiều bạn thì cần phải làm gì?

……
……
……

Câu 6: Câu chuyện muốn nói với chúng ta điều gì?

……
……
……

Câu 7: Hãy cho biết mỗi câu sau thuộc kiểu câu gì?

a. Các bạn đừng làm ồn nữa, để mình học bài!

……
……

a. Gió thổi nhè nhẹ, gấu con nhìn lên ngọn cây.

……
……

Câu 8: Tìm trong câu văn một từ chỉ hoạt động, một từ chỉ đặc điểm:

Một đàn chim bay qua thấy hòn đảo đẹp như một giấc mơ thì hạ cánh và ở lại đảo.

……..

Câu 9. (1 điểm) M1

a. Tìm 2 từ ngữ chỉ nghề nghiệp mà em biết.

……

b. Đặt một câu với một từ ngữ em vừa tìm được ở câu a.

……

LIVEWORKSHEETS