avaluació educació primària

curs 2011-2012

ACTIVITATS: 1 - 7

competència matemàtica

ACTIVITAT 1 | CÀLCUL IMMEDIAT

Completa les operacions següents. Escriu damunt la ratlla els nombres que completen les operacions següents:

a. 51 + 24 = _____

b. 64 - 41 = _____

c. _____ - 15 = 20

d. 7 x _____ = 28

e. 48 : _____ = 8

f. 7^2= _____

LIVEWORKSHEETS

ACTIVITAT 2 | PROBLEMES DE CÀLCUL RÀPID

Resol els problemes següents i escriu la resposta al damunt de la ratlla.

a. En una capsa hi caben 9 bolígrafs. Quants n'hi caben en 5 capses?

_____ bolígrafs

b. Cada setmana dediques dues tardes a activitats extraescolars. Després de 4 setmanes, quantes tardes hi hauràs dedicat?

_____ tardes

c. A l'escola, 200 alumnes faran una sortida escolar en autocar. En cada autocar hi caben 40 alumnes, quants autocars seran necessaris?

_____ autocars

d. El menjar que has comprat en el supermercat costa 34 euros. Si pagues amb dos bitllets de 20 €, quant et tornaran de canvi?

_____ €

LIVEWORKSHEETS

ACTIVITAT 3 | UNITATS DE MESURA D'OBJECTES

Marca una X dins de la casella correcta.

a. La motxilla plena per anar a classe pesa 3

- ☐ kg
- ☐ g
- ☐ cm^2

b. Un regle de classe fa 30

- ☐ cm
- ☐ kl
- ☐ m

c. La casa d'en Miquel té una superfície de 75

- ☐ l
- ☐ m^2
- ☐ m

d. Una ampolla petita d'aigua conté 33

- ☐ kg
- ☐ cm
- ☐ cl

LIVEWORKSHEETS

ACTIVITAT 4 | DESPLEGAMENT DE FIGURES

Marca amb una X el requadre de la resposta correcta entre les dues opcions donades.

a. El desplegament següent, a quin objecte correspon:



☐ **Una capsa**

☐ **Un tub interior de paper higiènic**

b.

☐ 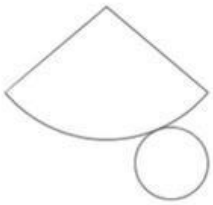

☐ 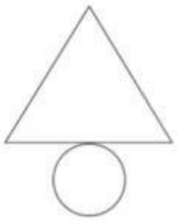

c.

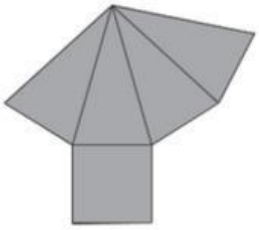

☐ 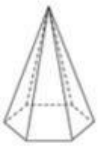

☐ 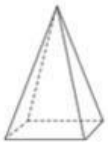

LIVEWORKSHEETS

ACTIVITAT 5 | SÈRIES

Troba els valors que et demanen dins de cada sèrie.

a. **Escriu el nombre que continua la sèrie.**

130 136 142 _____

b. **Troba el nombre decimal que ve a continuació:**

28,6 28,1 27,6 _____

c. **Escriu el nombre de figures de la forma ◇ que hi ha a la tercera posició. Si vols, pots ajudar-te fent el dibuix que hi falta.**

Primera posició	*Segona posició*	*Tercera posició*	*Quarta posició*
			
3	**6**	_____	**12**

ACTIVITAT 6 | COMPLETA OPERACIONS

Escriu damunt de la ratlla els nombres que completen les operacions següents:

a. **0,64 + _____ = 1**

b. **1 - _____ = 0,70**

c. **8,4 x _____ = 84**

d. **2012 : _____ = 20,12**

LIVEWORKSHEETS

ACTIVITAT 7 | VARIACIÓ DE TEMPERATURA

En una població de Catalunya, s'han registrat les temperatures en dos moments del dia, a les 6 del matí i a les 3 de la tarda.

Situa amb una X sobre el termòmetre les dues temperatures:

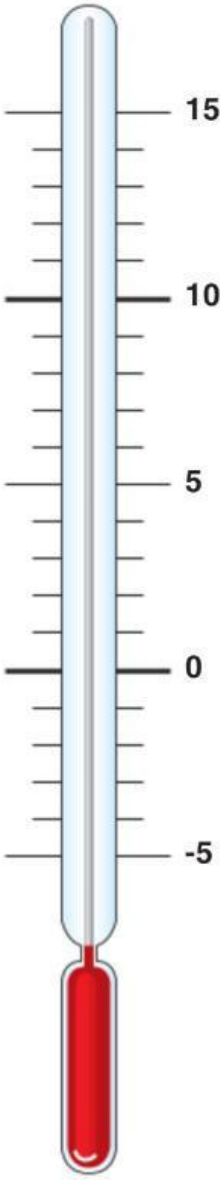

a. Temperatura a les 3 de la tarda: + 8ºC

b. Temperatura a les 6 del matí: - 3ºC

c. Quants graus ha augmentat la temperatura entre les 6 del matí i les 3 de la tarda?

Resposta: ºC

LIVEWORKSHEETS