LKPD

Lembar Kerja Peserta Didik

unsur dan sifat bangun datar sederhana kelas 3 SD

Disusun oleh :
Fatimatuz zahro (34302400143)
pendidikan Guru Sekolah Dasar
Fakultas Keguruan Ilmu Pendidikan

LIVEWORKSHEETS

UNSUR DAN SIFAT BANGUN

Menarik garis sifat dan unsur dengan bangun lain.

Nama Siswa: _____ Kelas: _____

Unsur: Tidak punya sisi, tidak punya sudut.
Sifat: Garis lengkung tunggal, simetri tak hingga.

Unsur: 4 sisi, 4 titik sudut, 4 sudut.
Sifat: Sisi berhadapan sama panjang, 4 sudut siku-siku, simetri putar 2

Unsur: 3 sisi, 3 titik sudut, 3 sudut.
Sifat: Jumlah semua sudutnya 180 derajat

Unsur: 4 sisi, 4 titik sudut, 4 sudut.
Sifat: 4 sisi sama panjang, 4 sudut siku-siku (90°), simetri lipat/putar 4.

Unsur: Segi empat, memiliki 4 sisi, 4 sudut, 2 diagonal.
Sifat: Hanya punya satu pasang sisi sejajar (sisi alas dan atas). Jumlah semua sudutnya 360°

Unsur: sisi, titik sudut, dan diagonal, sementara
Sifat: sudut berhadapan sama besar, diagonalnya saling tegak lurus, membagi dua sama panjang, serta jumlah sudut berdekatan 180°.













LIVEWORKSHEETS

SOAL CERITA UNSUR DAN SIFAT BANGUN DATAR!

Petunjuk: Isilah jawaban yang benar!

Nama Siswa: _____ Kelas: _____

Contoh

Ani memiliki sapu tangan berbentuk persegi.
Sapu tangan tersebut memiliki 4 sisi sama panjang.

Pertanyaan:

1. Berapa jumlah sisi pada bangun tersebut?
   - 4
   - 2
2. Apakah semua sisinya sama panjang?
   - Tidak
   - Iya

Zara mempunyai penggaris berbentuk segitiga.

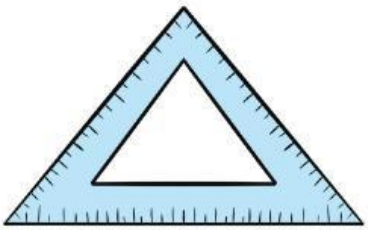

Pertanyaan:

1. Berapa jumlah sisi pada bangun segitiga? ....
2. Berapa jumlah sudutnya? ....

Jam dinding dikelas berbentuk lingkaran

Pertanyaan:

1. Apakah lingkaran memiliki sudut? ....
2. Berapa jumlah sisinya? ....

Buku tulis Budi berbentuk persegi panjang. Buku tersebut memiliki 4 sudut siku-siku.

Pertanyaan:

1. Berapa jumlah sudut pada bangun persegi panjang tersebut?....
2. Apakah semua sisinya sama panjang? ....

LIVEWORKSHEETS

UNSUR DAN SIFAT BANGUN DATAR!

Petunjuk: Mencentang jawaban yang benar di bawah ini!

Nama Siswa: _____ Kelas: _____

1. **Bangun datar yang memiliki 3 sisi dan 3 sudut adalah...**

[.....]

[.....]

[.....]

2. **Bangun datar yang memiliki 4 sisi sama panjang 4 sudut siku-siku adalah ...**

[.....]

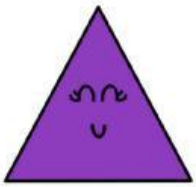

[.....]

[.....]

3. **Bangun datar yang tidak memiliki sudut adalah...**

[.....]

[.....]

[.....]

4. **Bangun datar yang memiliki sisi melengkung adalah....**

[.....]

[.....]

[.....]

LIVEWORKSHEETS