Kurikulum Merdeka

Lembar Kerja Peserta Didik

MATEMATIKA

Materi : Bilangan Pecahan

KELAS 3

DISUSUN OLEH :

NAILATUS SHIFA

34302400101

PENDIDIKAN GURU SEKOLAH DASAR

FAKULTAS KEGURUAN DAN ILMU PENDIDIKAN

UNIVERSITAS ISLAM SULTAN AGUNG SEMARANG

LIVEWORKSHEETS

NAMA :

Kelas:

Petunjuk Pengerjaan:

Tulislah nilai pecahan yang sesuai dengan gambar di bawah ini!

.....
_____
.....



.....
_____
.....



.....
_____
.....



.....
_____
.....



.....
_____
.....



LIVEWORKSHEETS

NAMA :

Kelas:

Petunjuk Pengerjaan:

Bacalah setiap cerita dengan teliti
Amati gambar pecahan yang telah disediakan
Tuliskan pecahan yang menunjukkan bagian yang di makan pada setiap soal!

1. Rendi mempunyai coklat yang di bagi menjadi 8 bagian, lalu 5 bagian coklat telah dimakan. Tuliskan nilai pecahan coklat yang di makan rendi!

Jawaban: ..... / .....

2. Rani memliki kue yang di bagi menjadi 5 bagian, lalu 3 bagian kue telah dimakan. Tuliskan nilai pecahan kue yang dimakan rani!

Jawaban: ..... / .....

3. Santi mempunyai pukis yang dibagi menjadi 4 bagian, lallu semua bagian pukis telah dimakan. Tuliskan nilai pecahan coklat yang dimakan santi!

Jawaban: ..... / .....

LIVEWORKSHEETS