ใบงานที่ 20

การบอกเวลาเป็นนาฬิกาและนาที

ชื่อ.....ชั้น.....

คำชี้แจง : ให้นักเรียนบอกเวลาเป็นนาฬิกาและนาที

1.



_____ นาฬิกา _____ นาที

2.



_____ นาฬิกา _____ นาที

3.

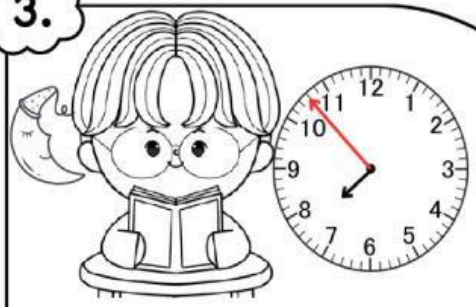

_____ นาฬิกา _____ นาที

4.



_____ นาฬิกา _____ นาที

5.

_____ นาฬิกา _____ นาที

6.



_____ นาฬิกา _____ นาที

LIVEWORKSHEETS