พื้นที่วงกลม

คำชี้แจง : ให้นักเรียนหาพื้นที่ของวงกลมที่กำหนดให้ต่อไปนี้ ($\pi \approx \frac{22}{7}$)

1.

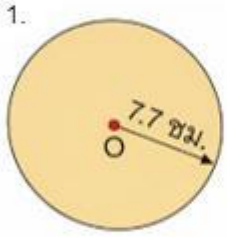

จากสูตร พื้นที่วงกลม $= \pi r^2$

แทนค่า = $(\frac{\square}{\square}) \times \square \times \square$

=..... ตารางเซนติเมตร

2.

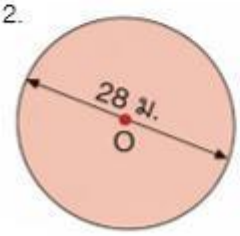

จากสูตร พื้นที่วงกลม $= \pi r^2$

แทนค่า = $(\frac{\square}{\square}) \times \square \times \square$

=..... ตารางเมตร

3.

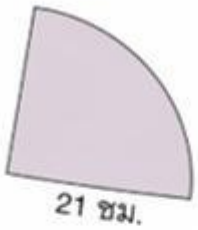

จากสูตร พื้นที่วงกลม $= \pi r^2$

แทนค่า = $(\frac{\square}{\square}) \times \square \times \square$

=..... ตารางเซนติเมตร

คำชี้แจง : ให้นักเรียนหาพื้นที่ของวงกลมที่กำหนดให้ต่อไปนี้ ($\pi \approx 3.14$)

4.

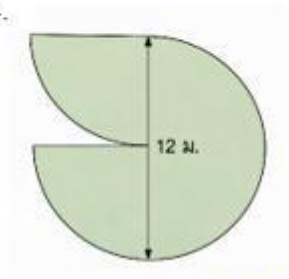

จากสูตร พื้นที่วงกลม $= \pi r^2$

แทนค่า = $(\frac{\square}{\square}) \times \square \times \square$

=..... ตารางเมตร

LIVEWORKSHEETS

ชื่อ-สกุล.....ชั้น..... เลขที่ .....