LKPD

Kelas 1

By. Yanuarin Devita Amelia, S. Pd

LIVEWORKSHEETS

Volume dan Kapasitas

Tentukan volume cairan yang ada di dalam gelas



LIVEWORKSHEETS

Hitung masing-masing gambar

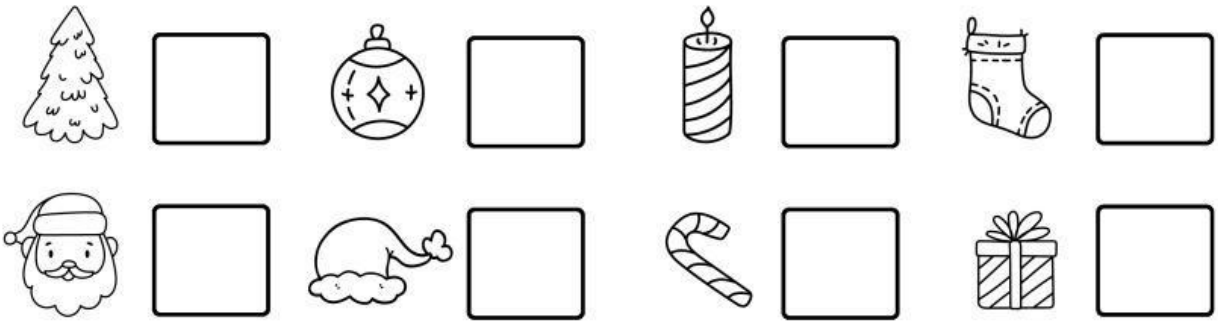

LIVEWORKSHEETS

ADDITION AND SUBTRACTION

DIRECTIONS : Fill with the correct answer!

5 + 3 =	9 - 3 =
4 + 2 =	8 - 4 =
3 + 1 =	7 - 6 =
1 + 2 =	6 - 2 =
3 + 4 =	5 - 3 =
6 + 4 =	4 - 1 =
7 + 3 =	3 - 2 =

LIVEWORKSHEETS

Kasih Sayang Orang Tua

Hubungkan kalimat di bawah ini dengan gambar yang tepat!

Ibu membimbingku belajar.

Ayah membacakan cerita untukku dan adik.

Ayah mengajariku naik sepeda.

Ibu menyiapkan sarapan.

Ayah dan ibu berdoa untuk anak-anaknya.

LIVEWORKSHEETS

BELAJAR MELENGKAPI KALIMAT

Lengkapilah kalimat di bawah ini dengan tepat!

Ibu sedang _____ di dapur

Adik rajin _____ gigi

Ayah pergi ke kantor menaiki _____

Ibu _____ piring di dapur

Kakak sedang _____ di kamar

Kakak _____ mencuci baju baru

Payung kakak berwarna _____

LIVEWORKSHEETS

MELENGKAPI KALIMAT

Isilah titik-titik pada kalimat di bawah ini dengan nomor gambar yang sesuai agar kalimat menjadi lengkap dan benar!

1. Ayah pergi ke _____untuk bekerja.

2. Saya suka makan _____karena rasanya manis.

3. Paman sedang membaca _____ di ruang tamu.



4. Kakak dan Adik sedang bermain _____ di taman.

5. Setiap pagi, aku selalu_____gigi sebelum berangkat sekolah.

6. Ibu pergi ke_____membeli bahan makanan.

LIVEWORKSHEETS