Nama : Nurudin Edi Prianto, S.Pd.
Instansi : SD Negeri 6 Panjalu

Nama Siswa : .....
Kelas : .....
Absen : .....

LEMBAR KERJA PESERTA DIDIK

Matematika

KD 3.9 Luas Bangun Datar

A. Input Video

Silahkan kalian simak video penjelasan tentang luas bangun datar di bawah ini !'

B. Input MP3

Silahkan kalian simak MP3 di bawah lalu tulislah pada kotak yang tersedia !

C. Drop Down

Sebuah persegi memiliki sisi 15 cm, berapakah luas persegi tersebut ?

D. Pilihan Ganda

Perhatikan gambar dibawah ini !

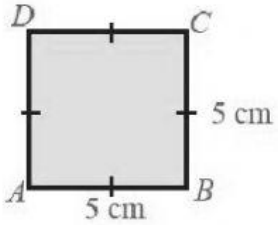

Dari gambar diatas, luas bangun tersebut adalah ....

A. 10 cm^2
B. 15 cm^2
C. 20 cm^2
D. 25 cm^2

LIVEWORKSHEETS

E. Check List

Pilihlah jawaban yang benar !

Luas persegi adalah 4 x sisi
Luas segitiga adalah sisi x sisi
Luas persegi panjang adalah panjang x lebar
Luas persegi panjang adalah sisi x sisi

F. Penjodohan Kotak Dengan Garis

Jodohkan bangun datar dengan luasnya dengan tepat !

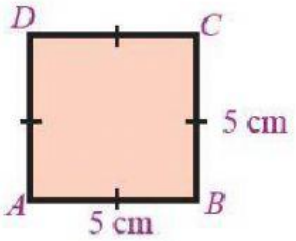

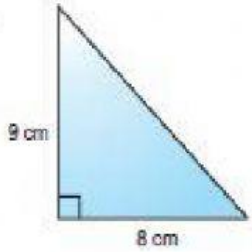

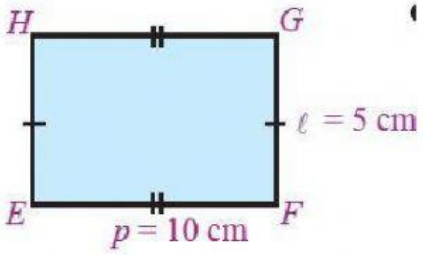

36 cm²

50 cm²

25 cm²

G. Drag dan Drop

Silahkan pindahkan hasil luas bangun persegi !

Sisi	Luas
9 cm	
7 cm	
11 cm	

121 cm²

49 cm²

91 cm²

LIVEWORKSHEETS