LKPD

Ilmu Pengetahuan Alam

Tema: Sistem Koordinasi

Nama: _____

Kelas: _____



LIVEWORKSHEETS

Sistem Saraf

Perhatikan gambar, isilah kotak di bawah ini.

Pengertian Sistem Saraf

_____

_____

Bagian pada Sistem Saraf

_____

_____

Fungsi Sistem Saraf

_____

_____

Cara Kerja Sistem Saraf

_____

_____

LIVEWORKSHEETS

Bagian-Bagian Otak

Tulislah nama bagian-bagian otak sesuai dengan bagian yang ditunjuk.

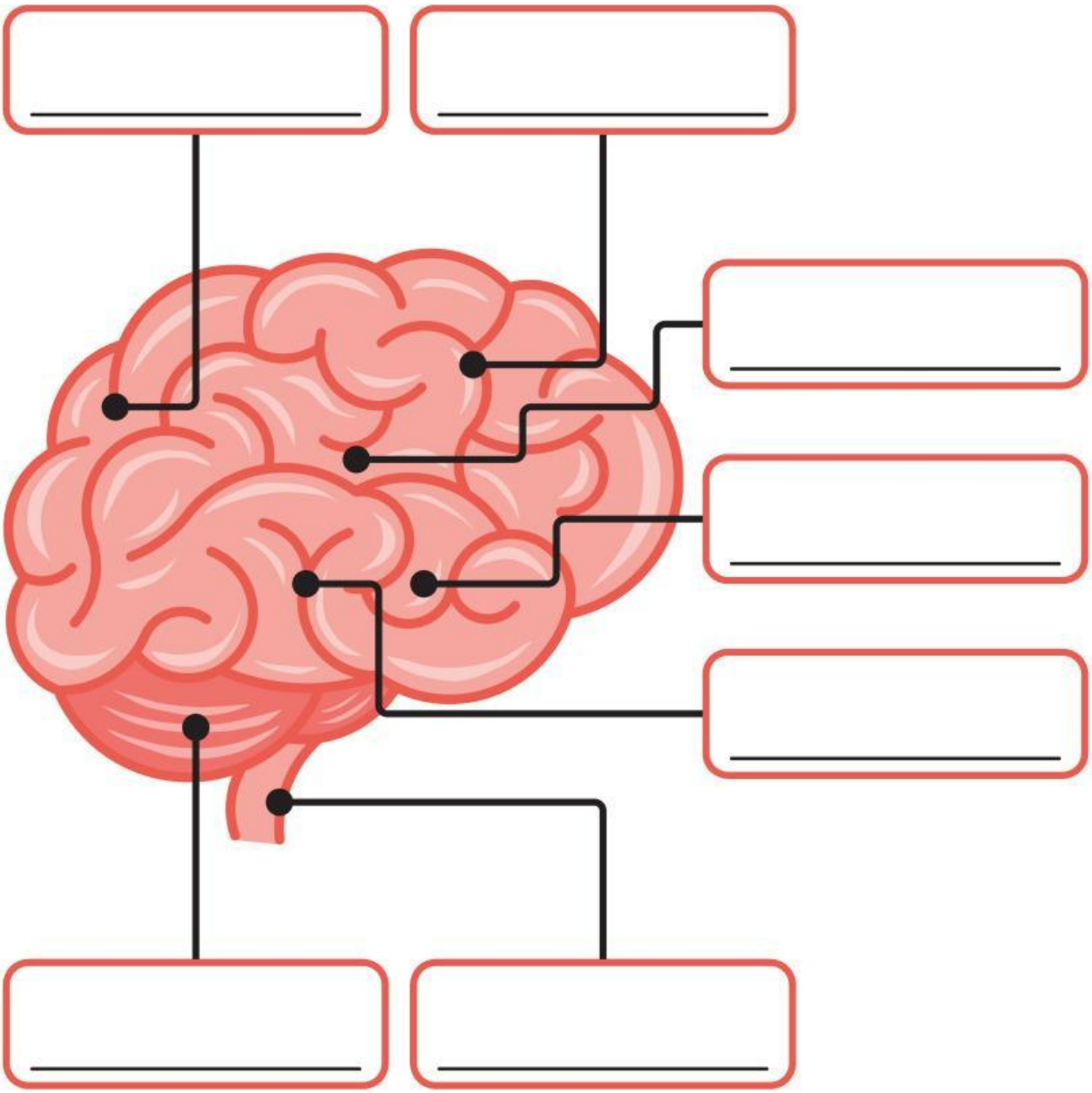

LIVEWORKSHEETS

Sumsum Tulang Belakang

Perhatikan gambar, jawablah pertanyaan di bawah ini.

Pertanyaan:

- Apa itu sumsum tulang belakang?
  Jawab: _____
- Apa bentuk dari sumsum tulang belakang?
  Jawab: _____
- Apa fungsi sumsum tulang belakang dalam sistem saraf?
  Jawab: _____
- Dimana letak sumsum tulang belakang?
  Jawab: _____

LIVEWORKSHEETS

FUNGSI PANCA INDRA

TULISKAN FUNGSI DARI ORGAN PANCA INDRA TUBUH BERIKUT!

NO	PANCA INDRA	NAMA & FUNGSI PANCA INDRA
1		....
2		....
3		....
4		....
5		....

LIVEWORKSHEETS